BCS
EYNAU
1
Biblioteca Civica
Saluzzo

XVII. e-23/2-3

1973

ies,

BIBLIOTECA CIVICA
SALUZZO

N.° d'Inventario 1973

L'ANATOMIE UNIVERSELLE

DE TOUTES LES PARTIES

DU CORPS HUMAIN,

Repréſentée en Figures, & exactement expliquée,

Par le Celebre ANDRÉ DU LAURENT.

Revuë par M. H****, Chirurgien Juré de S.t Cósme.

Ouvrage instructif, et utile aux Etudians en Medecine, Chirurgie, Sage-Femmes, et aux Peintres et Sculpteurs.

BIBLIOTECA CIVICA
XVII-e-23
SALUZZO (2)

A PARIS

Chez CRÉPY, ruë S.t Jacques, près la ruë de la Parcheminerie.
à S.t Pierre.

Avec Approbation et Privilege du Roy.

M. D. C. C. LXXXI.

Prix 5.tt

S.t Vallet ſcrip.

du corps humain.

AA. *La circonference de toute la teste depuis le menton jusques au sommet* -
B *Le front indice de la honte* -
C *Les temples, qui lors qu'elles sont chenuës decelent les ans* -
D *Le petit angle ou coing de lœil ou le canthus externe* -
E *Le grand angle ou canthus interne* -
F *La joue ou pommelle* -
G *La bouffe* -
H *Le nez externe* -
I *Les oreilles externes ou oreillettes*
K *La bouche* -
L *Le menton* -
M *Le col* -
N *Les clavicules* -
O *Les mammelles* -
P *Le sternon ou brechet* -
Q *L'épigastre* -
R *Les hypochondres* -
S *Le nombril* -
T *La region lombaire, les lombes*
V *L'hypogastre* -
X *Les iles ou flancs* -
Y *Le penil ou motte* -
Z *Les aines* -
a *La verge, le membre viril* -
b *Le bras* -
c *Le coude* -
d *Le carpe ou poignet* -
e *Le metacarpe* -
f *La cuisse* -
g *Le genoüil* -

SUITTE DE LA FIGVRE I.

des parties anterieures

h *La greve* -
i *Le tarse* -
k *Le metatarse* -
l *Les chevilles*

LA FIGVRE II REPRESENTE

les parties posterieures

A *Le couppeau ou somet de la teste*
B *L occiput ou derriere de teste* -
C *Le muscle deltoide*
D *Les omoplates, espaules ou paslerons* -
E *La region des reins* -
F *La situation de l'os sacrum*
G *Le coccyx ou croupion*
H *Les fesses*
I *Le gras ou parties charnuës des cuisses* -
K *Le iarret* -
L *Le molet ou le gras de la jambe* -
M *Le talon*

FIG. II.

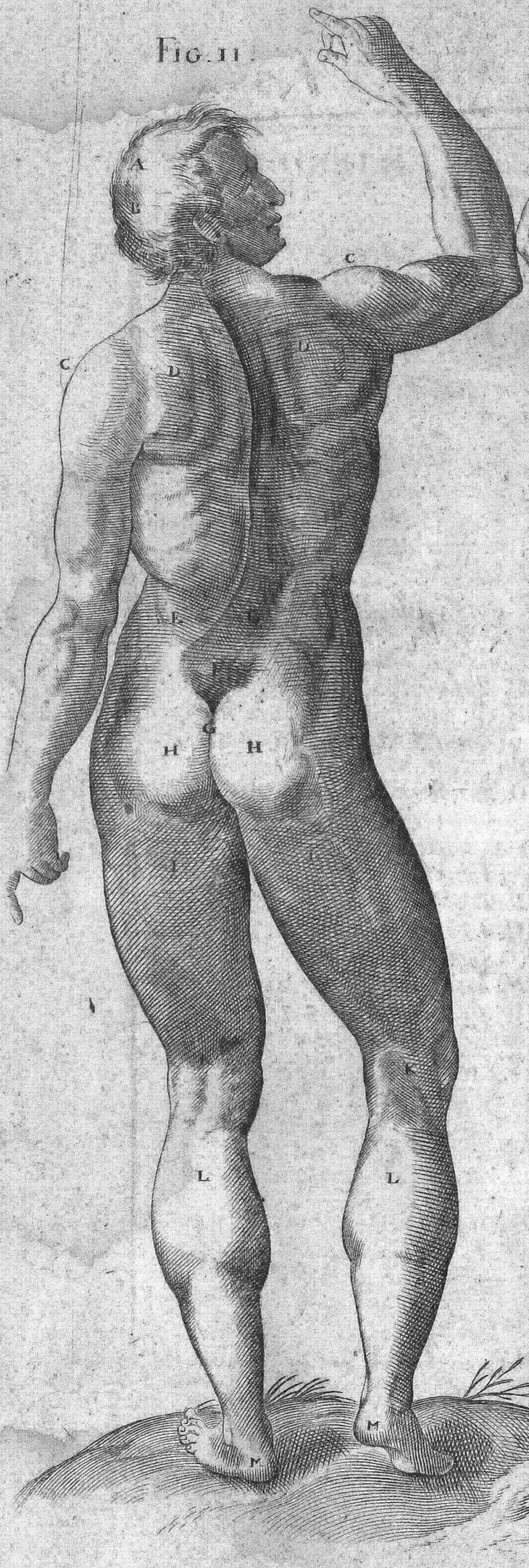

FIG. I.

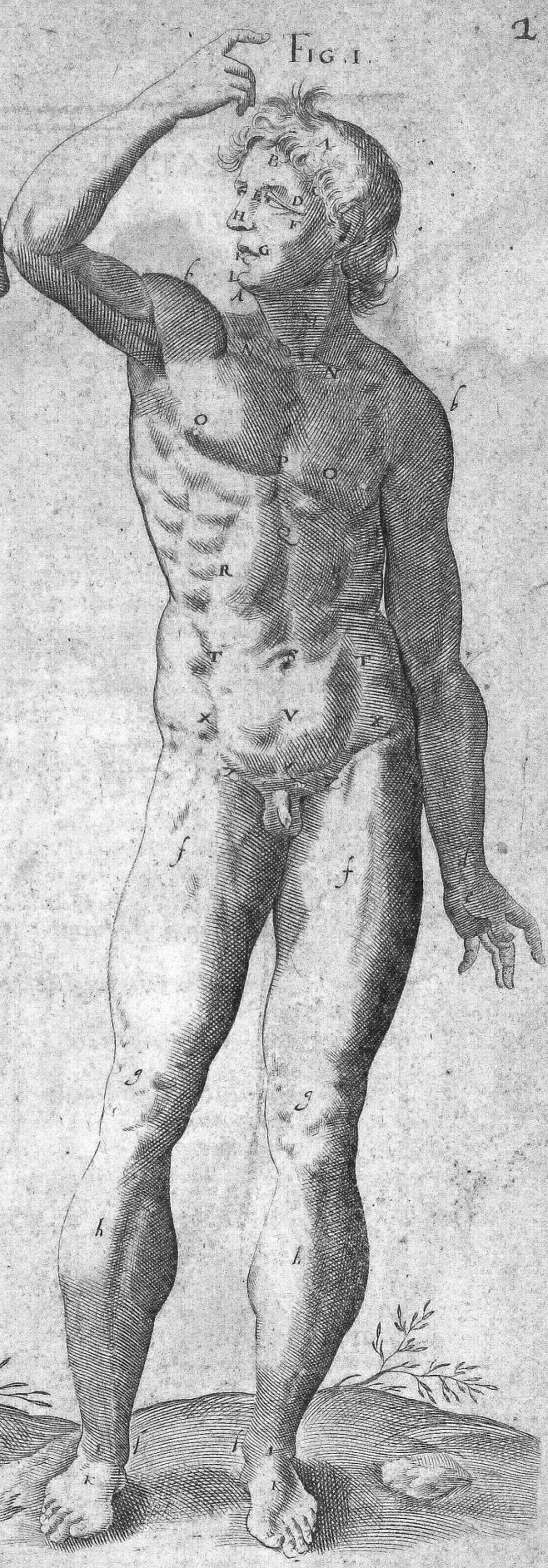

DEMONSTRATION DES OS ANTERIEURS du squelete.

A *L'os coronal, l'os du front.*
B *La sulure qui separe les os de la teste des os de la maschoire superieure.*
C *L'os jougal dit zygoma.*
D *L'os de la maschoire superieure contenant toutes les dents superieures et les incisoires.*
E *L'apophyse mastoide qui est dans la partie pierreuse de l'os des tempes.*
F *La maschoire inferieure.*
GHIK. *Ces quatre lettres montrent toute l'espine du dos qui est faite de plusieurs vertebres.*
L *L'os de la poitrine nommé sternon.*
* *Le cartilage en siforme ou xyphoïde.*
MM *Les clavicules.*
N *L'apophyse de l'espaule nommée Acromion.*
O *L'apophyse coracoide.*
P *L'espaule ou omoplate.*
Q *La teste du bras qui s'insere dans la cavité de l'omoplate.*
R *L'os du bras appellé humerus.*
S S *L'articulation du coulde.*
T *Le rayon.*
V *L'os du coulde appellé cubitus.*
XX *L'articulation du coulde avec le poignet.*
Y *Les cinq doigts.*
ZZ *Les quatre os du metacarpe.*
1.2.3.4.5.6.7.8.9.10.11.12. *Ces douze chiffres monstrent le nombre des costes desquelles les sept superieures sont vrayes et les 5. infericures fausses et bastardes.*
aa *Les os des isles ou hanches*
b *L'os ischion.*
c *Les os du penil ou pubis.*
d *La symphyse ou vnion des os du penil qui se fait par vn cartilage.*
e *Le trou de l'os ischion qui n'a point de nom, fait pour rendre l'os plus leger.*
f *La teste ronde et grosse de la cuisse qui entre dans la cavité de l'ischion.*
g *Le col de la cuisse.*
h *Le grand trochanter ou rotateur*
i *Le petit trochanter.*
k *L'os de la cuisse appellé le femur*
l *La rotule du genouil.*
mm *Les deux condyles inferieurs de l'os de la cuisse.*
n *Le genouil.*
o *L'articulation de l'os de la cuisse avec celuy de la jambe*
p *L'os de la jambe appellé tibia*
r *L'os de l'esperon ou le peroné*
q *La malleole ou cheville interne du pied.*
S *La malleole externe.*
t *Les os du tarse.*
uu *Les os du metatarse.*
yy *Les doits des pieds ou orteils*

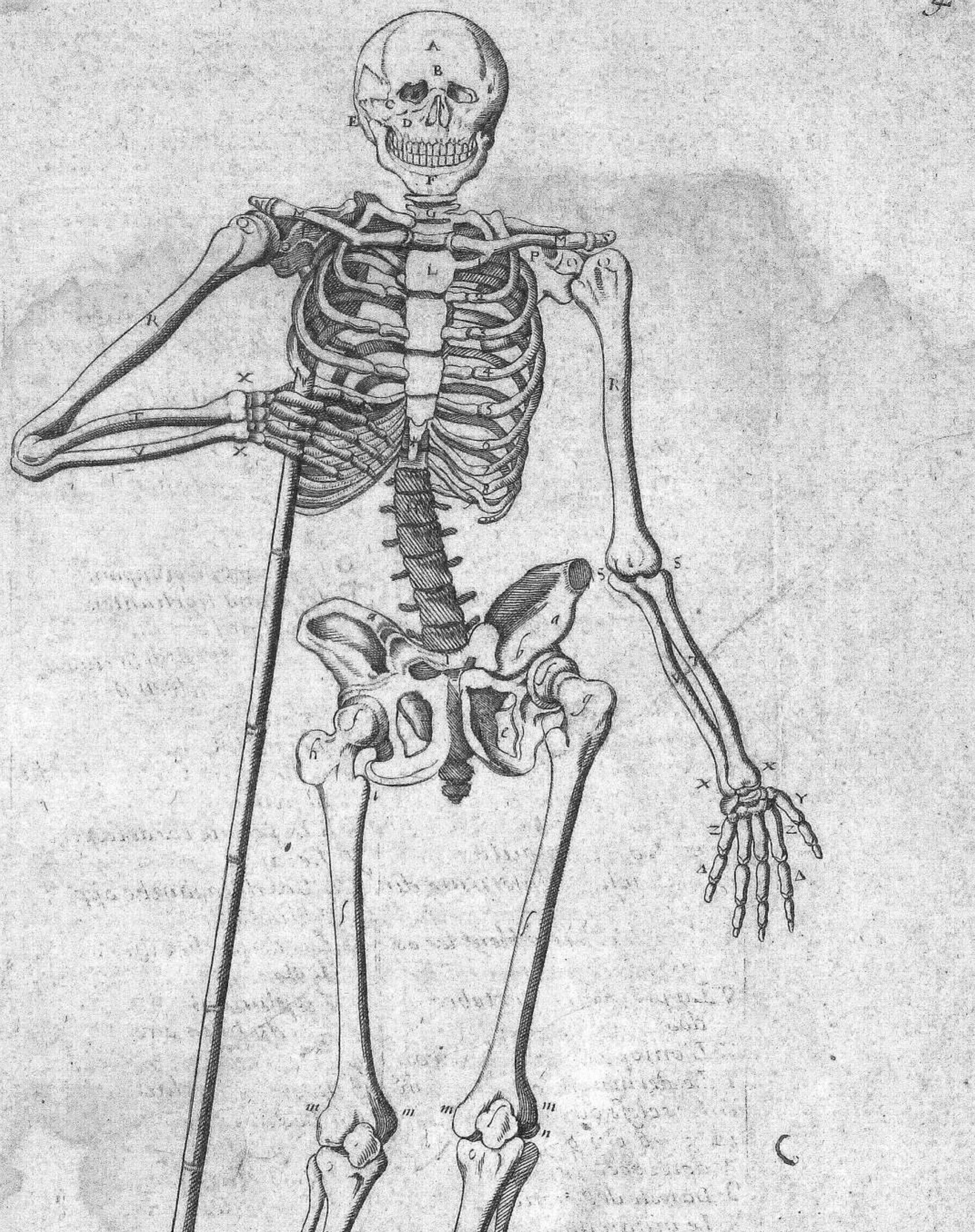
A
B
C
D
E
F
G
L
M
N
O
P
Q
R
S
T
V
X
Y
Z
Δ
a
b
c
d
f
h
m
n
Fa: de Wreat fe

TABLE DES OS POSTERIEVX et lateraux

A Les os nommez Parietaux.
B La Suture Coronale.
C L'os du frant.
D Les os des temples.
E Les productions de l'os = Sphenoïde.
F L'os iugal ou zygoma.
G La maschoire inferieure.
H La place de la Suture = lambdoïde.
II Les deux apophyses de la = maschoire inferieure l'vne pointuë on la nomme Coronoïde, et lautre est Condiloï de, par la quelle se fait son articulation avec les os des temples.
K K. Le metacarpe.
L. Le Carpe fait de huit os.
M M. L'os du coulde.
N L'apophyse inferieure du Coulde.
T Comme s'assemblent les os du coulde.
V La premiere vertebre du dos.
X L'omoplate ou pasleron
Y Le sternon ou l'os de la poictrine
Z Les clefs ou clavicules
1 2 3 4 5 6 7 8 9 10 11 12 Les douze costes
a La teste de l'humerus
b Le mitan du bras
C La partie inferieure du bras qui se termine en deux apophyses
d L'olecrane
e e e Le rayon
f Les doigts de la main
g La premiere Vertebre des lombes
iii Le circuit de l'os innominé
kk Les os ilion ou des hanches
l Le coccendix
m n La Symphise ou connexion des os du penil qui se fait par Synchondrose
o Le Coccyx ou croupion
P Le grand trochanter
q Le col de l'os de la cuisse
r La teste de l'os de la cuisse
s Le Sinus ou trou de l'os innominé
tt Les os de la cuisse
uu La rotule ou palette du genoüil
X X Le peroné l'os de l'esperon
y Le iaret
ZZ L'os de la iambe appellé tibin
II Les deux chevilles ou malleoles
2 La plante du pied
3 L'os du talon ou taleaneum
4 L'astragale
5 L'os nauiculaire
66 Les trois derniers os du tarse ou innominés
77 Le metatarse
8 8 Les os des doigts dîposez en trois rangées

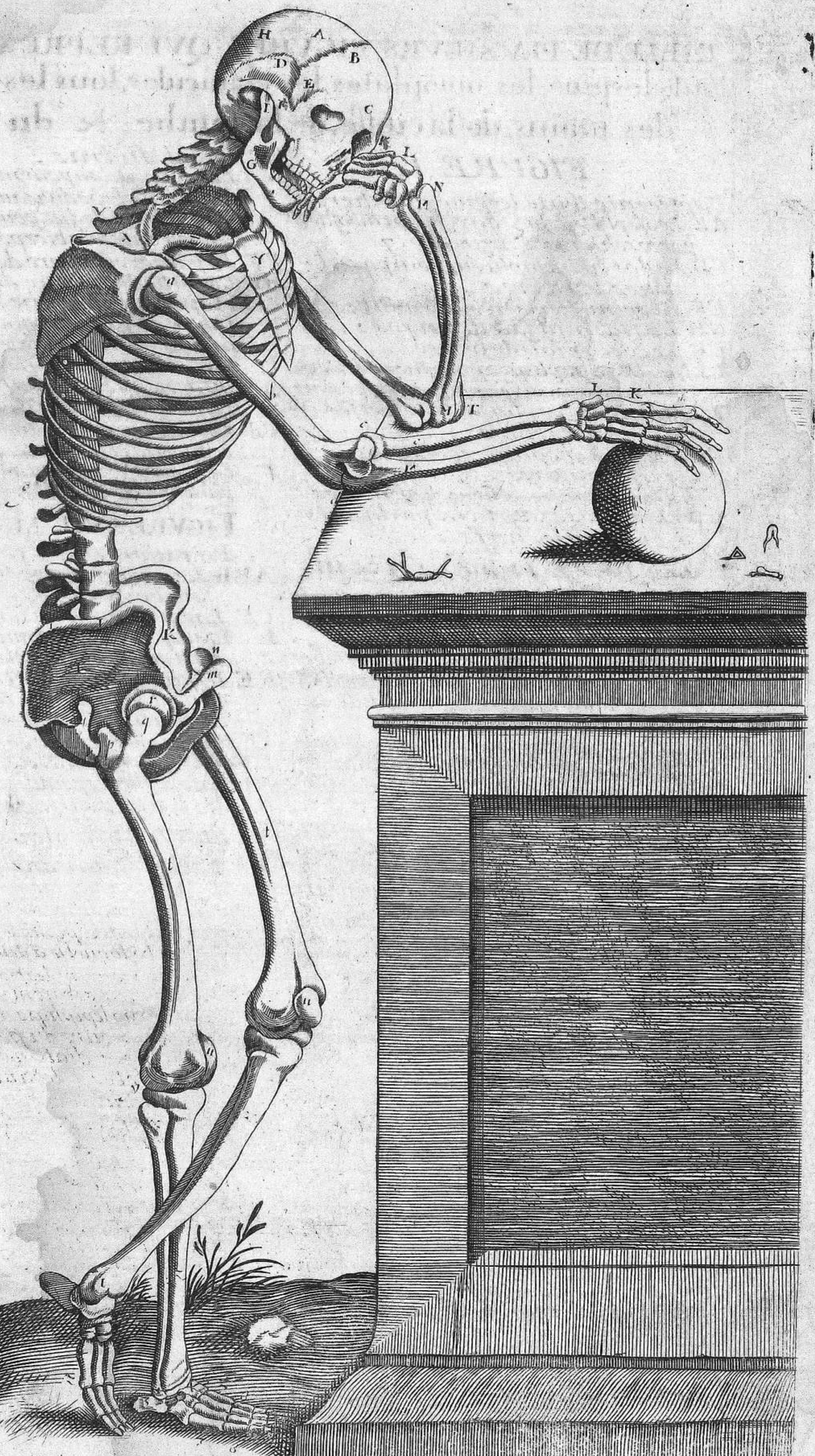
H
A
B
D
E
C
G
L
N
M
L
K
K
n
m
t
t
t

TABLE DE PLVSIEVRS FIGVRES QVI REPRESENTE toute l'espine, les omoplates, les clauicules, tous les os dubras des mains, de la cuisse, de la iambe, & du pied

FIGVRE I.

Represente toute lespine en entiere

AB. *Les sept Vertebres du col sont monstrez par ces chiffres 1. 2. 3. 4. 5. 6. 7.*

CD. *Le dos ou metaplure ne composé de douze vertebres -*

EF. *Les cinq Vertebres des lombes -*

GH *L'os sacrum fait de cinq os -*

I K *Le coccyx fait de trois os -*

LLLL. *Les apophyses pointuës des Vertebres nommées proprement espine*

MMMM *Les apophyses transverses des Vertebres -*

NNNN *Les apophyses obliques = superieures -*

OO *Les apophyses obliques inferieures*

PP *Les trous des Vertebres par lesquels sortent les nerfs -*

LES DEVX FIGVRES II & III.

monstrent l'os sacrum et son extremité

Abcdef. *Les 5 vertebres de l'os sacrum -*

GHIk. *Les 3 os du coccyx*

A *L'apophyse superieure de la 1r. vertebre*

B *La sinuosité entaillée en ladite vertebre*

CCCC *La cauité po.r Contenir la medule = spinale -*

DD *La cauité dans laquelle s'insere l'os ilion*

EE *La partie exterieure de la dite cauité -*

FF *Les apophyses superieures de l'os sacrum*

G *nommez espines -*

G *Le cartilage pendant au bout du coccyx*

ILLR *Les apophyses transuerses*

M *L apophyse superieure de la prem.e vertebre*

HIK *tout l'os du coccyx despeint en la figure III.*

LES 3 FIGVRES IIII. REPRENTE SE

l'omoplate et ces parties qu'il faut remarquer

AA *La cauité superficielle dans laquelle s'insere la teste du bras qui fait l'articulation arthrodiale BB le col de l'omoplate -*

CD *L'apophyse coracoïde ou anchyroïde -*

EF. *2.e apophyse de l'omoplate ou s'insere la clavicule nommée Acromion*

G *La cavité qui est en la partie externe de*

H *l'omoplate II L'espine de l'omoplate -*

HH *L'angle superieur de l'omoplate -*

kk *La cavité qui est joignant l'espine -*

LL *Le bout de la base de l'omoplate -*

MM *La partie caueN. le bout de langle inferieur*

LA FIGVRE V. REPRESENTE les Clauicules

AAA *La teste de la clavicule qui est articulée avec le sternum -*

BB *La partie qui est articulée avec l'omoplate*

CCC *Lignes entaillées aux clavicules*

LA FIGVRE VI. REPRESENTE les os du bras

AA *Le teste du bras qui s'insere dans la cavité glenoïde de l'omoplate*

BC *Le col du bras -*

D *La sinuosité, ou pour mieux dire la faissure du bras divisant quasi l'os en deux parties de diez pour recevoir le tendon du muscle biceps*

EF *La partie posteneure de l'os*

HI *La partie antericure de l'os*

KLM *La partie de l'os cambre et enfoncée*

N *La ligne ou espine servant à l'origine des muys des*

O *La cavité qui recoi la teste du coulde*

P *L'autre cavité opposée a la premiere qui recoit*

Q *les apophyses du coulde*

q *La poulie qui est au bout de l'os*

RR *Les deux apophyses inferieures du bras l'externe et l'interne*

T *La 3.e apophyse qui est au milieu des deux par le moyen des quelles se fait le ginglyme*

FIGVRES VII. Monstrent l'os Du rayon et du coulde

ABB. *Les apophyses pointuës qui sont au bout de l'os du coulde*

CC *La cavité qui reçoit la poulie du bras*

D *Les asperitez de l'os qui servent à l'insertion des muscles -*

EE *L'epiphyse ronde et caue du rayon qui fait la pronation et supination de la main -*

FF *Le col de l'epiphyse -*

GG *Les asperitez la scissure du rayon*

HH *Les apophyses pointuës* II *L'olecrane*

KK *La partie pleine et egale -*

FIGVRE VIII. Montre les os de la jambe

AA *La partie interne de l'epiphyse superiure de l'os de la jambe laquelle a deux cavitez superficielles qui reçoivent les testes inferieures de l'os de la cuisse nommée condyles*

BB *La ligne qui separe l'epiphyse de l'os -*

C *L'epiphyse superieure du perone, laquelle touche immediatement l'epiphyse superieure de l'os de la jambe -*

D *En cet endroit sont attachez et comme affichez les 4 muscles qui estendent la jambe* EEEE *Les distances et separations qui sont entre l'os de la jambe et le perone dans quelles il faut remarquer les lignes, angles et espines -*

FFFF *Les lignes et apophyses aiguës qui sont apparentes en l'os de la jambe -*

GGGG *D autres fentes qui sont au même os*

HH *La premiere ligne du perone -*

I *La deuxieme* KK *La troisieme -*

LL *L'epiphyse inferieure de l'os de la jambe*

M *L'apophyse inferieure de l'os de l'espe= ron faisant la cheville externe*

N *L'apophyse inferieure de l'os de la = jambe faisant la cheville interne*

O *Les 2 cavitez superficielles qui reçoi= uent le premier os du pied nommé Astragal -*

FIG. I.

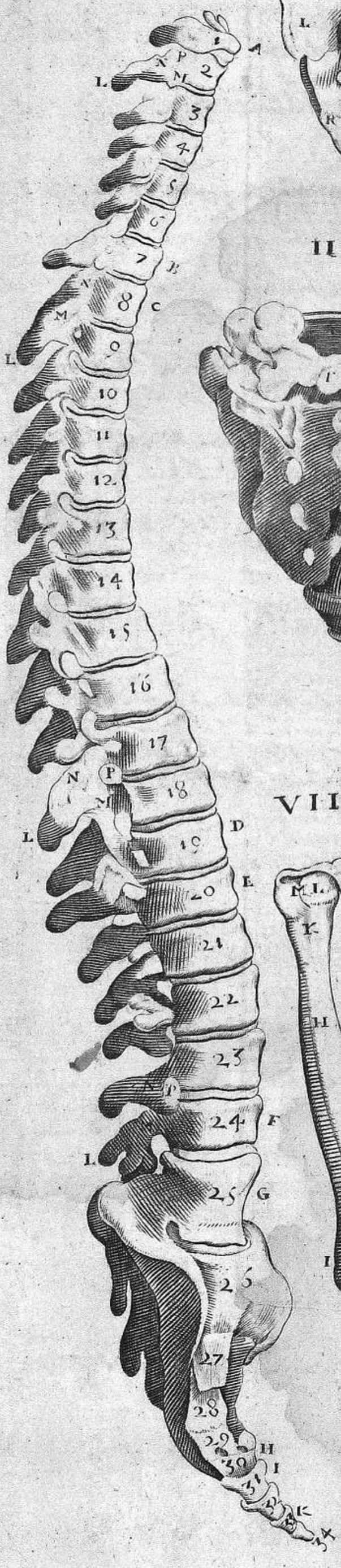

II

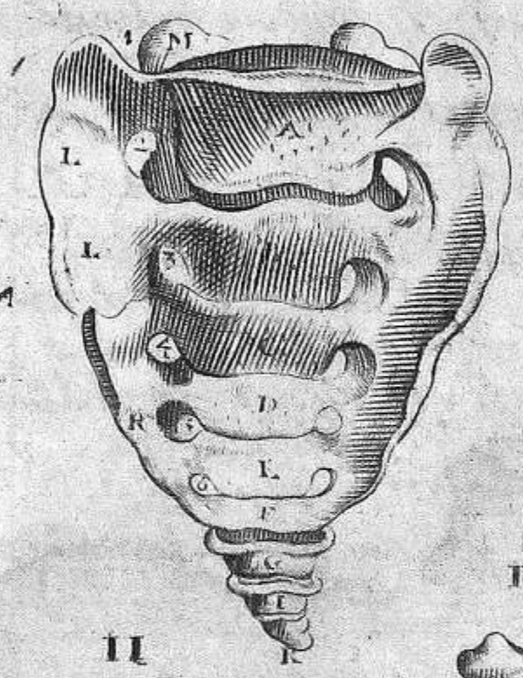

IIII

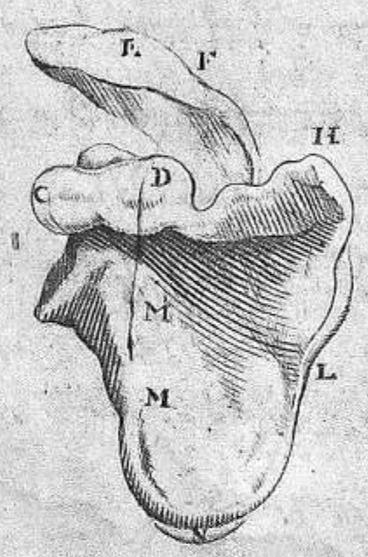

IIII

IIII 8.

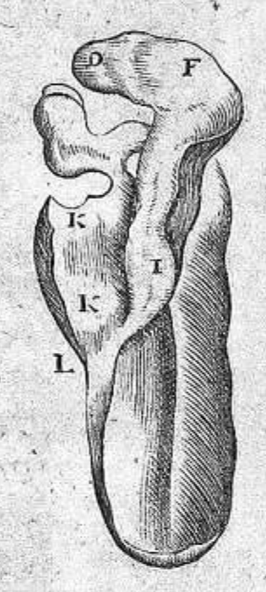

III

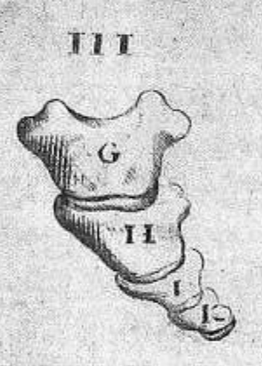

V

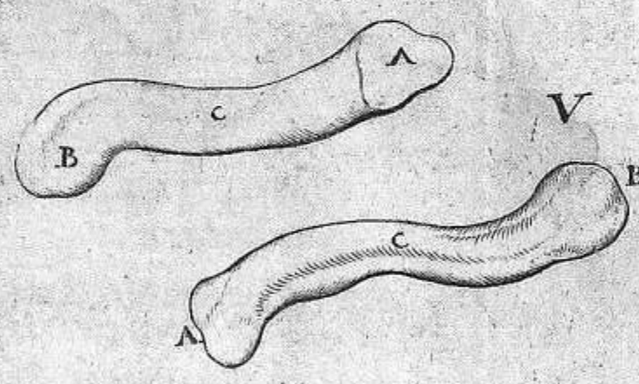

VII

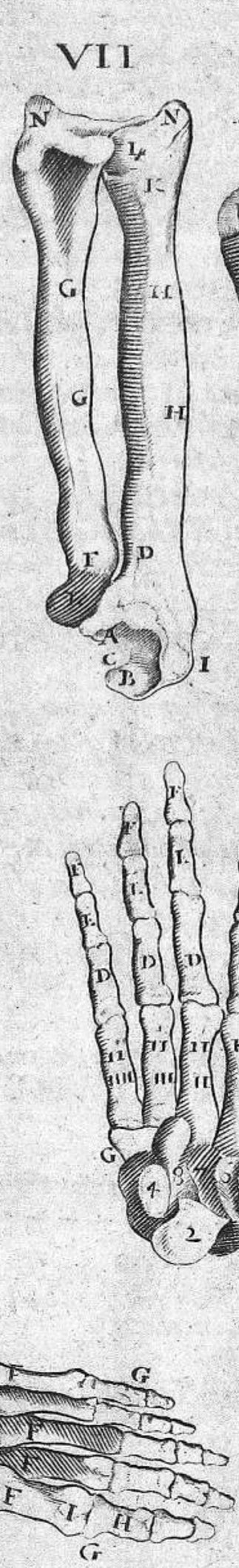

VI

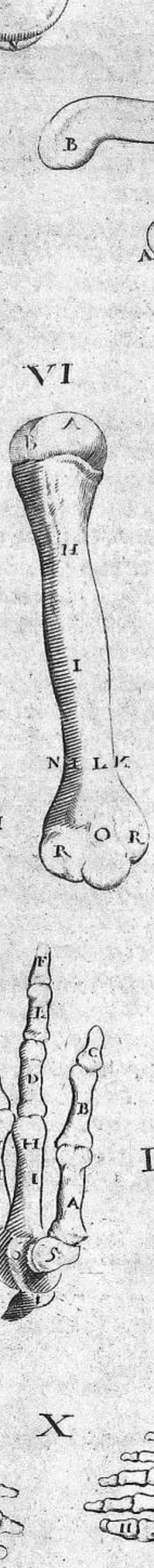

VII

VIII

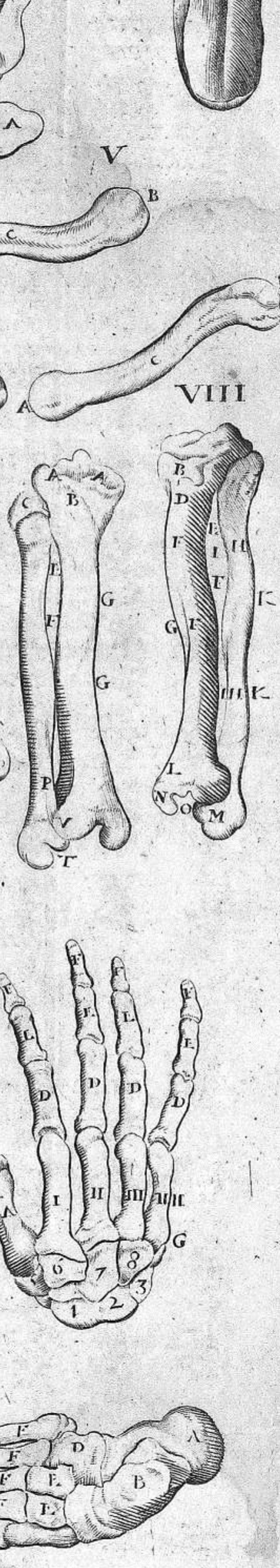

IX

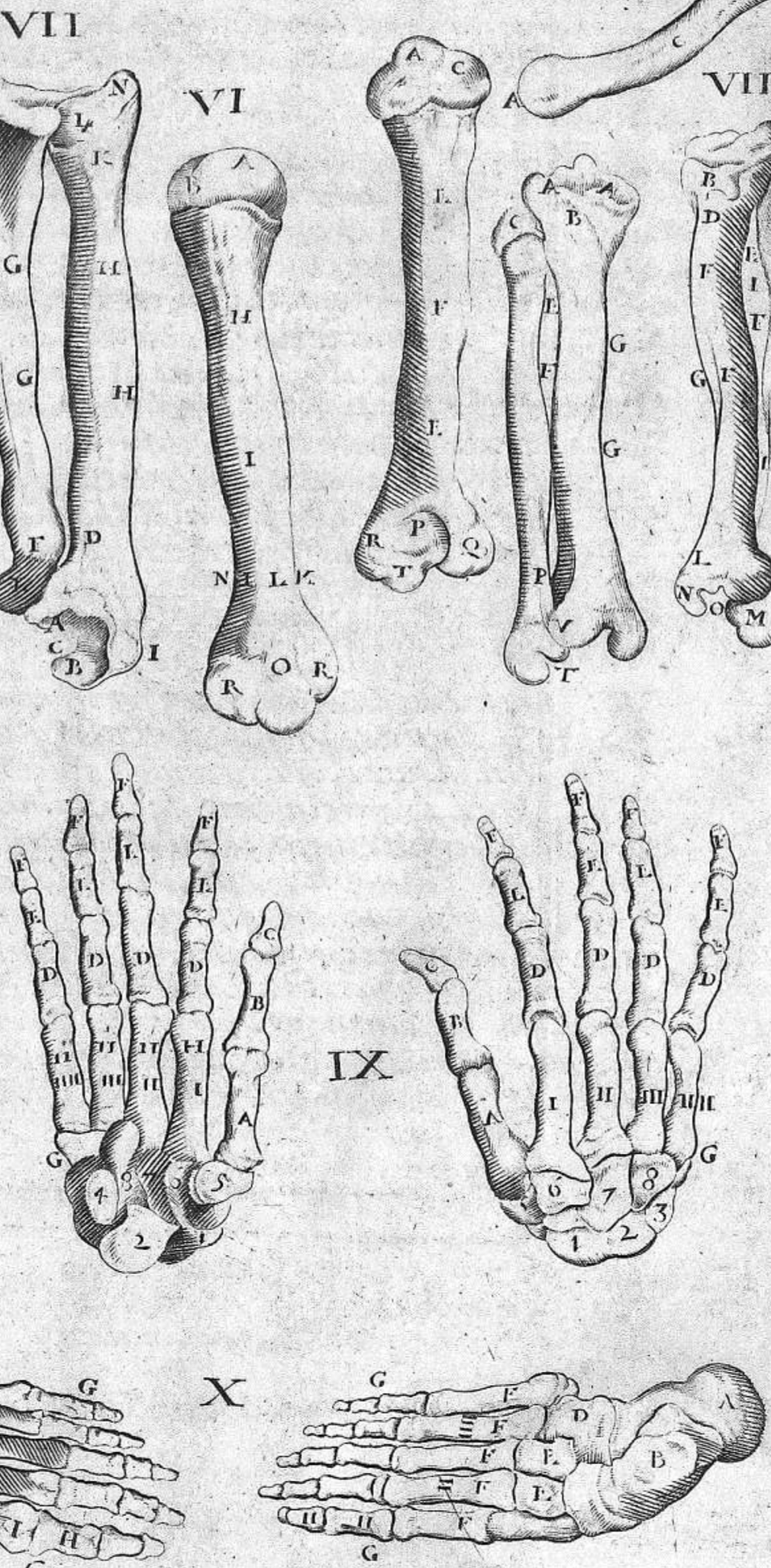

X

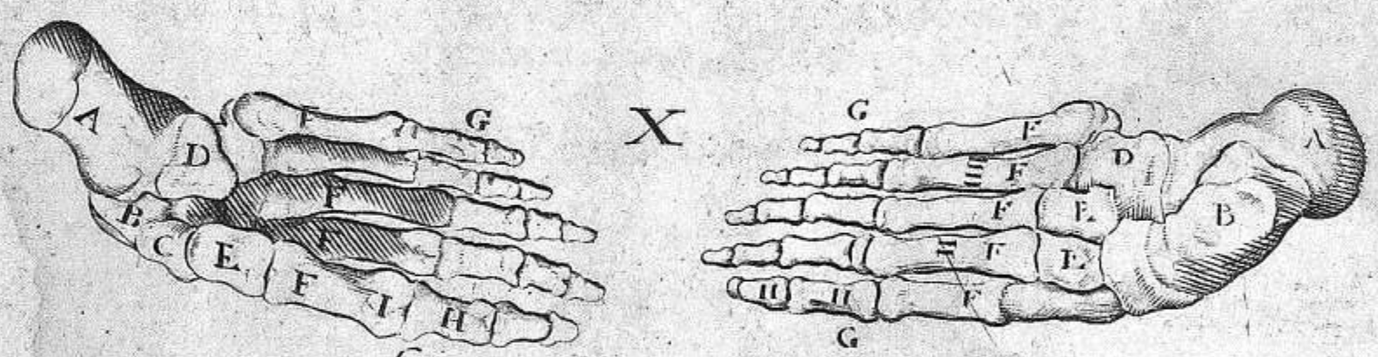

P 9. La connexion des deux os de la fossile par leur partie inferieure.

Q La cavité qui est en l'epiphyse inferieure du petit fossile, de laquelle sort vn ligament tres fort qui est porté à l'os astragal.

LA FIGVRE IX. Montre tous les os tant internes qu'externes de l'extreme main

1 2 3. 4 5. 6 7 8. Les huict os du carpe separez en deux ordres qui n'ont point de noms propres, desquels les quatre premiers sont articulez avec le coulde et le rayon, et les quatre autres auec le metacarpe

I-II-III-IIII. Les quatre os du metacarpe qui sont articulez par leur partie inferieure avec le carpe par synarthrose: c'est a dire par vne articulation compacte et fort serrée, laquelle apres Galien nous appellons neutre et douteuse: Car elle est diarthrose si on a egard a la maniere de la composition parce qu'il y a des testes et des caviter mais elle est synarthrose à raison du mouuement qui est tres obscur.

A B C Les trois os du poulce.

D D D D La premiere rangée des os des doigts.

E E E E La deuxieme rangée F F F F La troisieme rangée

H H H Les os sesamoïdes qui rendent l'articulation plus ferme et plus aseurée.

LA FIGVRE X. Monstre tous les os du pied

L'os du talon, nommé aussi Astragal, noix d'archa
A A leste et quatrio, a raison qu'il a quatre costez.

B B L'os calcaneum.

C C L'os scapoïde ou naviculaire, ainsi dit, parce qu'il resemble à vn esquif ou batteau de nef.

D D L'os Cuboïde, ainsi nommé, parce qu'il est quarré

E E E Les trois os appellez de quelques vns chalcoïdes. c'est a dire cuneiformes.

F F F F Les cinq os du metatarse, la composition des quels est presques semblable à ceux du metacarpe

G G Les jointures des cinq orteils, qui son disposées en mesme ordre que les doigts de la main: chaque orteil estant de trois os, excepté le poulce ou gros orteil, qui n'en a que deux.

* Les os sesamoïdes affermissans les articulations des orteils. On auoit obmis quelques particularitez en la figure des os du coulde, que l'on trouera en cet endroit.

L La partie interne de l'epiphyse inferieure de l'os du coude qui est cavee et est articulée au carpe.

M La apophyse styloïde de ladite epiphyse.

N La partie superieure de l'epiphyse inferieure du rayon qui a en son extremité deux caviter qui reçoiuent les os du carpe.

** Comment le rayon et le coude sont separez en leur milieu pour faire place aux muscles et iointz par leurs parties superieures et inferieures.

TABLE DES OS ET DES CARTILAGES des enfans nouueaux formez et nais.

FIGVRE I. Est vn enfant agé de 18 mois.

A L'os du front separé en deux parties égales par vne suture qui descend iusques aux narines.

B La partie squammeuse de l'os des temples osseuse en son milieu et membraneuse en son circuit.

C La separation de la maschoire inferieure qui se fait par vn cartilage.

D D Les vertebres du col.

E les os du sternon qui sont E cartilagineux.

F Les extremitez de l'os ilion qui sont cartilagineuses

G La teste de l'os de la cuisse qui est molle et cartilagineuse.

H Les trochanteres qui sont epiphyses et mols.

I La rotule du genouïl qui est toute cartilagineuse.

FIGVRE II.

represente les os tendres d'vn enfant abortif de deux mois qui sont beaucoup plus cartilagineux que ceux de l'enfant cy dessus representé.

FIGVRE III.

represente vn fœtus de zo jours, dêja articulé et formé tous les os duquel ressemblent a du beure ou a du fromage caillé.

a L'ouuerture qui est en la partie superieure du crane que le commun peuple appelle la fontenelle ou fontaine de la teste, et les Arabes zudech, où l'on voit le cerveau anterieur se mouuoir

b b Les extremitez du bras totalement cartilagineuses.

C C Les epiphyses du coulde et du rayon molles et quasi separées des os qui fait quelques fois luxation

d d Les epiphyses des os de la cuisse et de la iambe.

e e Les os du tarse du tout cartilagineux.

FIGVRE IIII

represente la partie externe du crane

A A L'os occipital divisé en quatre parties.

B B Le trou de l'os occipital qui est tres grand et dedié a la medulle spinale.

C C C L'os sphænoide distingué en quatre parties.

D D D Les alueoles ou mortaises des maschoires dans lesquelles les dents sont fichées mesme aux petits enfançons.

LA FIGVRE V.

monstre la partie interne du crane de l'enfançon.

III

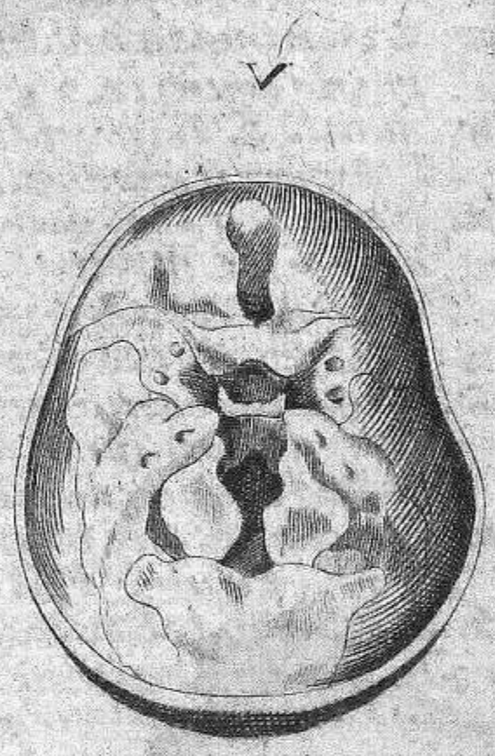

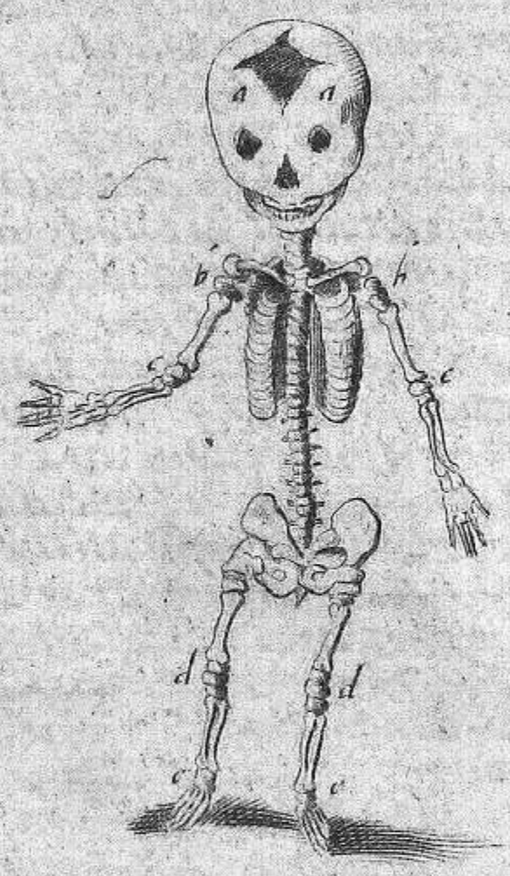

IIII

II

Fig. I.

Jouillet Sc

TOVS LES RVISSEAVX DES VEINES ET ARTERES LEVRS naissance & leurs insertions.

FIGVRE I.

AAA Le diaphragme
B Vne portion du pericarde
C La situation du cœur duquel naissent toutes les arteres
DDDD Les quatre aisles ou lobes du poulmon
E la trachée artere
F La partie gibbeuse du foye
GG La partie cave du foye
H La vesicule du fiel
QR Les deux reins le dextre et le senestre
T La situation de la veine cave entre le diaphragme et le cœur VX la base du cœur
Y La pointe du cœur
a Le tronc de la veine cave s'ouurant d'vne tres grande ouuerture dans le ventricule dextre du cœur
b L'oreillette dextre du cœur
c L'oreillette gauche
d Le tronc de la veine artereuse
e rameaux de l'artereveineuse et de la veine arterieuse
f Le tronc de la grosse artere
g Le rameau soubsclavier naissant de la grosse artere.
i La portion plus grande et plus apparente de ce rameau qui se fourchant en deux fait la carotide.
kl La dextre et la senestre marquées par ces lettres kl.
m L'artere axillaire
nn Les nerfs qui vont au diaphragme par lesquels se fait la sympathie admirable qui est entre lui et le cerveau.
o Le commencement de la veine sans pair. pq Division de la veine cave ascendante en deux rameaux notables.
1 La iugulaire interne.
2 2 La iugulaire externe.
4 Division de la iugulaire externe
5 La veine auriculaire qui passe par les temples diuisée en deux rameaux. 7. Le rameau faisant la veine du front.
9 Le nerf recurrent gauche.
10 Les rameaux de la veine cephalique
11 La veine cephalique.
12 La veine basilique.
13 Fourchement de la cephalique
14 Petit rameau de la cephalique qui manque quelquesfois.
15,16,16. Rameau de la cephalique faisant la mediane.
17 La basilique descendant au bras
18,19 Division de la basilique
20 Le rameau de la basilique faisant la mediane.
21 La veine commune ou mediane
22 23 Basilique profonde diuisée en deux rameaux
24 Rameau de la mediane alant
25 au petit doigt et faisant la salvatelle marquée par ce 25.
26 quelques rameaux de l'artere qui accompagnent les rameaux
27 Petits scions qui se trainent a la peau. 28 Comment la cepalique et la basilique se distribuent diversement dans quasi toute la main
1 Le tronc de la veine porte
2 Les cystiques qui sont gemelles
3 Le conduit de la vesicule
* Les nerfs et arteres du foye
4 La grande artere
5 Les rameaux de la grande artere qui accompagnent quasi partout les rameaux de la veine porte. 7. la veine adipeuse
8,9. Les deux emulgentes ou renales
10,10 Les veines spermatiques la dextre sort du tronc et la senestre de l'emulgente. u.u. les 2 arteres.
12 La grande artere décendante
q L'origine des arteres spermatiques
13 Le meslange des veines et arteres Spermatiques. a Les veines et arteres lombaires.
b Division de la veine et de l'artere
c Les arteres sacrées. d Le rameau iliaque. e La veine musculé
g La veine sacrée. h La V. honteuse
i La veine hypogastrique
n La naissance de l'artere vmbilical
l Le rameau épigastrique
mm La saphene et ses rameaux
n La petite sciatique. o La musculé externe. p La musculeinterne
r La veine crurale. s t La veine poplitique et ses rameaux, V:. Sa division au iaret.
XY Deux rameaux externes venans de la petite sciatique
Z Vn rameau naissant de la veine crurale. 3.4. La veine Surale. 5. La grande sciatique

la Figure II. montre la veine azygos ou sans pair.

Figure III. Montre le consentement qui est entre les mamelles et la matrice par les veines épigastrique et mammaire.
1. Le rameau épigastrique qui s'en va iusques au nombril
a b. Les veines mammaires

Figure IIII.

A Le tron de la veine porte
B. L'artere entrant au foye
C. L'artere et le nerf qui se distribuent dans la vessicule
D. la veine cystique
EF. la veine et l'artere gastrique
G. le conduit de la bile qui s'en va au costé du boyau Duodenum
H. les veines et arteres gastrépiploiques. I. le rameau mesenterique K. le rameau splenique
L la veine et l'artere intestinale
M le tronc de la veine porte
N la veine coronaire stomachique
O. L'epiploique dextre
P Q l'epiploique posterieure
R La petite gastrique
S les ruisseaux du rameau splenique qui se distribuent partoute la ratte
T le vas breue ou venosum
V la ratte. XX les veines du mesentere 22. les arteres mesaraiques. Y les veines hæmorrhoidales
333. les glandes du mesentere

Figure V.

AA la plus grand partie du foye
B la veine vmbicale

Figure VI montre les vaisseaux des testicules.

AA le testicule 99 la membrane dartos enuelopant le testicule
2 le muscle suspensoire
3.4. les replis du vaisseau éiaculatoire. 5 le testicule couuert de sa membrane propre
6.7. L'pididyme

Figure VII.

A Le nombril.
B La veine vmbicale.
C L'ourachos venant du fonds de la vessie lequel ne se trouue point dans les bestes a cornes
DD Les deux arteres vmbilicales qui viennent des arteres iliaques.
E La vessie. F. Les urteres.
G Les prostates.
H L'hourethra ou conduit comun a la semence et a l'vrine

Figure VIII.

A Le nombril B. La veine nourrice de l'embrion ditte vmbicale, C. L'ourachos.
D Les arteres vmbicales.
EE Les prostates.
F Le conduit comun a la semence et a l'vrine, G. Le muscle sphincter faisant office de portier, H La verge ou membre viril. Figure IX represente la matrice et ses vaisseaux dont on trouuera cy apres vne representation plus grande
a Le fonds de la matrice
b L'orifice interieur de la matrice
c Le col de la matrice
d L'orifice du col auquel se voit le conduit par lequel l'vrine sort de la vessie, e Grand nombre des branchettes des veines et arteres honteuses qui se terminent au col de la matrice ff les montagnettes au milieu desquelles se trouue vne fente sur qui fait la grande fente
8 Comment les vaisseaux spermatiques descendent et remontent par la proction du peritoine
9 Les vaisseaux éiaculatoire
10 Les petits rameaux naissans des veines et arteres spermatiques
11 Les veines spermatiques se parées.
12 Les conduits vrinaires
13 Comment les vaisseaux éiaculatoires vont et s'assemblent aux testicules

II

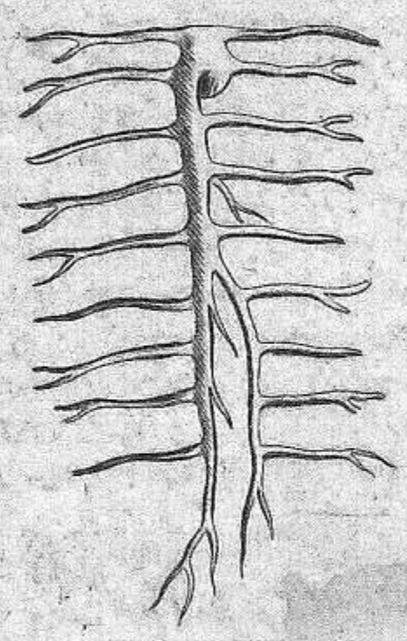

FIG. I.

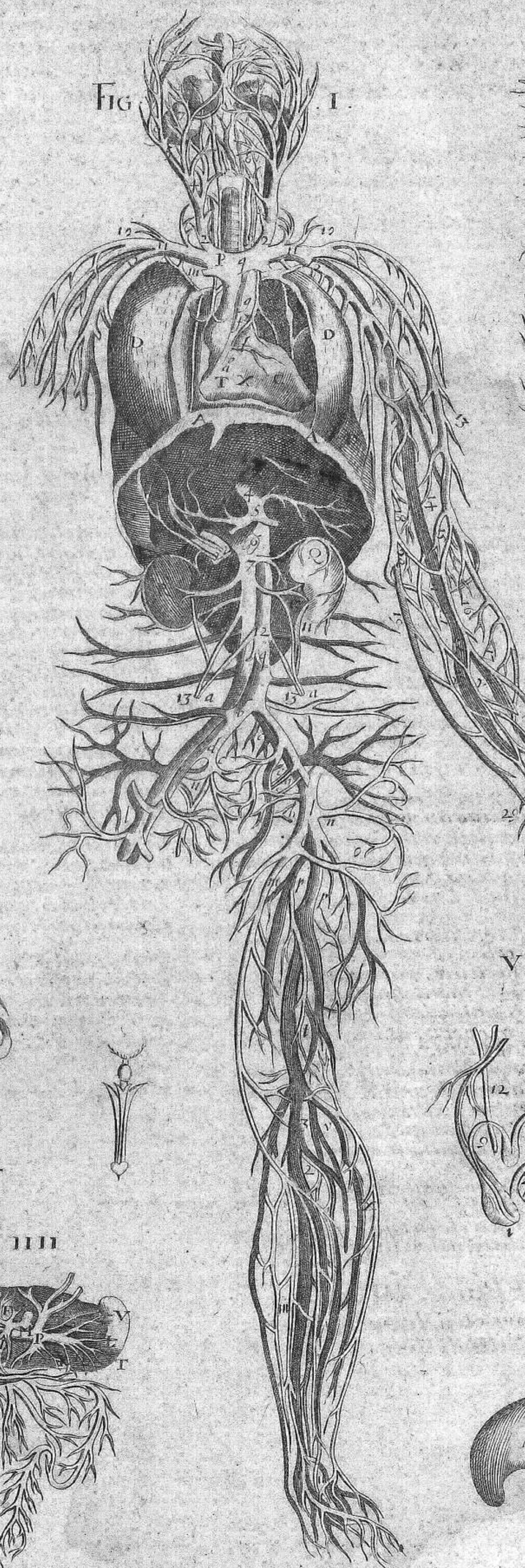

III



VIII

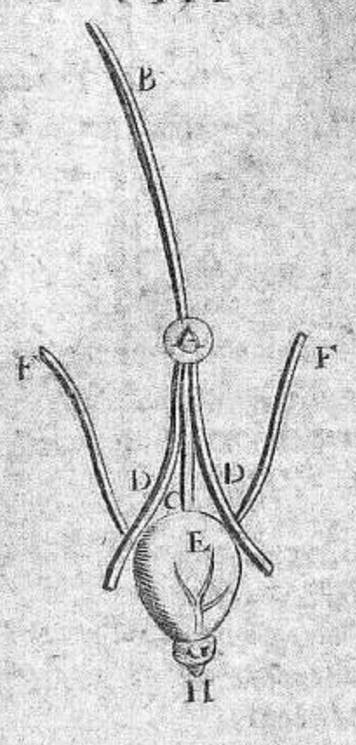

VII

IX

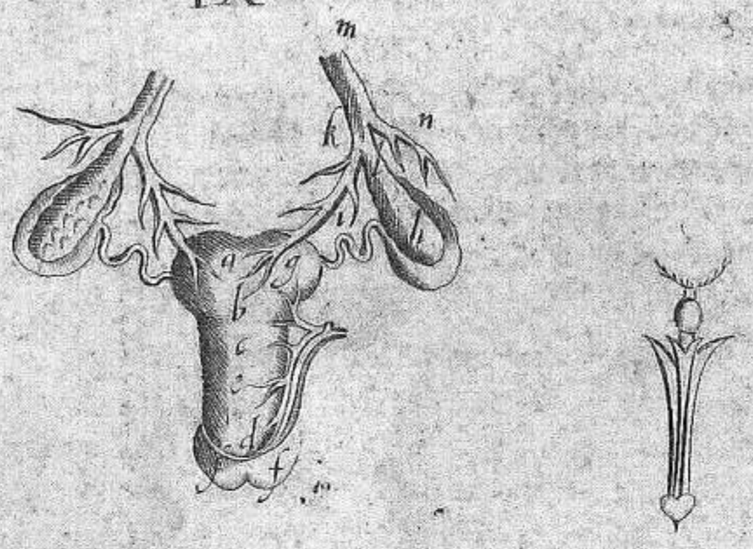

VI

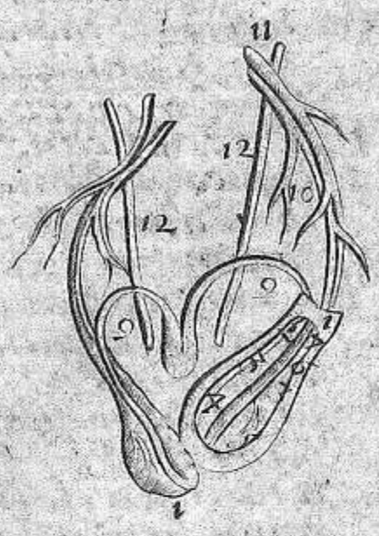

IIII

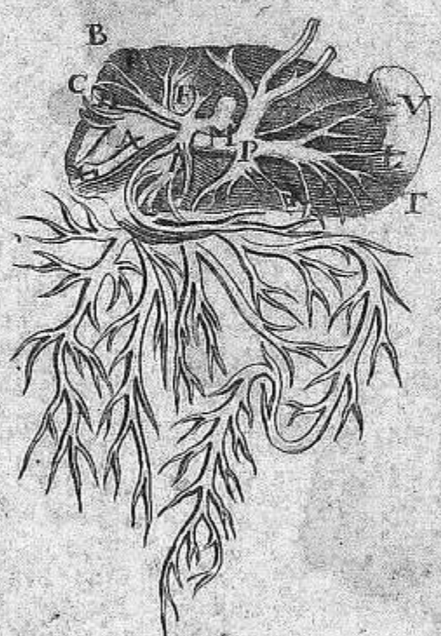

V

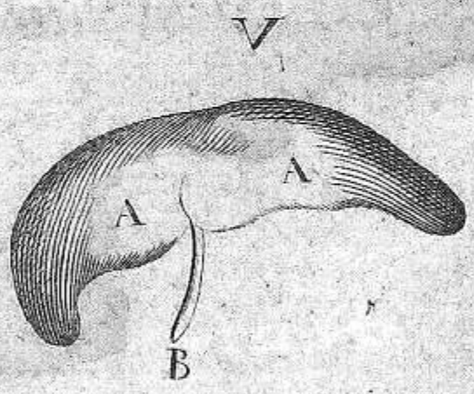

LES RACINES DES VEINES CAVE ET PORTE ET LES ANASTOMOSES QVELLES FONT ENTRE ELLES QVI SONT en grand nombre, et qui on t été inconnuës aux anciens.

Figure I.

qui represente les racines de la veine cave et de la porte épar ses dans le foye qui s'unisse en luy

AAAA Ce sont les plus notables racinê de la veine cave.
B le tronc de la veine cave ascendan te
CC tronc de la veine cave descendante
DDD racines de la veine porte
EEEE les anastomoses des veines cave et porte, car ces deux veines s'unissent en plusieurs lieux et le sang passe et repasse librement de la veine cave dans la porte, et de la porte dans la cave

Figure II.

montre les rameaux de la veine cave ascendante et la communion des veines thoraciques avec quelques rameaux de la veine sans pair:

a le tronc de la veine cave ascendan te
b la veine azygos ou sans pair
dd les veines intercostales qui nourissent les costes superieures
cc les rameaux soubs claviers
eee les veines thoraciques qui arrousent les muscles anterieurs de la poictrine et les mammelles
ffff les rameaux des veines thoraciques qui s'unissent par anastomose avec les branches de l'azygos
g g le rameau axillaire
h h la veine basilique ou interne
i i la veine cephalique humeraire ou externe
k k la mediane, que les Arabes nomment veine noire
ll le rameau de l'azygos qui a communication avec l'emulgente

Figure III.

represente tous les rameaux de la veine porte

A le tronc de la veine porte sortant hors du foye
BBB les racines de la veine porte espar ses dans la chair du foye
CC les cystiques qui sont gemelles
D la veine gastrique qui va à l'orifice du ventricule
E division de la porte en deux no tables rameaux nommez Splenique et mesenterique
F le rameau Splenique qui est au coste gauche et plus esleué
G le rameau mesenterique qui est au costé dextre et plus grand
H la coronaire stomachique qui ceint l'orifice du ventricule
II division du rameau Splenique sen allant a la ratte
LL le rameau hæmorrhoïdal qui fait les hæmorrhoïdes internes
MM les autres rameaux du mesentere qui sont presque innombrables

Remarque sur la figure III. le dessinateur a fait vne faute considerable en cette figure ayant placé le rameau splenique au costé droit lequel doit estre au coste gauche

FIG. I.

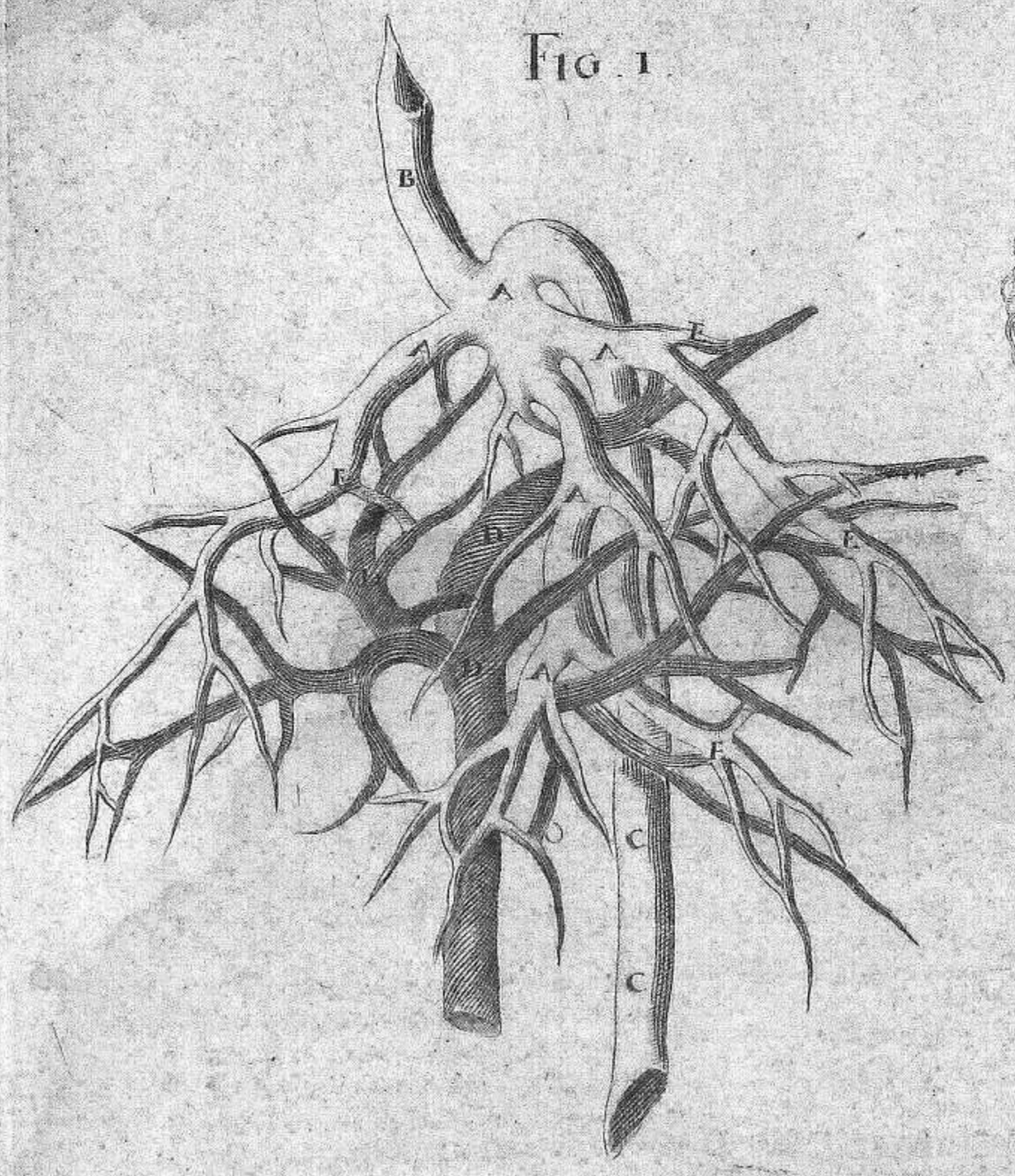

FIG. III.

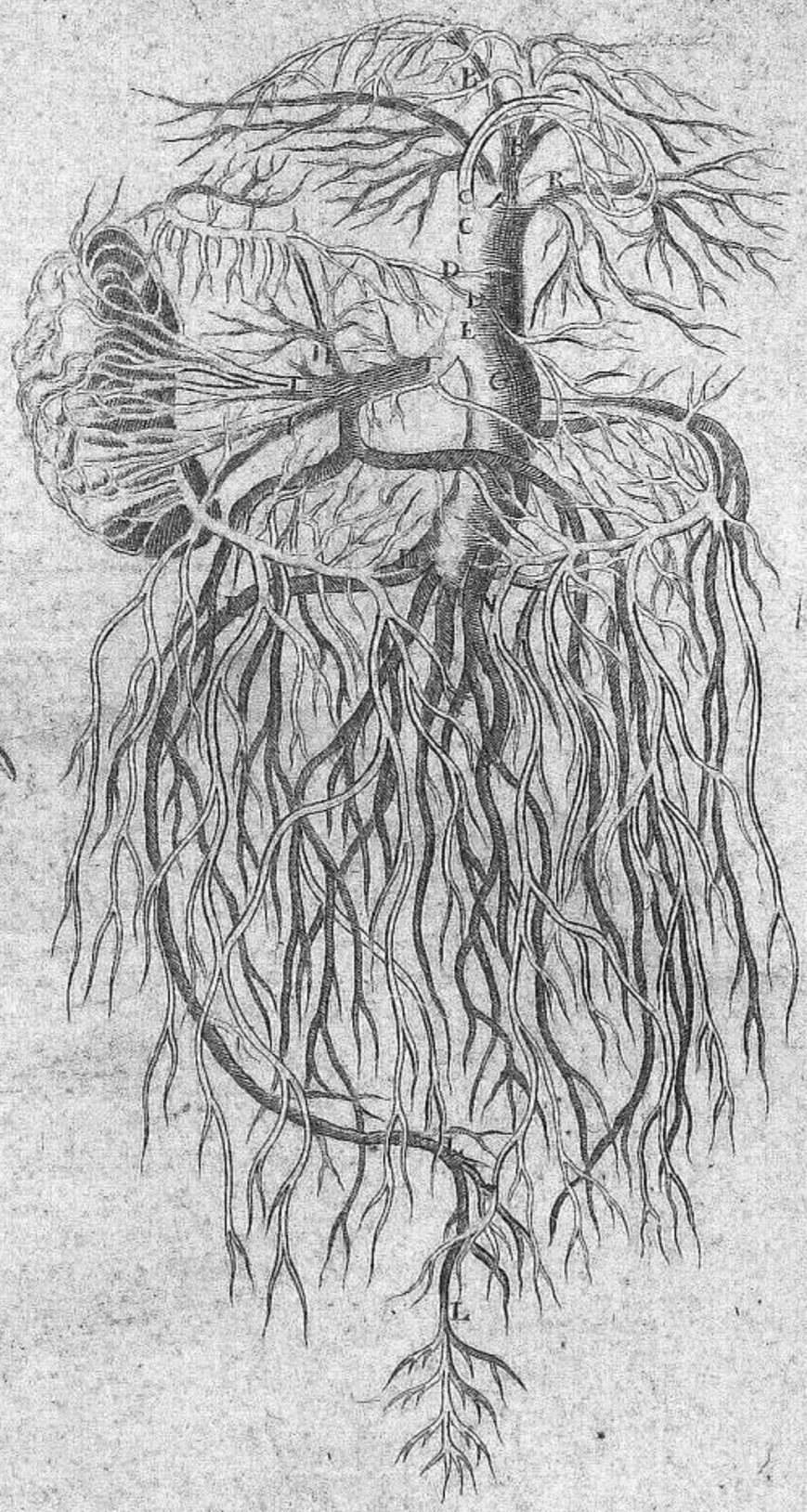

FIG. II.

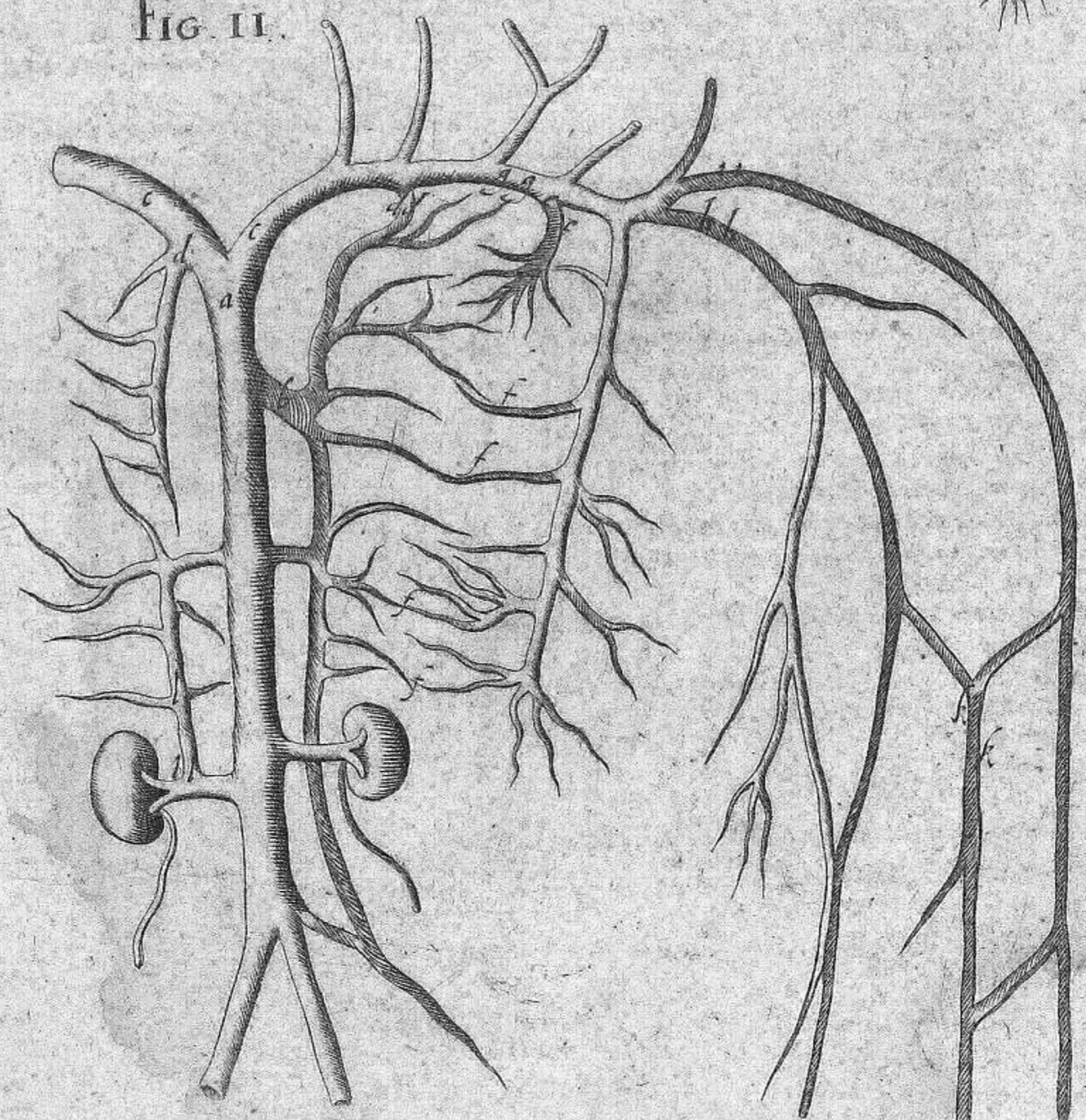

TOUTES LES VEINES EXTERNES QVI SE trainent sous la peau representée en cette table

Figure I. monstre les Veines anterieures.

aa *La veine du front* -
bb *Petits scions de la iugulaire qui vont aux bouffes et au nez* -
cc *Les veines qui vont aux temples et au derriere de la teste*
dd *La jugulaire externe*
ee *La cephalique ou externe*
ff *La basilique ou interne*
gg *La mediane faite des rameaux de la cephalique et basilique s'vnissans en semble* -
hh *Petites branchettes qui vont des veines thoraciques aux mammelles* -
1 *Rameaux naissans de la veine epigastrique*
kkk *Les ruisseaux de la veine crurale qui sont externes et qui decend aux aines et aux cuisses*
ll *La veine crurale décendant par la partie interne de la cuisse* -
mm *La veine interieure de la jambe* -
nn *La veine exterieure de la jambe qui se distribue dans les parties externes* -
oo *La saphene* -

LA FIGURE II monstre les veines externe du *derriere du corps*

1 *La veine puppis* -
2 *Les rameaux qui vont de la jugulaire au dos*
3 *La veine salvatelle qui est sous le petit doigt*
4 *La veine qui s'ouvre sous le poulce*
55 *La veine du jarret ou poplitique*

FIG. I.

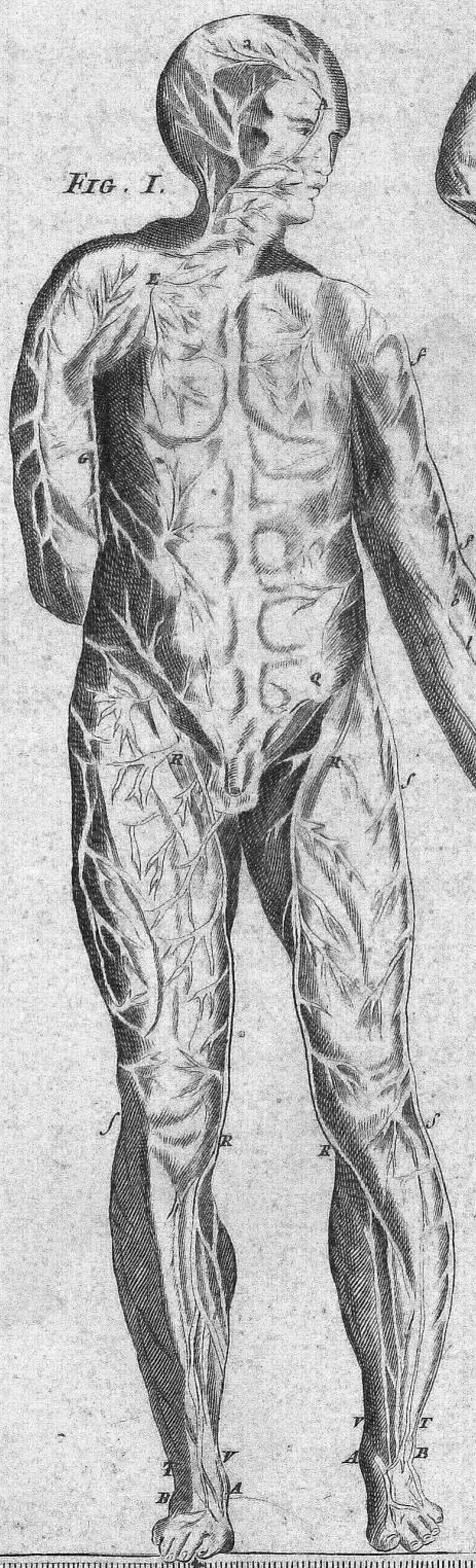

FIG. II.

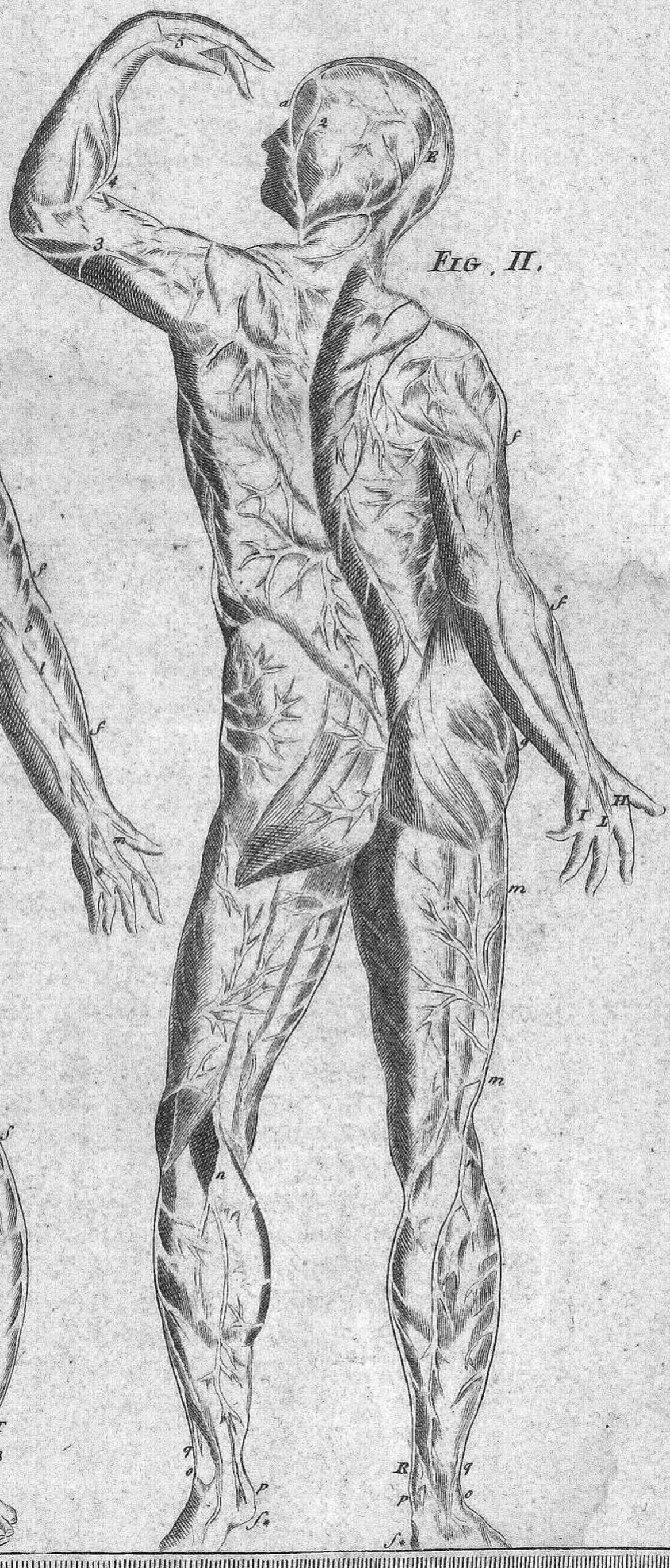

DEMONSTRATION DES VEINES ET ARTERES

A La veine da front entre les deux sourcils, qui paroist lors qu'on serre le col avec la ligature.
B La veine de la pouppe sur la teste laquelle se montre en plusieurs branches -
C Les veines des temples sous le pericrane, se coulent sur le muscle temporal, provenantes des jugulaires internes -
D Les veines qui sont aux coins internes des yeux -
E Les veines derriere les aureilles se montrent sous l'os vers la nuque
F trois pelites veines paroissent où l'extremité de l'oreille vien a touché prés les cheveux -
G. Deux veines jugulaires -
H. Veines sur l'extremité du nez
I quatre veines entre les levres deux à chaque costé -
K Deux veines sous la langue
LL Deux veines mammillieres -
MM Veines cephalique, humeraire, ou externe -
NN Basilique du foye, axillaire, ou interieur du bras -
O La veine du milieu, ditte noire, ou mediane, et comune, dautant quelle se communique a la cephalique, et basilique, selon cette figure Y -
P Veine de la main, dite salvatelle, almerine, seilem, residente entre le doigt du milieu annulaire et le petit -
Q cephalique de la main, laquelle existe entre le poulce et l'jndex
12. La veine de la hanché, est située en la cavité d'icelle ou l'espine du dos finit, et les veines hemoroïdales paroissent deux aux âgez qui surpassent quatorze ans -

R Veine de la jambe qui sort vers l'aine -
S Cette mesme dite saphene se voit proche le talon -
T La premiere branche de la saphene s'étend à la premiere jointure de l'orteil -
T L'autre branche de la saphene se voit au talon -
V La derniere veine de la hanche provenante de la dite place exterieure, dite politea -
X La mesme se voit sur los de la jambe -
YY Lesdites se manifestent plusieurs fois par dehors -
a Arteres des temples sont fort dures de peau, entournoyant.
b Arteres a l'entour des aureilles
V l'Artere qui se demonstre entre le poulce et l'jndex -
δ Artere du talon -

OUVERTURE DES VEINES

V Droite incision -
E Transverse selon la largeur -
N Transverse selon la longueur -
A oblique selon la longueur -
R Pelite et oblique -
V Estroite à costé -
M L'autre estroite a costé -

DEMONSTRATION DES NERFS.

3. Fibres droites -
4 Fibres transverses -
5 Fibres obliques -
6 Maniment de la Lancette.

DE VENIS.

Profluat inflicto de venis vulnere sanguis:
At sanum corpus sectio tuta facit.

DE ARTERIIS. 19

Vitales animas præstans Arteria claudit.
At sanum corpus sectio tuta facit.

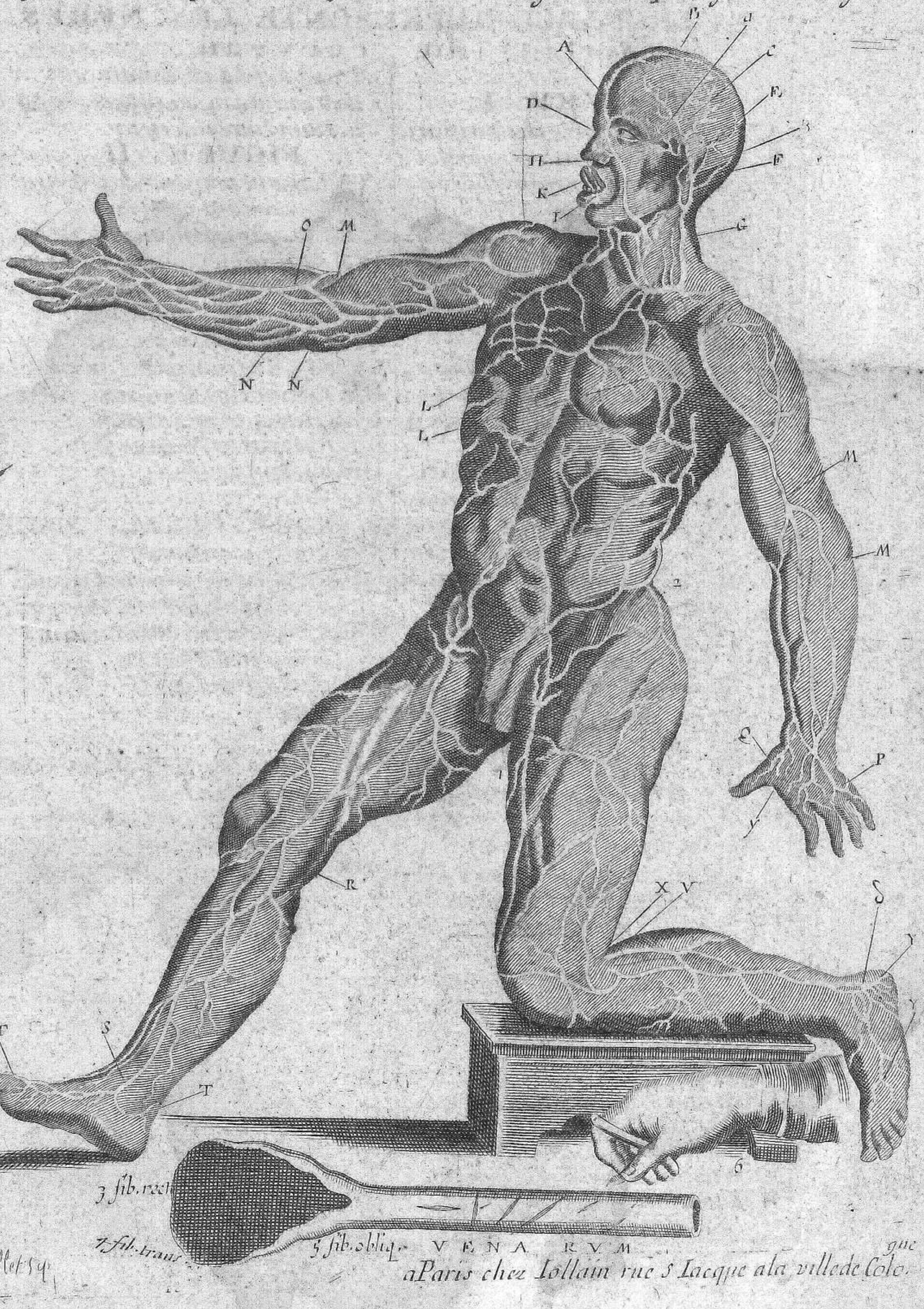

Guillet Sculp.

VENARUM

aParis chez Iollain rue S Iacque ala ville de Cole.

CETTE TABLE REPRESENTE LES NERFS. Sortans du cerveau.

1.2.3.4.5.6.7.8.9.10. Ces rameaux se distribuent dans quasi toutes les parties du ventre inferieur.

FIGVRE I.

AAA La superficie du cerveau.
B Le Cerebellum ou cervelet.
C Les apophises mammillaires.
E Vne portion de la moëlle de l'espin.
F L'organe du flair.
G Le nerf optique.
I La tunique reticulaire.
K La seconde coniugaison mouvant l'œil.
L Vn petit rameau du 3.e paire.
M Le nerf servant au goust.
N Vn rameau du 5.e paire qui s'en va au front.
O Autres rameaux du 5.e paire.
PP La tunique interne des narines
Q Autres rameaux du 3.e paire.
R rameau du 3.e paire qui va a la bouche
S rameau du 3.e paire qui s'insere aux dents maschelieres.
TV Autre rameau.
XX Rameaux qui sont portez aux dents.
Y rameau du 3.e paire qui s'insere dans la langue.
Z La 4.e coniugaison.
a Le 5.e paire dedié à l'ouye.
b c d rameau du 5.e paire qui est porté aux muscles masseteres.
e e La sixieme coniugaison.
f g Rameaux semez dans les muscles du col.
h Le nerf costal.
** ΔΔ nerf de la 7.e coniugaison
ii Nerf intercostal venant de l'espine
k nerf stomachique.
l m nerf recurrent dextre.
n o p nerf recurrent gauche.
q rameaux qui vont aux poulmons
r rameaux qui finissent au pericarde.
f t u ramification du nerf stomachique
x y rameaux qui vont a l'epiploon et a la vessicule.

FIGVRE II.

AA La partie exterieure du cerveau.
B Le Cerebellum ou cervelet.
C Les apophyses mammillaires.
D E Le commencement de la moëlle de l'espine.
F Les organes du flair.
G Les nerfs optiques.
1.2.3. trois trous.
H L'vnion des optiques.
I La tunique retiforme.
K La seconde coniugaison.
L M La troisiéme coniugaison.
a b c d La 5.e coniugaison et ses rameaux.
e La sixiéme coniugaison.
f La septiéme coniugaison.

FIGVRE III.

A L'orifice de la grande artere avec les deux arteres coronaires.
B Le tronc descendan de la grand' artere.
C L'artere soubsclaviere Senestre.
D Le tronc ascendant de la grand artere.
E L'artere soubsclaviere dextre.
F G Les arteres carotides.
H I K Les rameaux de la trachéatere
L Le larynx.
M Les glandes du larynx
N O Le nerf de la sixiéme coniugaison.
P Q Q La reflexion du nerf recurrent dextre soubs l'artere soubsclaviere.
R S S La reflexion du nerf recurrent gauche au tronc de la grand artere

II.

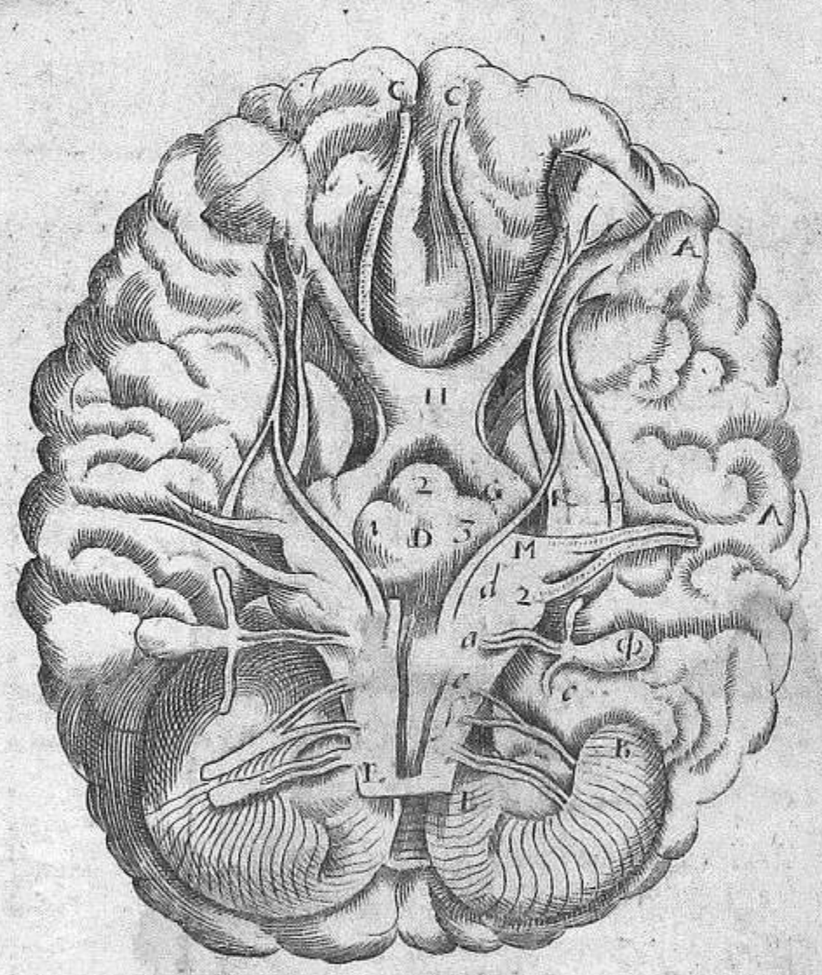
C
C
A
II
2
G
F
1
D
3
M
d
2
a
Φ
c
B
L
E

III.

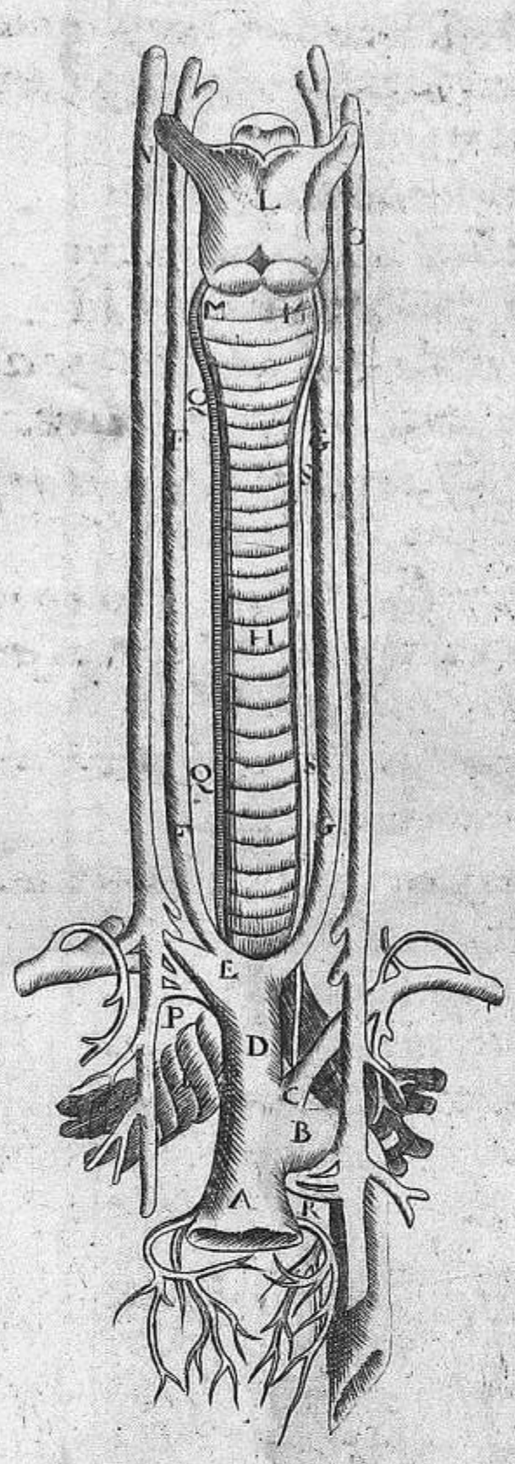
L
M
H
Q
E
P
D
C
B
A
R

FIG. I.

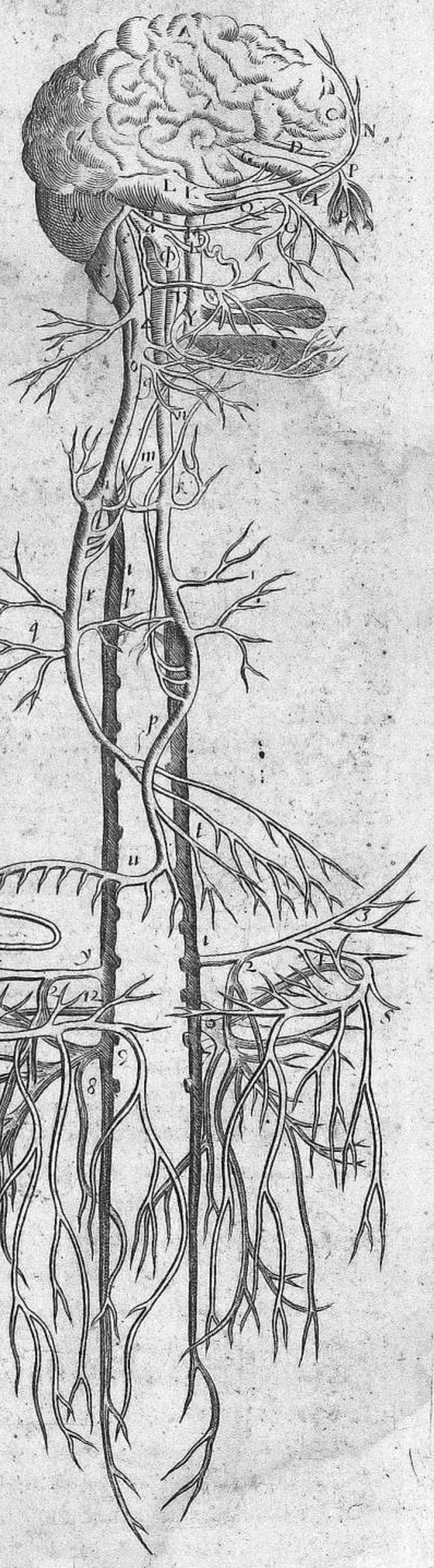
A
B
C
N
D
P
L
I
O
Φ
Y
V
m
K
r
p
q
t
u
s
y
1
2
3
4
5
6
7
8
9
10
11
12

TABLE DE TOVS LES NERFS

22. principalement ceux qui naissent de

LA MOËLLE DE L'EPINE

A *Le lieu de la moëlle de l'espine -*

1.2.3.4.5.6.7.8.9.10. u &c. Sont les vertebres de la medulle spinale -

G *Distribution du rameau posterieur du premier paire des nerfs du col -*

HIL *Distribution du rameau anterieur du mesme paire -*

MN. *Le rameau du second paire et sa distribution -*

O *Le rameau posterieur du troisieme paire -*

P *Le rameau anterieur du mesme paire -*

VXY *Tous les rameaux du quatrieme paire -*

5 *Le cinquiéme paire -*

cdefghi *Les rameaux anterieurs et posterieurs du cinquiéme paire -*

6. *Le sixieme paire -*

nnOO *Les nerfs du diaphragme -*

7. *Le septiéme paire -*

8 et 9. *Le premier et le deuxiéme paire du dos -*

10.11.12.13.14.15.16.17. *Les dix paires des nerfs sortans de l'espine du thorax -*

1.2.3.4. *Les six paires de nerfs qui se distribuent dans les bras -*

Δ* *Division des nerfs du bras -*

20.21.22.23.24. *Les cinq paires des nerfs sortans de la medulle lombaire -*

25.26.27.28.29.30. *Les six paires des nerfs sortans de l'os sacrum -*

14 *Le premier nerf est porté dans la cuisse -*

15 *Petit scion du premier paire de la cuisse se ramifiant dans la peau -*

16 *Petit scion du mesme premier paire qui se distribuë aux muscles -*

17 *Le second paire de la cuisse -*

18 *Le rameau superficiel de ce second paire -*

K *Le rameau profond de ce second paire -*

19 *Le troisiéme paire des nerfs de la cuisse -*

20 *Le rameau de ce troisieme paire qui va au muscle triceps -*

21 *Le quatriéme paire des nerfs de la cuisse qui est le plus gros de tous -*

22.23.24.25.26.27.28. *Tous ces chiffres marquent les scions du quatriéme paire et monstrent comment ils se fourchent diversement dans tous les muscles et parties du pied*

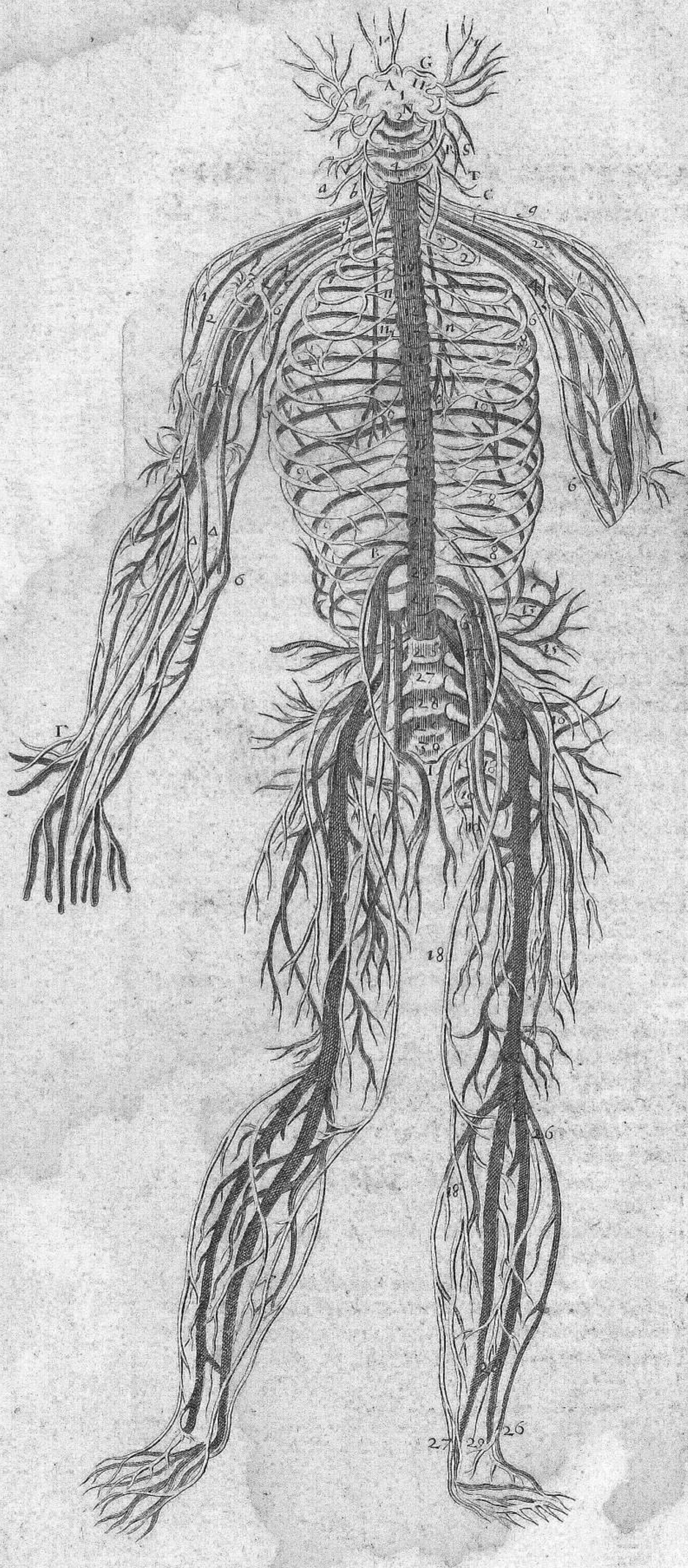
A
G
N
a
b
C
E
F
6
18
26
27
29

TABLE DE LA MEDVLE spinale et des nerfs quien naissent

LA FIGVRE I. REPRESENTE LA MOËLE

Toute entiere couverte et envelopée de toutes Ses membranes.

A *La portion de la medulle spinale qui est couverte par le crane.*

BBB *La medulle spinale sortant hors du crane enfermée dans les vertebres et revestuë de ses deux membranes de l'espaisse et de la deliée.*

C *Comment la moëlle est plus large et plus grosse au col.*

DDD *Comme elle diminuë peu a peu au dos*

EE *Comment elle devient plus large aux enuirons de la region des lombes.*

F *Comme elle devient fort menuë sur la fin de l'os sacrum.*

GG *Les nerfs sortans neuds a neuds et cordon*

LA FIGVRE II.

Monstre la medulle dépoüillée de la membrane épaisse et qui n'est plus revestuë que de la deliée elle monstre aussi les petites veines et arteres et comment les nerfs sortent également de la partie anterieure et posterieure.

aa *La membrane deliée.*

bb *Les petites veines et arteres semées dans les membranes.*

CC *Comment les nerfs sortent.*

LA FIGVRE III.

mõstre la face anterieure de la medulle qui est tout a fait depoüillée de ses membranes

LA FIGVRE IIII.

Monstre la moelle jettée dans de l'eau et comment tous les nerfs finissent en cheveux et ressemblent a une queue de cheval.

Fig. I.

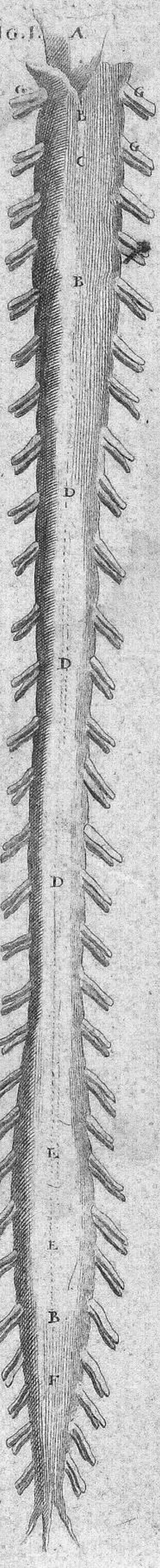

Fig. II



Fig. III



Fig IIII

PREMIERE TABLE DES MVSCLES du corps humain

LA FIGVRE I.

A *Les glandes qui sont sous les oreilles* -
B *Le muscle qui ouure la maschoire* -
C *Le muscle sternohyoïde* -
D *Le muscle coracoide* -
F *Le muscle fléchissant la teste, nommé mastoide* -
G *Vne portion du trapeze* -
H *La cavité qui est au dessus de la clavicule* -
I *La clavicule* -
K *Le muscle deltoïde* -
L *Le muscle pectoral* -
M *Le sternon* -
OOO *Le petit dentelé* -
PP *L'origine de l'oblique externe ou descendant de l'epigastre* -
Q *Le muscle biceps* -
R *Vne des testes du biceps* -
SS *Le muscle brachial* -
T *Vne portion du muscle long estendant le bras* -
V *Le muscle rond pronateur du rayon* -
XX *Le fléchisseur superieur du carpe* -
Y *Le palmaire* -
Z *Le fléchisseur inferieur du carpe*
aa *Le muscle long supinateur du rayon* -
bb *L'extenseur superieur du carpe*
ccd *L'extenseur du poulce* -
e *Le tendon du muscle extenseur du doigt index* -
h *muscle moyen qui ameine le poulce* -
3.4.5.6. *L'anneau du carpe* -
1 *Muscle tenar* -
* *muscle hypotenar* -
K *production du pertoine* -
l *Les glandes des aines* -
m *Le muscle triceps* -
o *Le muscle cousturier* -
p *Le muscle gresle* -
q *Le muscle membraneux ou bande large* -
Δ *Vne portion des muscles fessiers* -
r *Le muscle vaste externe* -
s *Le muscle droit gresle* -
t *Le vaste interne* -
u *Le biceps* -
XY *L'os de la jambe sans chair* -
z *Le jambier anterieur* -
2 *Le gemeau externe* -
3 *L'esperonnier* -
4.5 *L'extenseur des orteils* -
7 *La cheville externe* -
8 *L'anneau du tarse* -
9 *L'ameneur des orteils* -
10 *Le gemeau interne* -
11 *Le tendon du muscle plantaire*
12.13. *vne portion du muscle solaire*
14 *vne portion du jambier posterieur* -
15 *Le ligament qui venant de l'os de la jambe finit au talon* -
16 *Le muscle qui respond au tenar.*

LA FIGVRE II. MONSTRE le diaphragme

A *Le corps du diaphrgme* -
B *Le trou de la veine cave* -
C *Le trou de l'œsophage* -
D *comment la grande artere passe entre les deux parties du diaphragme sans qu'il soit troué* -
**** *La partie charnuë du diaphragme* -
FF *Les deux liens par lesquels le diaphragme est attaché aux vertebres des lombes* -
GH *Les deux bouts des dits liens.*

Fig. 1.

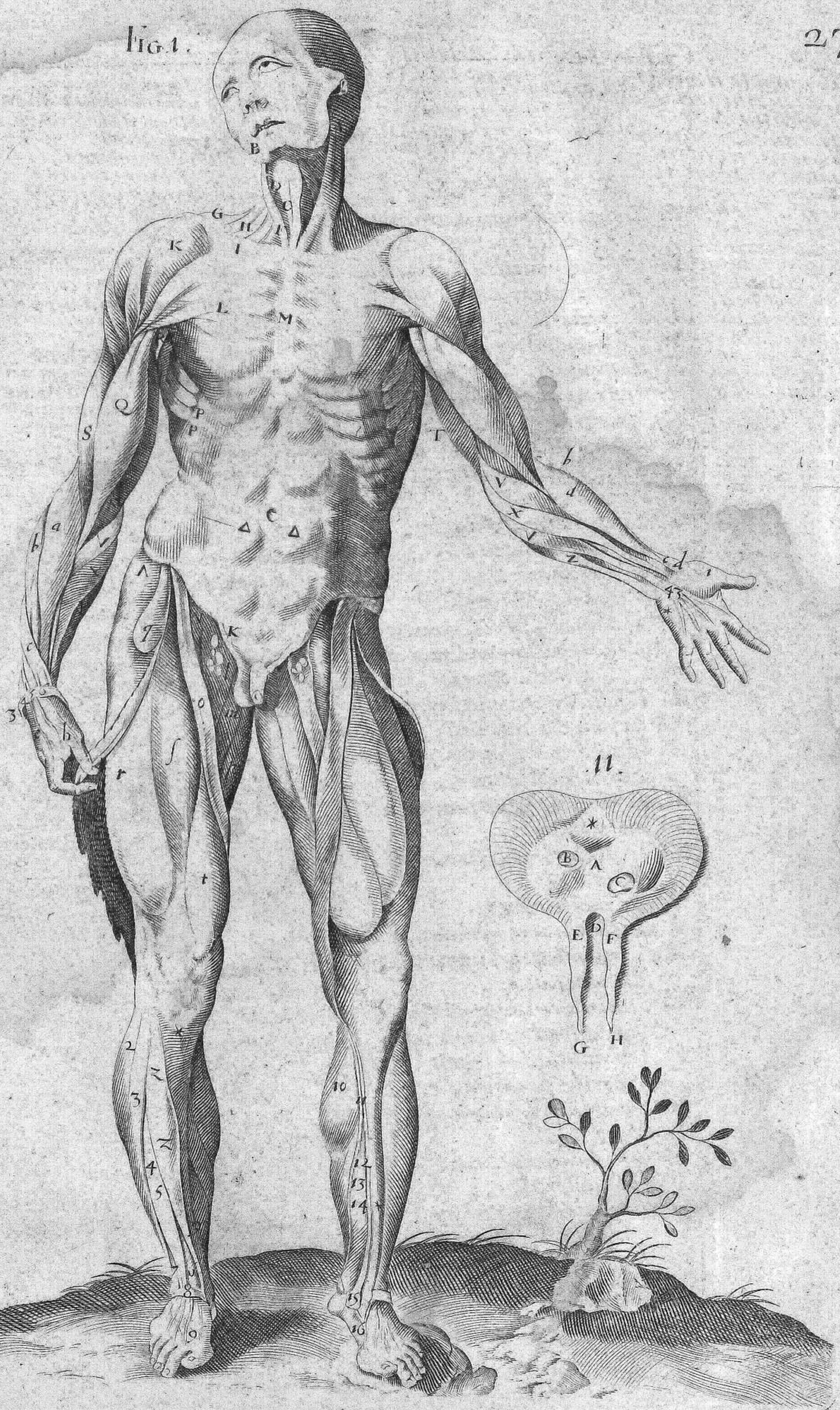
B
G
H
I
K
L
M
Q
P
P
S
T
a
b
c
d
V
X
Z
Δ
Δ
C
Λ
K
f
o
t
2
3
4
5
7
8
9
10
11
12
13
14
15
16

11.

*
B
Λ
C
E
D
F
G
H

DEUXIESME TABLE DES MVSCLES.

1 Le muscle frontal.
2 les deux muscles qui ferme les paupieres.
4 les muscles qui tirent les leures en haut.
d le muscle temporal.
B L'os zygoma.
C le muscle massetere.
D le muscle buccinateur.
E muscle de l'os hyoïde
F Le muscle sternohyoïde
G Le muscle du larynx dit = bronchique.
H muscle caracoïde.
I le muscle mastoïde.
K la partie superieur du trapeze
L la partie inferieure du trapeze
M le deltoïde N. le brachial.
Z + Le muscle biceps.
OP les extenseurs du coulde
Q l'union des 2 muscles extenseurs. R. Coment ils s'inserent en l'olecrane.
SS le muscle rond du rayon
TT l'extenseur superieur du carpe
V l'extenseur des doigts.
XY l'extenseur inferieur du carpe. Z le flechisseur inferieur du carpe à le palmaire
bC l'extenseur du poulce.
de le muscle moyen f le muscle du rayon nommé rond.
g le flechiseur superieur du carpe
g1 le muscle infraspineux
lm le tres large qui abaisse le bras
ooo le grand dentelé.
pp l'oblique decendant de l'epigastre
Δ le pectoral. q le cousturier.
r le membraneux.
S le muscle droit de la iambe
t le vaste externe.
u le grand fessier.
x le grand trochanter.
y l'autre fessier * le gresle.
Z le muscle triceps.
5 le demi nerveux.
6,6 le demi membraneux.
7 le biceps de la iambe.
8 le cousturier.
9 le vaste interne.
10 le gemeau externe
12 le gemeau interne
13 l'os de la iambe décharné
14 le muscle Solaire.
15 le muscle profond.
16 le tendon des gemeaux.
17 le muscle espronnier.
19 l'extenseur des orteils.
20 le ligament du tarse.
21 la malléole interne ou la cheuille du pied.
22 le lien commun aux deux os de la iambe.
23 La cheuille ou malléole externe du pied.
25,26 L'hypotenar.

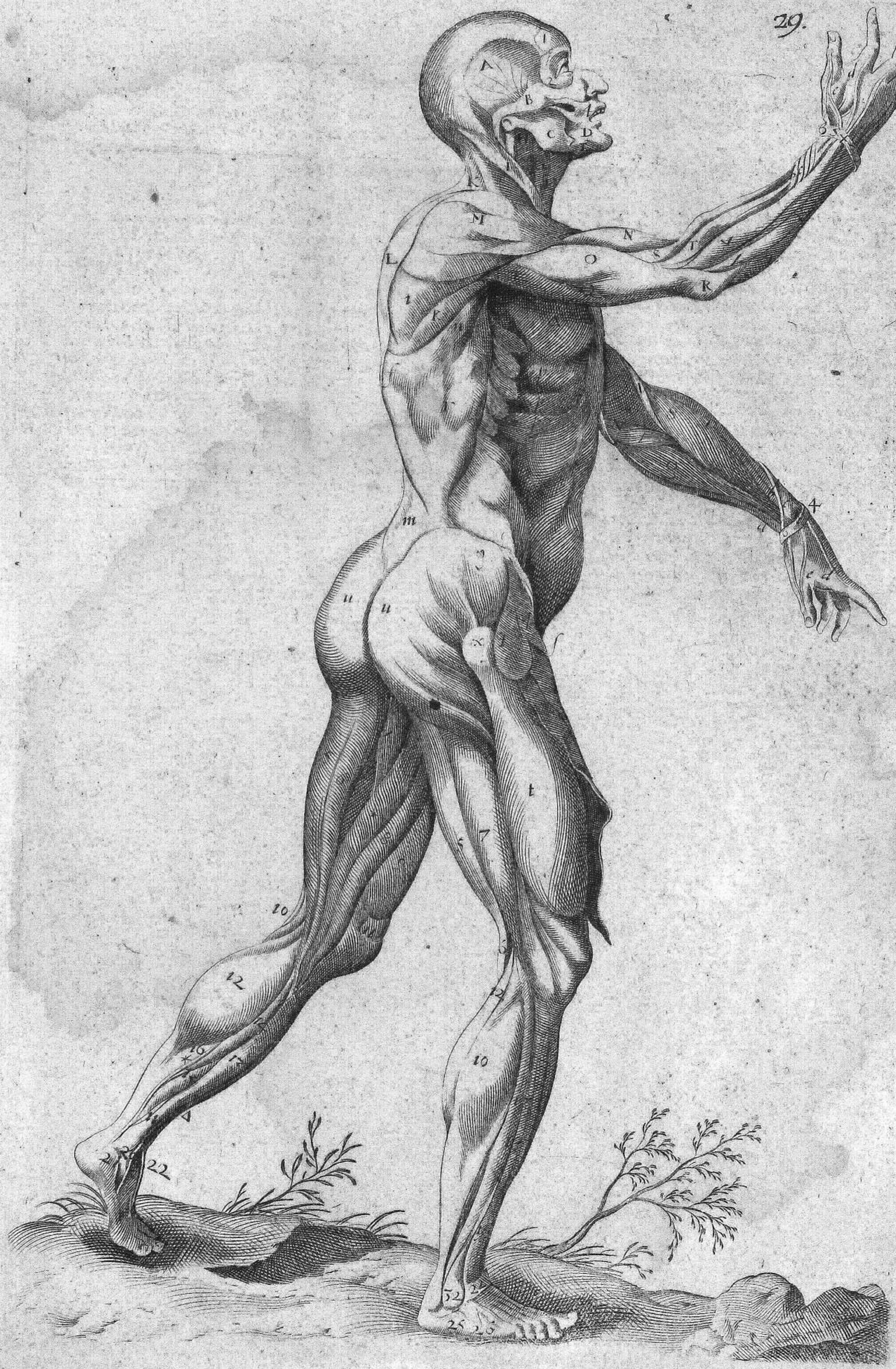
I
A
B
C
D
K
M
N
L
O
S
T
R
F
m
u
x
t
4
5
7
10
12
20
22
25
26
27
32

TROISIESME TABLE DES MVSCLES.

Figure I.

A vn petit trou en l'os du front
B le muscle temporal.
C vne portion du zygoma.
D le muscle massetere.
E vn trou apparent en la machoire dẽ bas F le muscle buccinateur
G la chair spongieuse des leures
L l'os hyoïde denué de ses muscles
HI le muscle digastrique.
M les muscles lateraux de la langue
N le cartilage scutiforme.
O le muscle caché.
Q la partie anterieure de l'artere trachée P. le bronchique.
RS le coracoïde digastrique.
T le muscle complexus de la teste.
V les leuateurs propres de l'espaule
X le muscle salene Y la clavicule
Z le deltoide a l'acromion.
b le coracoïde g le sternon ylate
c d e f les liens du bras et de l'omo
h La premiere coste du thorax
Γ le petit dentelé m grand dentelé
i k l la circonscription du dentelé.
Δ Δ les muscles droits de l'epigastre.
o p q u u la contiguité et les aponeuroses de ces muscles.
f x les aponeuroses du muscle transuersal y le muscle transuersal.
3.4.5.6.7.8.9.10.11.12.13. ces muscles et parties ont déia este decrites.
40 le muscle profond 41 le sublime
12.12. les productions du peritoine
14 l'ob lique ascendant de l'epigastre.
17. le grand trochanter.
25 le vaste externe.
29 le muscle iliaque.
21 le lombaire.
22 le triceps.
23.24. le muscle crural.
26 le vaste externe.
27 le droit 28. le gresle.
29 l'espronnier.
30 l'extenseur du poulce
31 l'os de la iambe.
33 l'espronier 34 l'emmeneur des orteils. L extenseur des orteils

Figure II.

AB les deux ligamens de la verge.
C C le commencement des ligamens
D la teste de la verge.
E le sphincter. F les prostates.
G le corps de la Vessie.
HH vne portion des vaisseaux éiaculatoires. II. les vrteres qui finissent en la vessie Figure III.
1.2 les neux nerfs caues 3 les vaisseaux de la verge. 4 la teste de la verge decharnée. 5 le conduit commun de la semence et urine
6.7. la substance spongieuse et noirastre du corps de la verge
8 l'union des ligamens de la verge

FIG. 1.

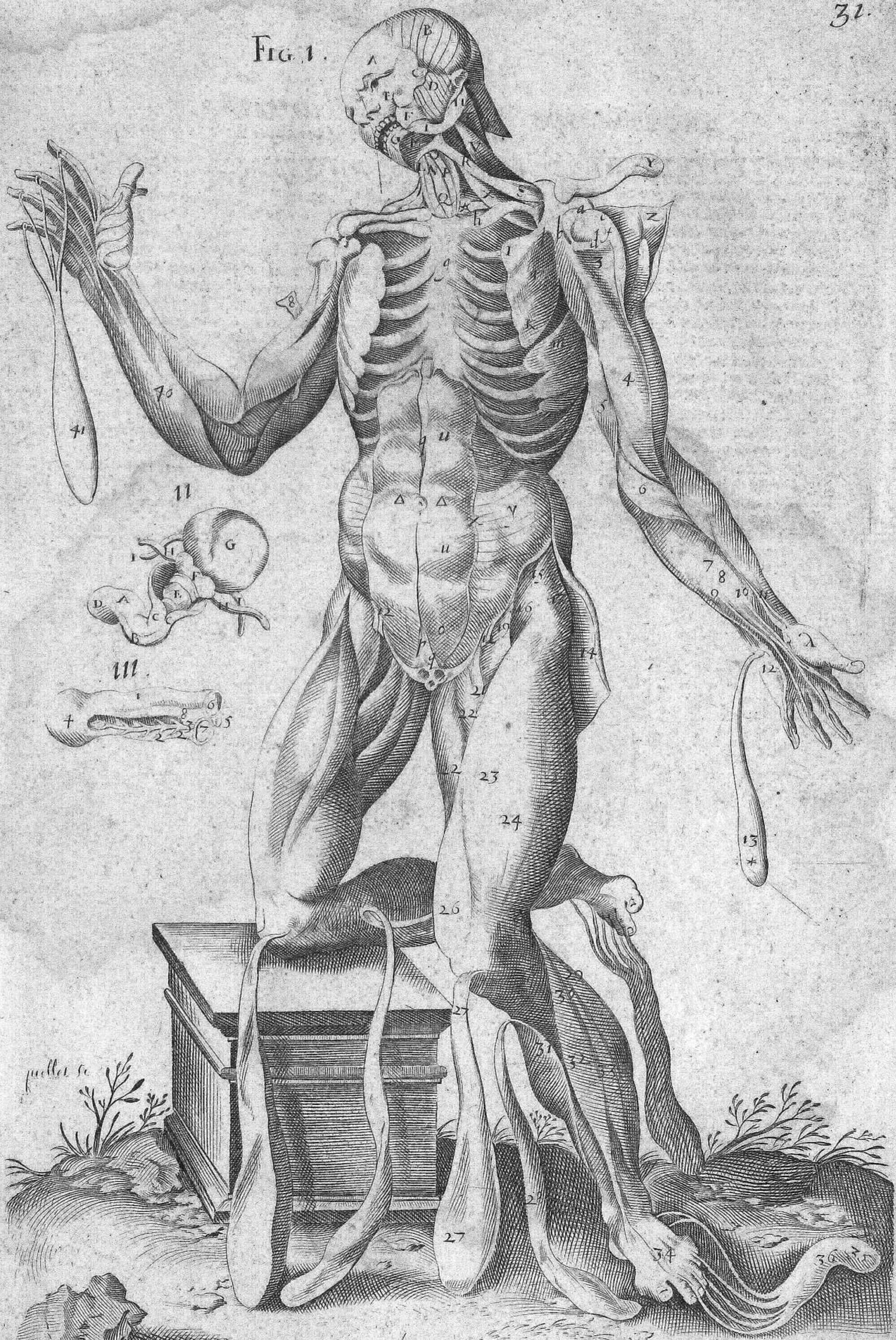
A
B
D
F
G
I
K
L
M
N
O
P
Q
R
S
T
V
X
Y
Z
a
b
c
d
e
f
g
h
i
k
l
m
n
o
p
q
r
s
t
u
v
x
y
z
1
2
3
4
5
6
7
8
9
10
11
12
13
14
15
16
17
18
19
20
21
22
23
24
25
26
27
28
29
30
31
32
33
34
35
36
37
38
39
40
41
II.
III.
guelle sc.

A le muscle temporal.
B le zygoma C. le muscle massetere
D le muscle mastoïde L le deltoïde
A EFGHIK le trapeze
L le deltoide M le grand rond
N la baisseur du bras O. le tres large
P Vne portion de l'oblique descendant
Q Vne portion du biceps
R Vne portion du brachial
S le courestendeur du coulde
T le long estendeur du coulde
V les extenseurs du coulde
X Vne portion du rond supinateur
Y l'extenseur superieur du carpe
Z. a. l'extenseur des doigts
b f division d'icelui en plusieurs tendons
c e les extenseurs du poulce
g le muscle moyen. h. ses tendons
6 le grand fessier O. le petit fessier

i k l m. Son origine et insertion.
p le principe charneux du muscle membraneux q la membrane de ce muscle apellée bande large
r Vne portion du vaste externe.
s le biceps de la iambe.
tt le demi nerveux.
V le demi membraneux.
X vne portion du triceps.
y le gresle. 7 le droit. 8 le couturier.
9 le crural. 10. le iaret.
11. 12. 13. les deux gemeaux.
14. 15. l'esperonnier. 16 la cheuille externe. 17 l'hypotenar.
18 la cheville interne. 19 les tendons des muscles qui flechisent le tarse. Figure II.
H la teste de l'os du bras.
ii le quatriéme nerf.

K le commencement du muscle court
L commencement du muscle long
M le lieu du qualtriéme nerf.
N la fin des muscles extenseurs du coulde
O l'olecrane P division d'un nerf près l'olecrane Q une portion du brachial
R Vne portion du long.
S l'extenseur superieur du carpe.
T l'extenseur inferieur du carpe
V le flechisseur inferieur du carpe
X. Y. l'extenseur des doigts.
Z le flechisseur superieur du carpe.
f l'extenseur du poulce.

FIG. I.

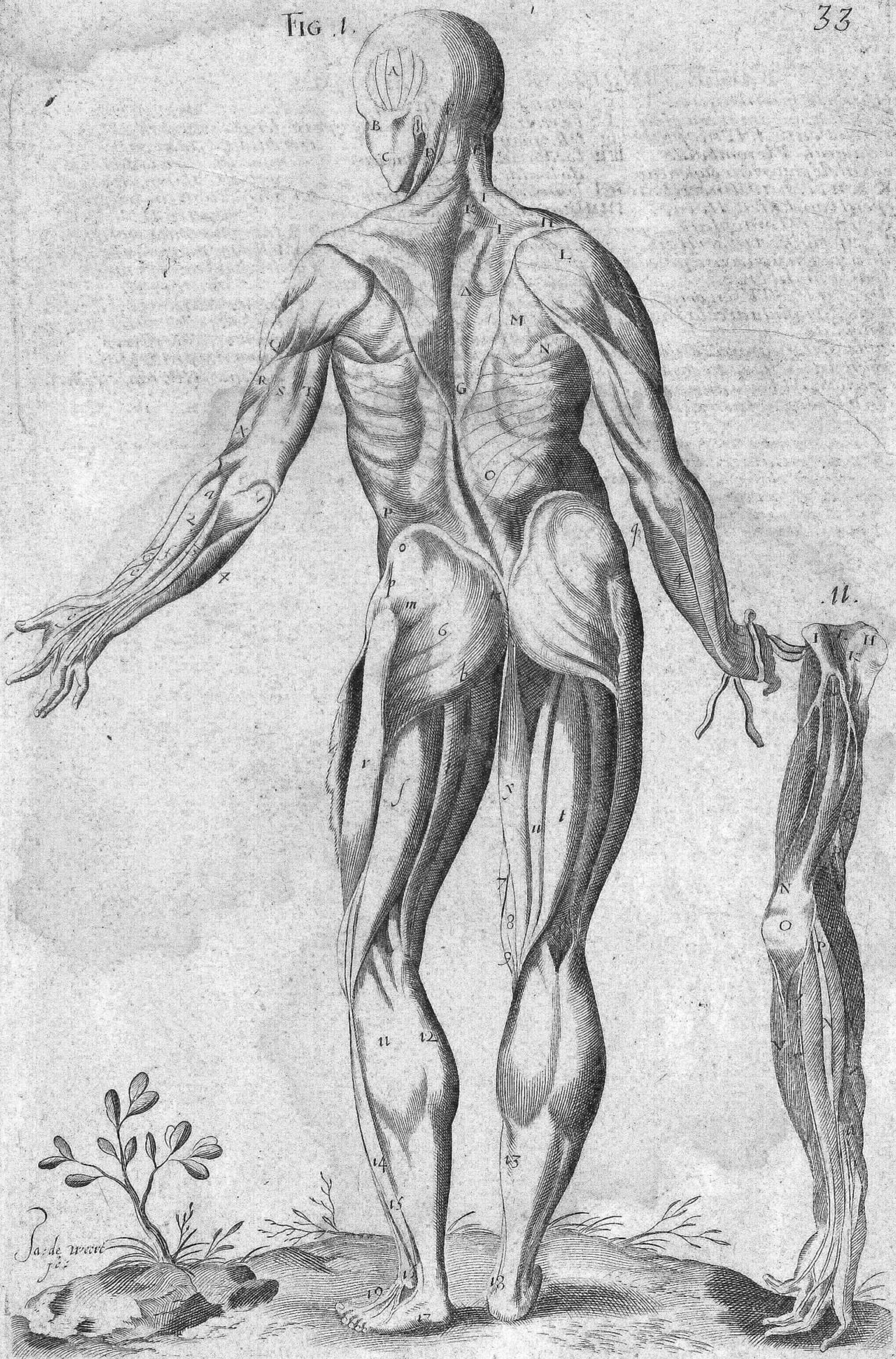
A
B
C
D
I
II
L
M
N
G
O
P
R
S
T
X
m
6
b
r
s
t
u
7
8
9
11
12
13
14
15
16
17
18
19
II.
I
II
K
N
O

A le muscle splenitique.
BB les 2 muscles nommez complexi.
C les releveurs de l'omoplate
D la clavicule. F le romboïde.
E le dentelé posterieur superieur.
GHIK Son origine et insertion.
L le petit rond. ✶ le deltoïde.
M l'espine de l'omoplate.
NOP Son origine et insertion.
Q l'infraspineux ou sous espineux.
R l'abaisseur du bras.
24. le tres large, STV son origine et la conexion qu'il a avec la base de l'omoplate.
X la connexion qu'il a avec l'osilion.
Z vne portion de l'oblique descendant de l'epigastre. a le long extenseur du coulde b le court, C. d. portion du biceps
e le muscle ron du rayon
f l'extenseur superieur du carpe
g le ligament du coulde
hh l'os du coulde, i le fléchisseur du boulde inferieur
kl le muscle court du rayon
mm le tendon du muscle lateral du poulce. le tendon du mûcle long
6 l'emmeneur superieur des doigts index et medius
q l'extenseur inferieur du carpe
r S l'extenseur des doigts separé en plusieurs 7. 8. muscle fessier: moyen. 8. o les ligamens de los sacrum
10 le muscle gemeau
11 le grand trochanter
12 l'obturateur interne. 13 le nerf de la cuisse qui est le plus gros de tous
14.15 le muscle semi nerveux
16 le vaste externe 18 le biceps
17.17 en l'autre cuisse se void le grand muscle fessier. 19 division du gros nerf 20 le muscle gresle
21 vne portion du triceps

Figure II.

1 l'apophyse mastoïde
24. les quatre petits muscles obliques
3.3. les deux muscles droits

Figure III.

1 l'espine de la seconde vertebre du col
2 l'apophyse transverse de la premiere vertebre du col
3 l'apophyse mastoïde
4,5 les deux petits muscles droits

FIG. I.

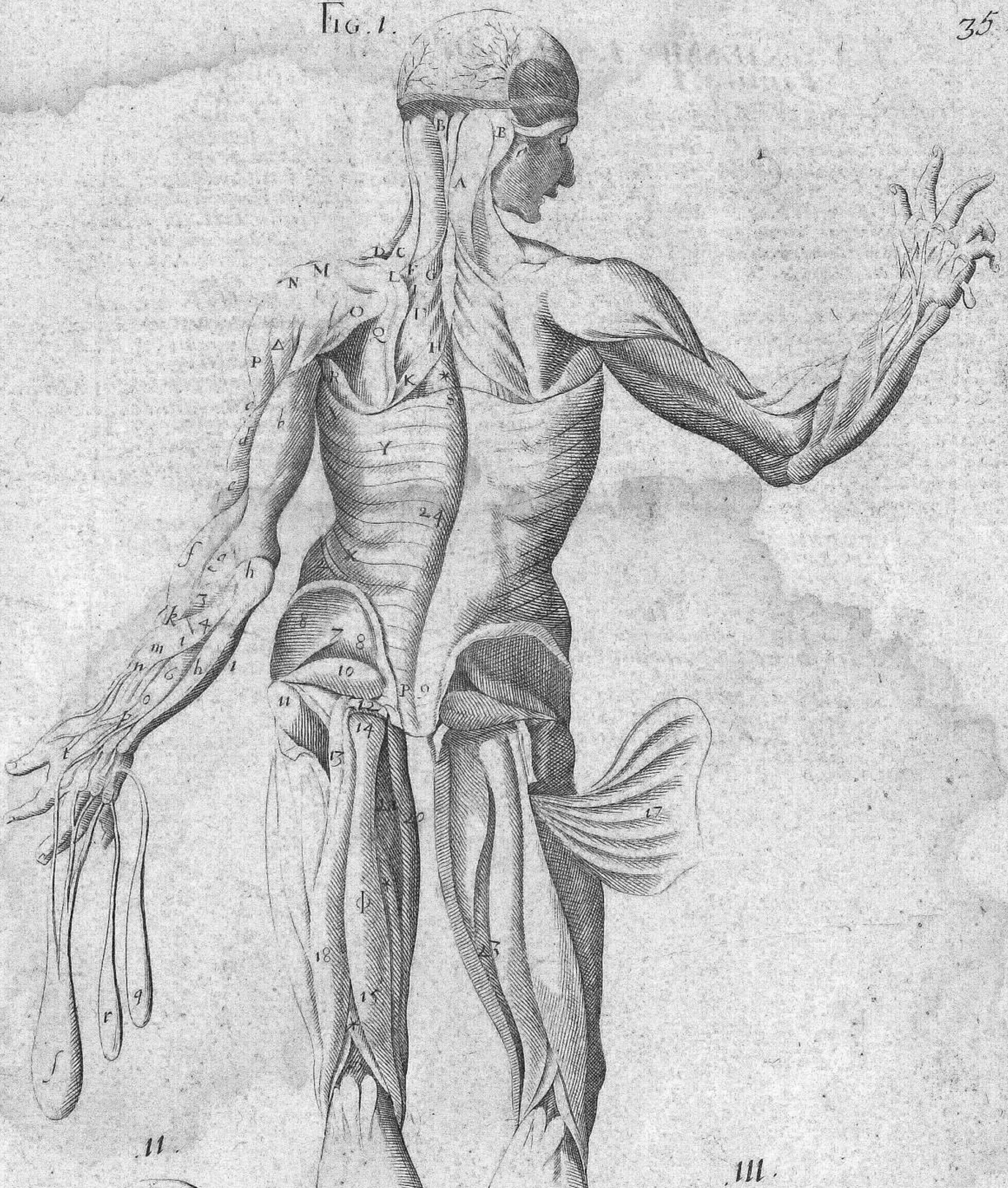
A
B
B
C
D
E
F
G
H
I
K
L
M
N
O
P
Q
R
S
T
V
X
Y
a
b
c
d
e
f
g
h
i
k
l
m
n
o
p
q
r
s
t
1
2
3
4
5
6
7
8
9
10
11
12
13
14
15
16
17
18
II.
III.

LA SIXIESME TABLE DES MVSCLES

Figure I.

AA le muscle splenitique gauche
BB le muscle nommé Complexus
C le releueur de l'omoplate
D la clauicule E le m. coraco hyoide
F le dentelé posterieur superieur
G le grand rond du bras
HK l'origine et insertion de l'infraspineux
L le petit rond MNOP l'origine et insertion du deltoide
Q le sacrolombe R le demy espineux
ST le sacre Les costes V. les intercostaux externes C le tres large.
X Vne portion du grand dentelé.
Δ le dentelé posterieur inferieur.
ab l'oblique décendant et son insertion
defghilmnopqtu ce sont les muscles de la main de ia expliquez
1,2,3,4,5,6,7,8,9,10,11,12,13,14,15. ce sont les muscles de la cuisse, de la iambe et du pied decrits en la precedente table.

Figure II.

A l'origine du deltoide.
B la portion qui couure l'omoplate.
C l'origine du deltoide de l'espine de l'omoplate, D. son insertion.

Figure III.

A l'os sacrum, B le lieu de l'articulation de l'ischion, C. le ligament attachant l'os sacrum a l'ischion.
D la partie dextre de l'os du penil.
E le lieu du quatriemenerf.
FGH l'obturateur interne I. l'iliaque.
K le lombaire ou psoas.
LM le couturier* le gresle.
P le droit Q le vaste interne.
R le demi nerveux, ST le triceps.
V le demi membraneux.
abcdefg les gemeaux, le Solaire, le iambier, et les flechisseurs des doigts

Figure IIII.

A l'os de la cuisse, B la teste de l'os de la cuisse.
CD Ses deux condyles.
E l'os de la iambe, FGHIK les parties du dit os descrites ausquelles
LM le muscle Solaire.
N le tendon des gemeaux.
O le tendon attachant l'os de la cuisse à l'ischion, PP les ligamens qui enuironnent cette articulation
QR les ligamens du grand et petit trochanter. S. le ligament commun de l'articulation du genoüil
T le ligament propre.
XYZ les ligamens de l'os de la iambe.
a le ligament attachant l'os de la iambe au perone.
bc le ligament annulaire.
de les ligamens attachans l'os de la iambe avec le calcaneum
fg les ligamens attachans l'os de la iambe avec l'astragal.

Fig. 1.

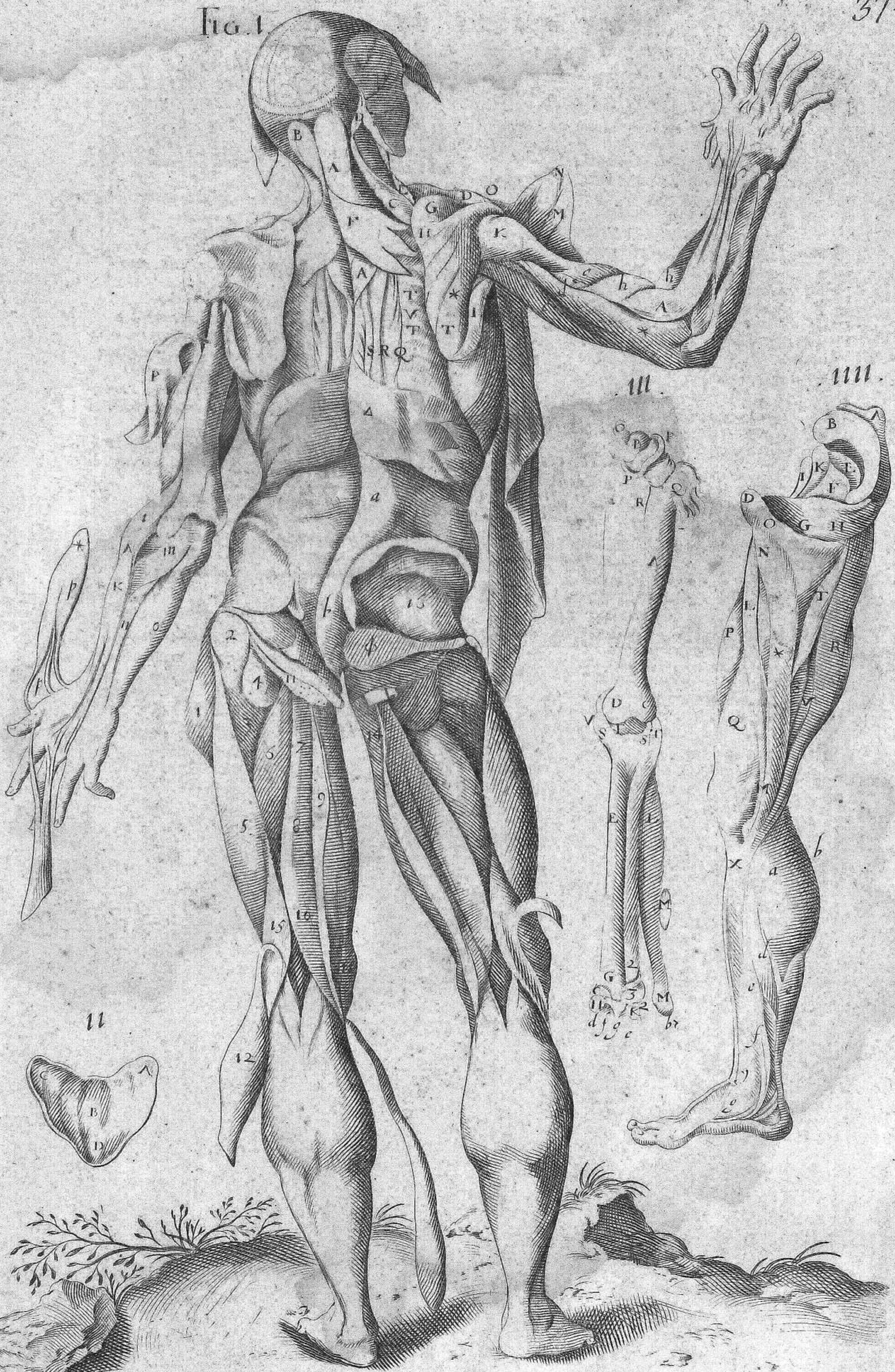
B
A
C
D
G
F
H
O
N
M
K
A
T
V
T
T
S R Q
P
a
1
2
3
4
5
6
7
8
9
10
11
12
13
14
15
16
b
c
h
h
A
*
III.
C
P
P
R
Q
D
C
V
S
S'
I
E
I
M
G
2
3
M
d f g
c
b
IIII.
B
K
L
I
F
D
O
G
H
N
T
L
P
*
R
Q
M
X
a
b
d
e
f
y
c
I
II
B
D

TABLE DES PARTIES QVI SERVENT A LA NVTRITION

Figure I.

AAAA le peritoine coupé en trois parties.
B . le principal ligamen du foye.
CD la partie gibbeuse du foye.
EE l'anteriure partie du ventricule découverte
FG les veines arteres et nerfs qui vont à l'inferieure partie du ventricule.
H la ligne qu'on dit estre le commencement de l'epiploon.
IIII L'epiploon, omentum, coeffe.
K La veine ombicale.
L Le nombril separé du peritoine.
MM Rameaux semés dans l'epiploon
NO Les deux arteres ombicales
P L'ourachos, Q le fond de la vesie
R La connexion du peritoine de la vessie.

Figure II.

A La fente du foye où se cache la veine ombicale.
BB Vne portion du peritoine.
C Le fond de la vesicule du fiel
D La partie ouya la veine ombilicale.
E Vne portion de la parlie gibeuse du foye. F le nerf du foye.
G La partie cave du foye.
H Sinuosité qui fait place à la sophage.
I Lien attachant le foye au diaphragme
KK L'estomach ou ventricule.
LM son orifice inferieur et superieur.
N Situation du rein gauche.
O Le tronc de la veine porte.
P Le pancreas Q l'artere du foye
R Le boyau duodenum
STV le mesentere YY les vrteres.
Z Les veines et arteres spermatiques.
X Les vaisseaux eiaculatoires.

Figure III.

AAA Premiere tunique du ventricule: nommée commune.
B Premiere membrane propre du ventricule. C deuxiéme membrane propre

Figure IIII.

AA Parti superieure de l'œsophage.
BB La sophage cede à la grande artere
CD la portion qui perce le diaphragme.
EE. les deux glandules amigdales.
FF vn certain corps glanduleux.
GG l'orifice superieur du ventricule.
HH l'orifice inferieur.
I la partie superieur du ventricule.
MNO la partie posterieure du ventricule
LL la partie anterieure du ventricule.
KK le fond du ventricule.
P le boyau duodenum.
Q le conduit de la vessie du fiel.
R le duodenum coupé.
S le pancreas tenant au boyau.
TV les nerfs stomachiques.
Y le rameau gauche du nerf stomachique
1 La veine et artere gastrique.
2 la petite gastrique.
3 La gastre piploique.
4 5. la coronaire stomachique.
6 7. les branches qui viennent de la splenitique.

Figure V.

A AA le dessus de la partie gibeuse du foye. BB. le dessous.
C l'endroit où la veine caue passe à trauers du diaphragme.
DE le tronc de la veine caue.
FG les ligamens du foye.
H la veine porte.
I la cavité qui reçoit l'orifice du ventricule.

Figure VI.

A La partie gauche de la ratte
BB portion de l'epiploon qui appuye les veines de la ratte.
CC autre partie de l'epiploon.
D la partie superieure de la ratte.
E la partie inferieure.
FG les parties dextre et senestre.
H la ligne qui se voit en la ratte.
IK la partie caue de la ratte.
LL la partie gibbeuse.

II.

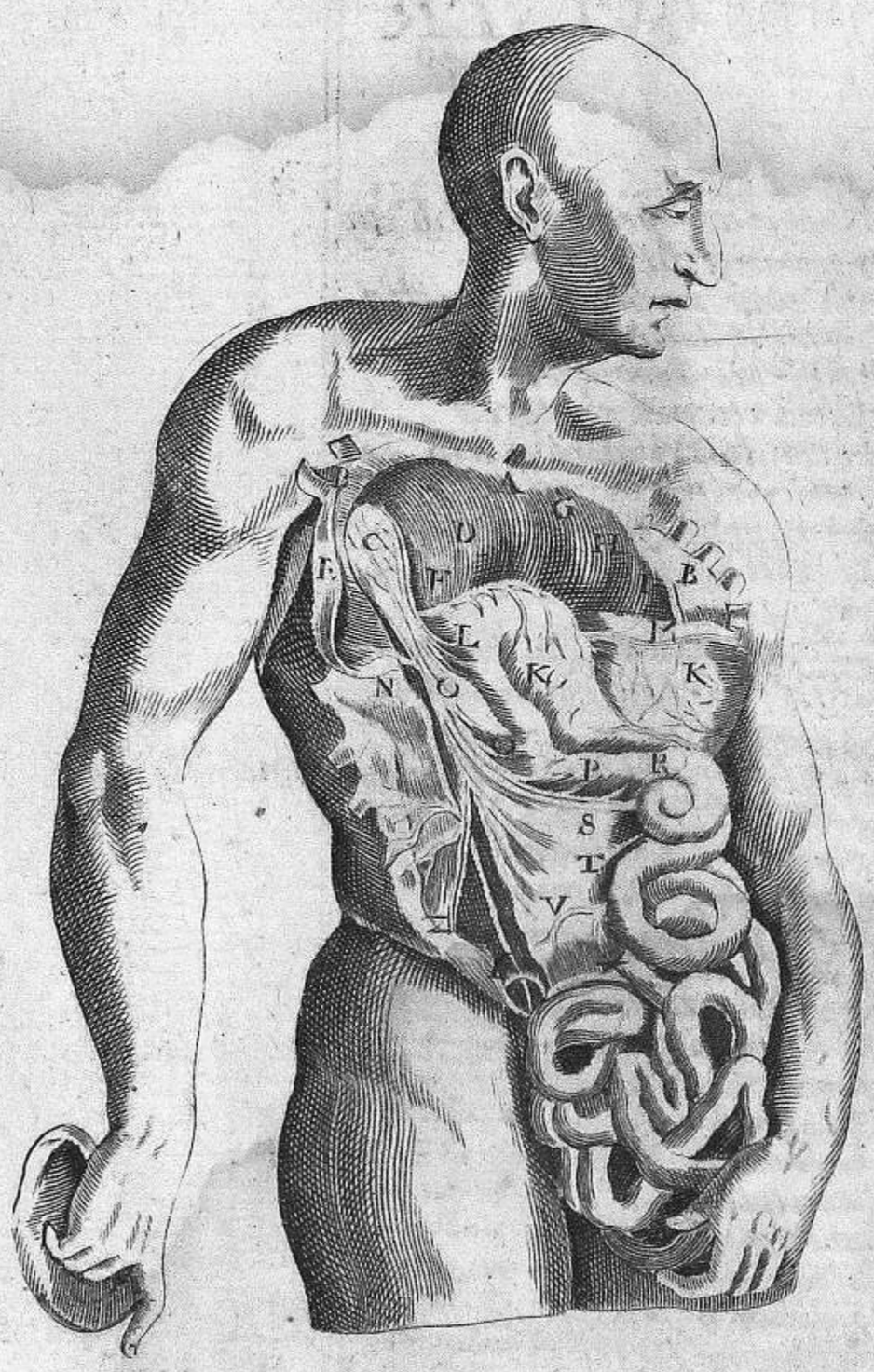

FIG. I.

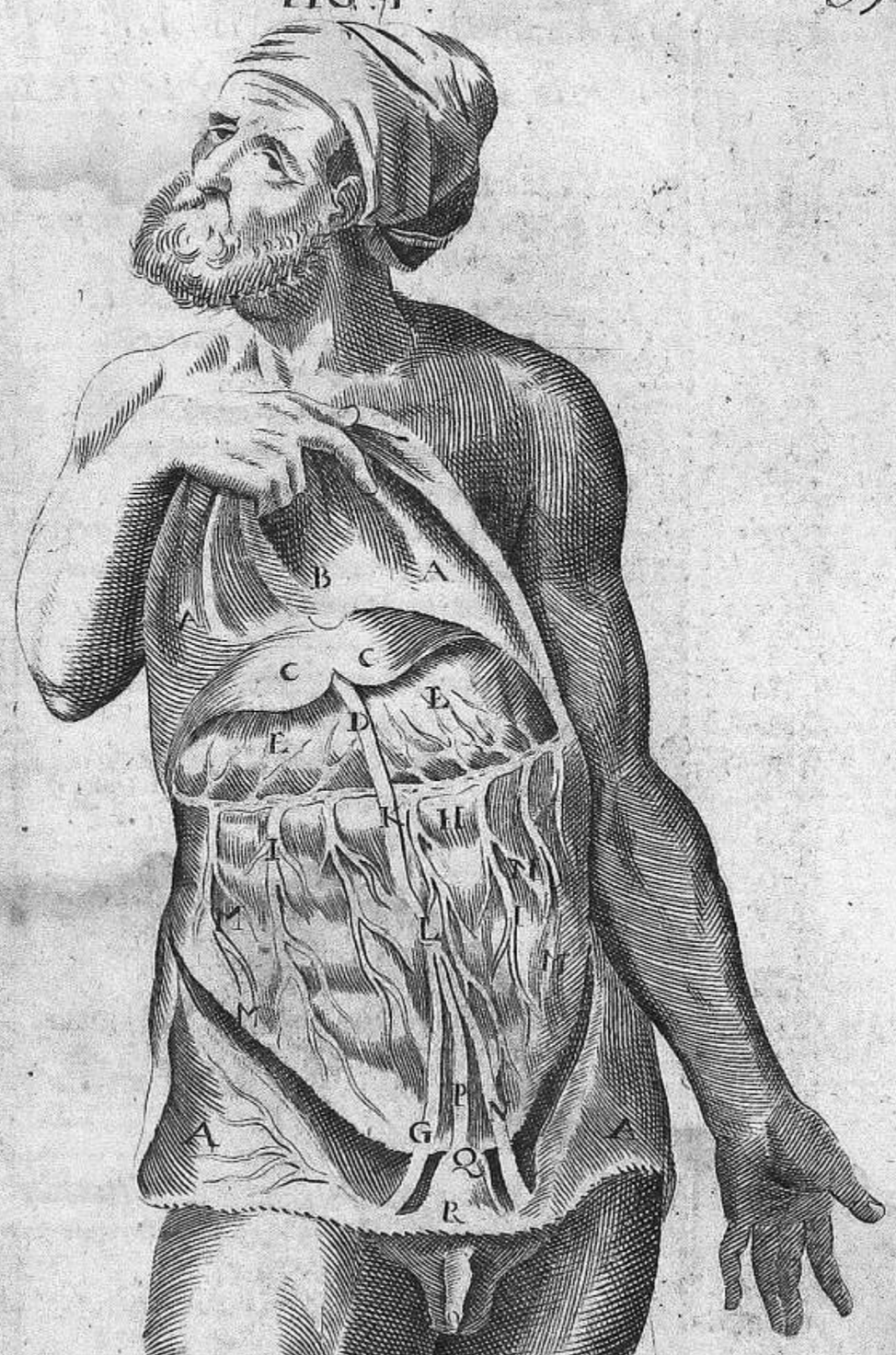

IIII

IIII

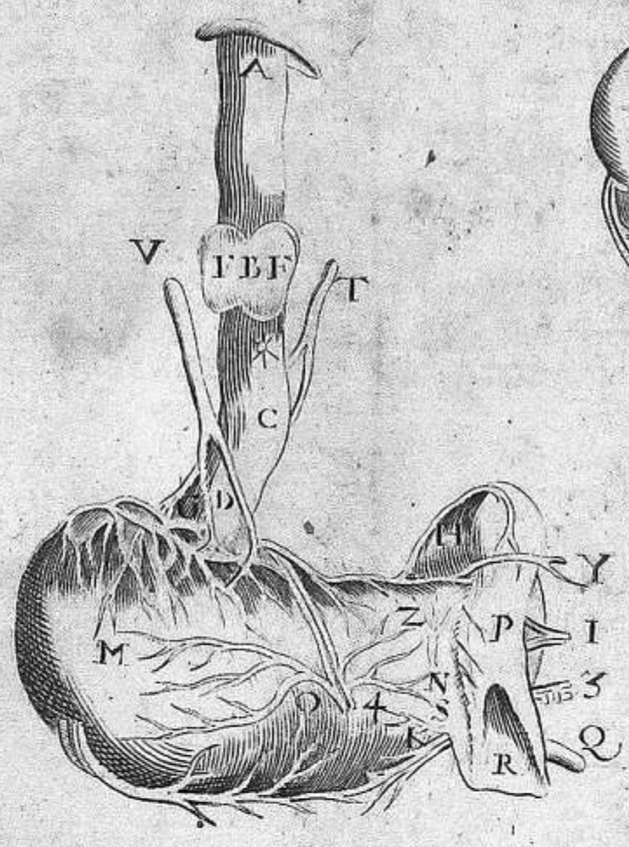

III

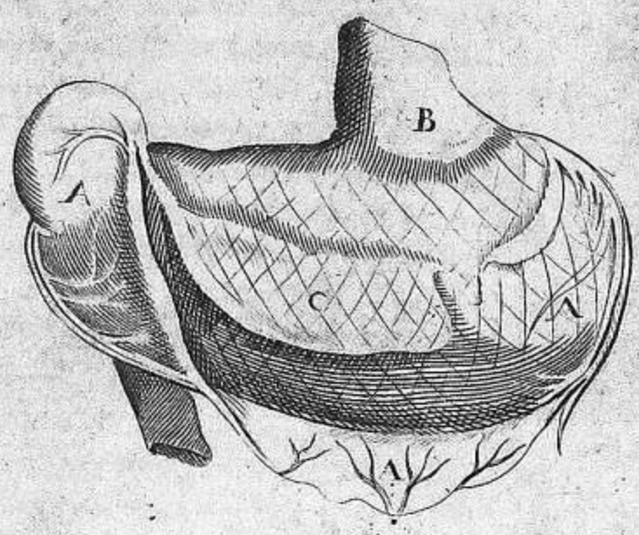

V

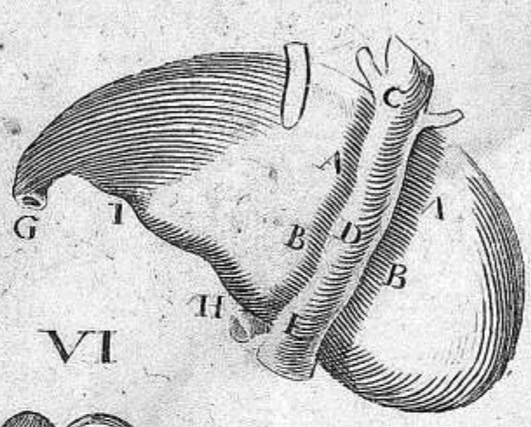

VI

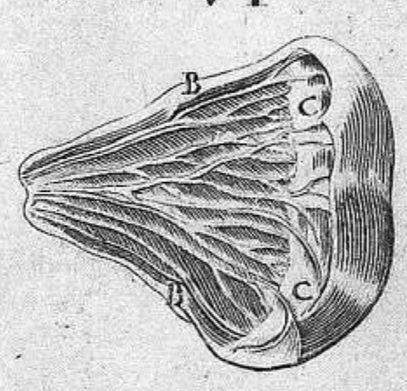

VI

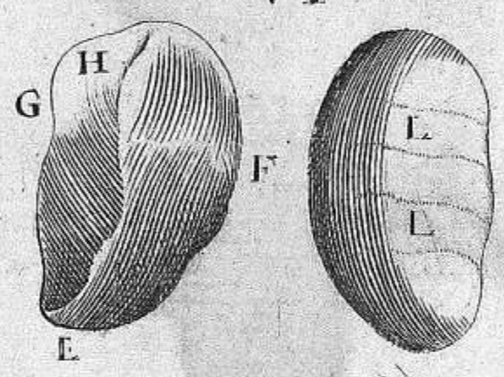

VI

Paillet Sculp

TABLE DEVXIEME DES PARTIES QVI SERVENT A LA NVTRITION.

Figure I.

AA Vne portion du peritoine.
B Le principal ligament du foye.
CC La partie gibbeuse du foye.
DD La partie caue.
E Le ligament dextre.
F La veine porte.
G Le tronc de la veine caue.
H Le tronc de la grosse artere.
I La veine adipeuse
K Les rameaux de la grosse artere
M les veines et artens émulgentes.
NO les veines et arteres spermatiques.
PP la membrane du roignon.
QQ Les rognons.
RSTT la veine spermatique gauche et la connexion des veines avec les arteres.
VV les arteres spermatiques.
XX les vaisseaux éiaculatoire.
YY Les vreteres.
1 La vessie de l'vrine.
2 Les prostates situez au col de la vessie.
3 Le muscle sphincter.
4 La veine honteuse.
55 Les ligamens caus de la verge.
6.7 Les deux tuniques des testicules.
9 comment les vaisseaux éiaculatoires sortent.
10 Les para statestenant aux testicules.

Figure II.

ABCDEFG. toutes ces lettres monstrent les parties du foye les rameaux de la veine porte et semblables qui ont esté cy devant descrites.
4 Comment la veine cauece de à la grosse artere.
5 L'artere lumbaire et la muscule
6 Fin du boyau rectum coupé.
7 Les vaisseaux éiaculatoires.
8 La vessie.
10 La production du peritoine.
11 La membrane couurant la verge, 12 La membrane nommée érythroïde.
13 Le scrotum ou bource.

Figure III.

AA le tronc decendant de la grosse artere, BB le tronc décendant de la veine caue.
CD Les veines et arteres émulgentes.
EF Les deux roignons
GGG Les vrteres
HH Les veines spermatique dextre naissante du tronc
II La veine spermatique gauche
K L'origine des arteres emulgentes
M La vessie decoupée
NN L'incertion des vrteres
O Le conduit commun a la semence et a l'vrine
Q le muscle sphincter
R Les vaisseaux spermatique preparans
S Les vaisseaux éiaculatoire
T L'insertion des vaiseaux preparans
VXY la teste du testicule
1,1 Le membre viril
2 Le conduit commun les deux nerfs caueneux

Figure IIII.

AB la partie dextre du testicule
CC Les veines et arteres spermatiques couppées
D Comment elles s'vnissent
EE d'où naissent les vasses éiaculatoires
FG La teste d'testicule
HI la teste du testicule separée
LM le testicule separé de l'epididyme
N L'union des veines et arteres
O Les vaisseaux des testicules
P Le testicule couuert de ses membranes
QR le testicule descouuert separé de sa membrane
TV le corps du testicule coupé

Figure V.

1,1 La membrane du rein qui est dans la cauité interne
2 le trou par lequel l'vrine coule dans l'vretere
333 les extremitez des veines qui se terminent dans la chair des reins
4 La partie de derriere
5 La partie de devant
6 L'vretere

II.

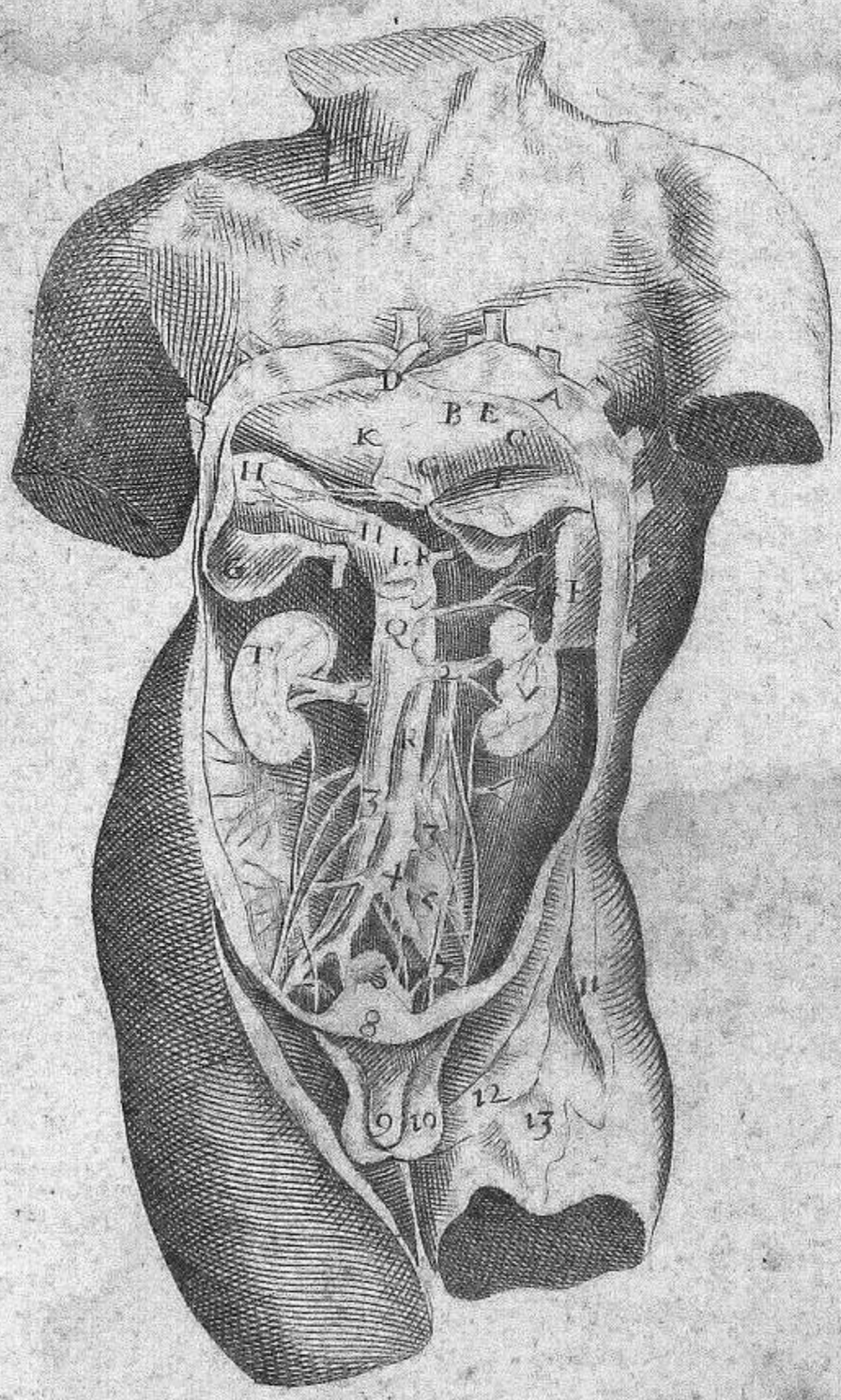

FIG. I.

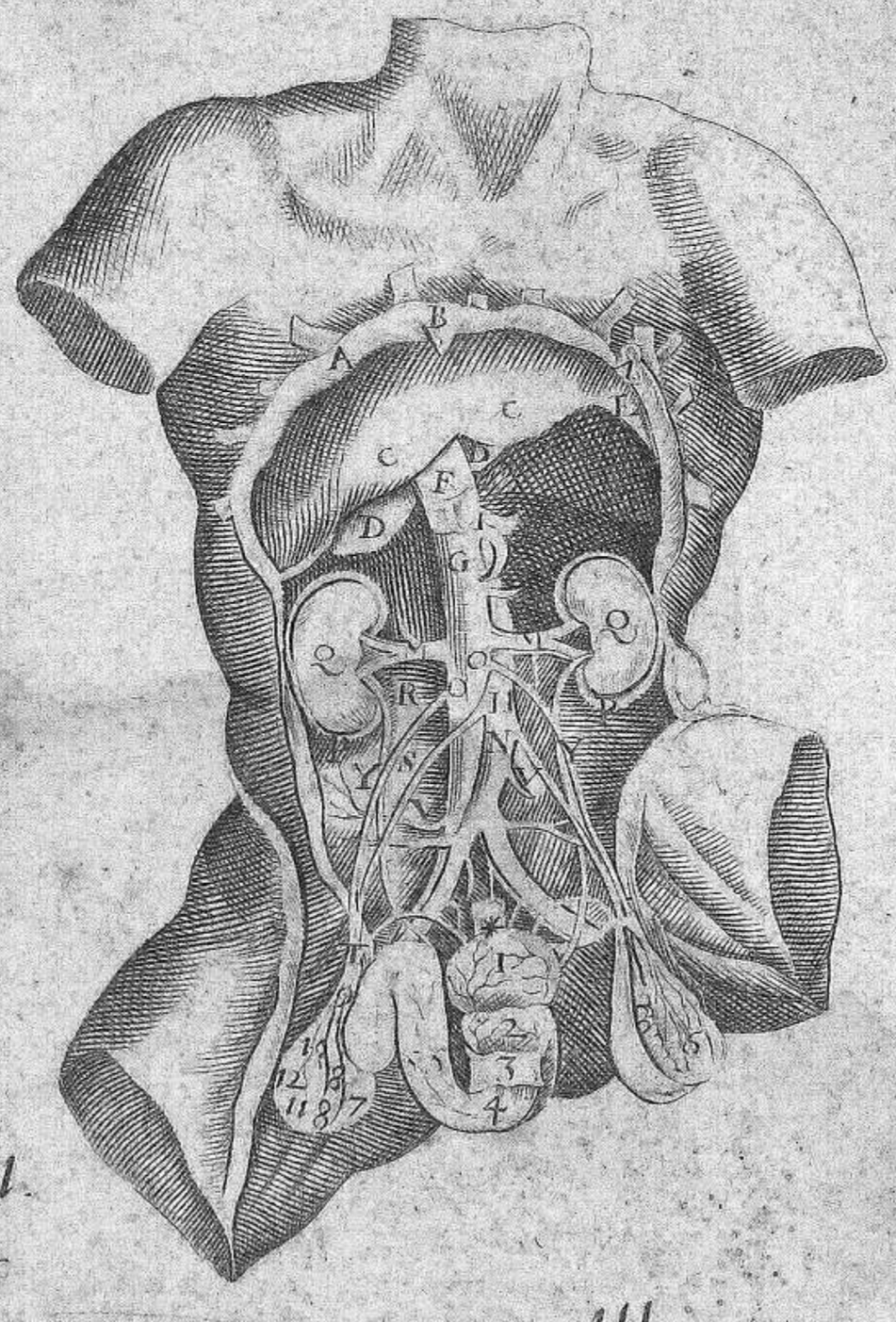

IIII.

III.

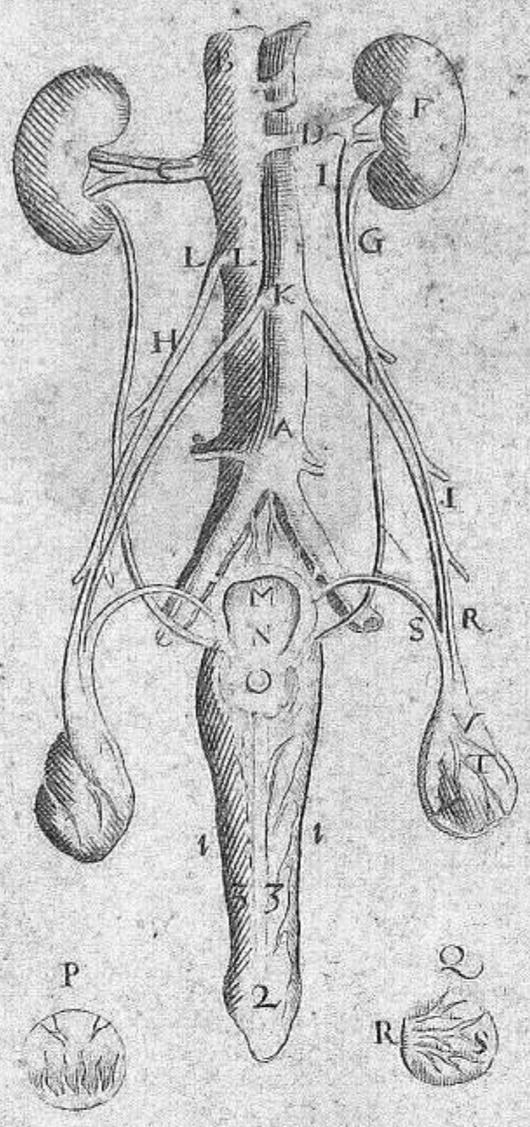

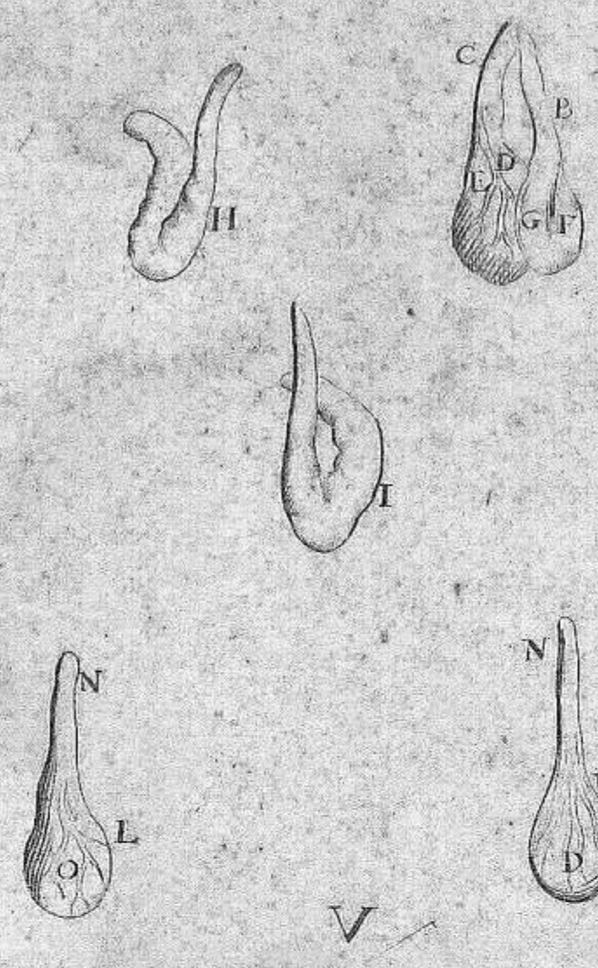

III.

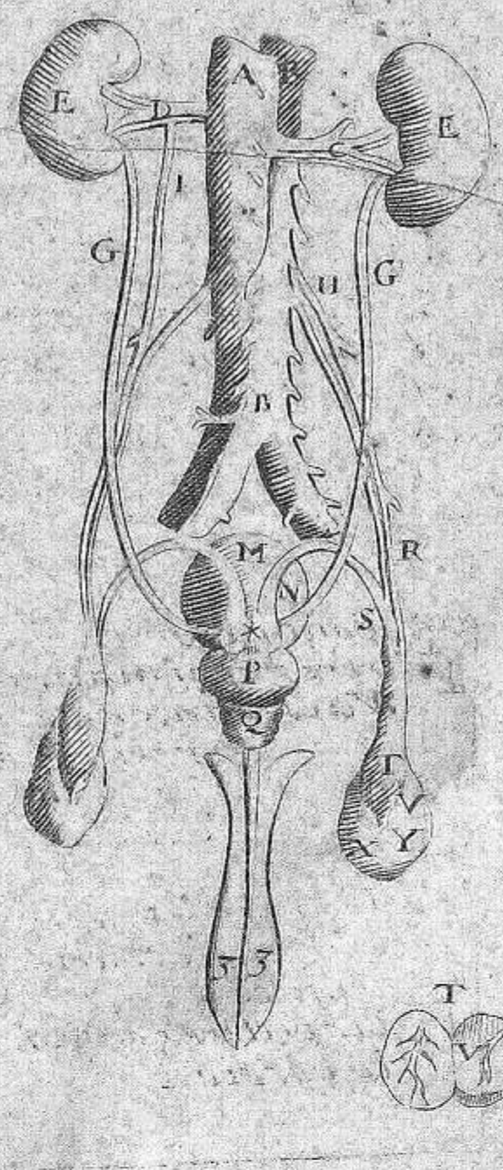

TABLE TROISIESME DES PARTIES DU VENTRE INFERIEVR

42.

Figure I.

A B C D. La partie interne du peritoine.
E E Vne portion du mesentere.
F G la membrane du mesentere.
H I Vne portion du mesentere qui attache le boyau colon.
K Le boyau rectum ou droit.
L Le fond de la matrice.
M N les testicules des femmes.
O O Membranes du peritoine qui attachent la matrice.
P Fibres charneux qui font le muscle de la matrice.
R S la partie de devant du col de la matry. T. la vessie couchée sur la matrice.
V Le nombril separé du peritoine.
X Vne portion de la veine ombilicale
Y L vrachos.
Z Les arteres ombilicales.

Figure II.

A B les veines mammaires externes.
C Le corps des mammelles.
D D Les glandes des mammelles.
E F G H. Le peritoine.
I K les veines mammaires internes.
L La partie gibbeuse du foye.
M N La partie cave.
O Le tronc de la veine porte.
P La veine caue descendante.
Q La grande artere descendante.
R Arteres qui se fouchent dans le ventre inferieur.
S T Les veines adipeuses.
V V Les veines et arteres émulgentes.
Y Z Les reins.
a a L'vretere coupé.
b c L'uretere dextre.
d e Les veines spermatiques.
f g Les arteres spermatiques.
i k Le corps de la matrice.
l L'orifice interne de la matrice.
o p Connexion des veines et arteres spermatiques.
q Vaisseaux attachant le testicule au peritoine.
r r r Les testicules.
f f Commencement du vaiseau éjaculatoire.
x x Le col de la matrice.
y Les veines et arteres hypogastriques.
4 Les vreteres entrans dans dans la vessie.
6 Les labies de la matrice.
8 Branchetes de la veine epigastrique
9 Le sphincter de la vessie.
7 Le col de la vessie tenant au col de la matrice.

Figure III.

A A B B la cavité de la matrice.
C D La ligne qui separe la cavité de la matrice.
E E E L'espaisseur du fonds de la matrice.
F F Le fonds de la matrice.
G G L'orifice interne de la matrice.
H H membrane de la matrice qui vient du peritoine.
I I Membranes qui attachent la matrice.
L Portion du col de la vessie qui finit dans le col de la matrice.
M le col de la matrice.

Figure IIII.

A La partie de devant du fond de la matrice.
B Le col de la matrice.
C D La partie interne de la matrice qui ressemble quasi au = gland de la verge de l'home.
E E membranes qui attachent la matrice.
F Le tèsticule gauche.
G Les veines et arteres spermatiques.
H La matrice.
K Les vaisseaux éjaculatoires
L La capacite de la vessie.
M Les deux trous.
N Les deux vretaires.

Figure V.

Cette figure represente la matrice, de laquelle on trouuera vne explication plus exacte dans l'vne des planches prochaines.

1111.

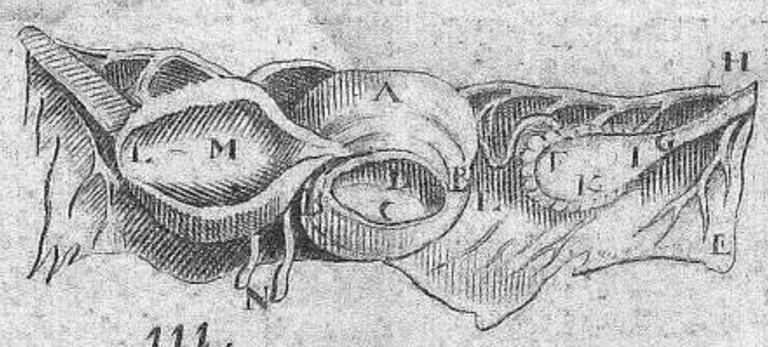

111.

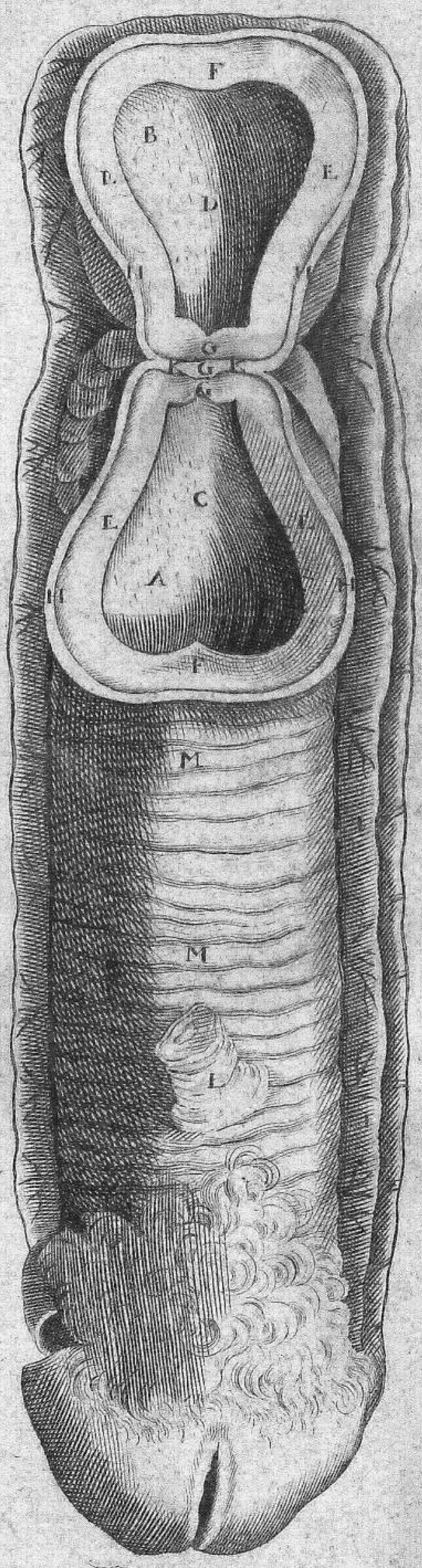

FIG. 1.

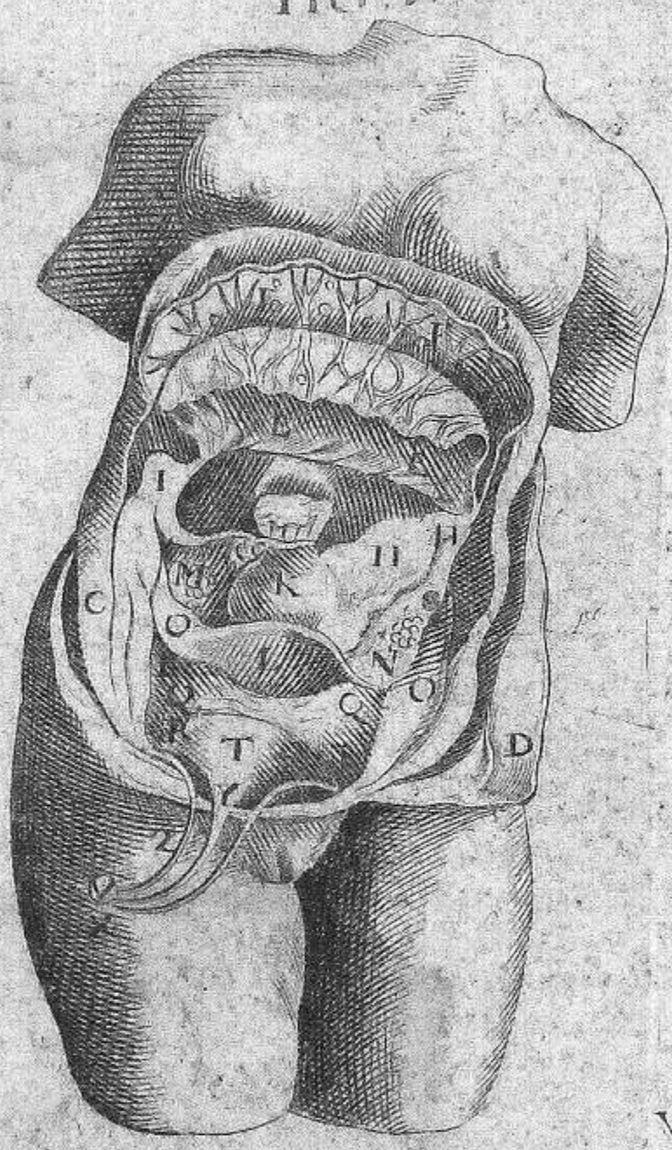

11

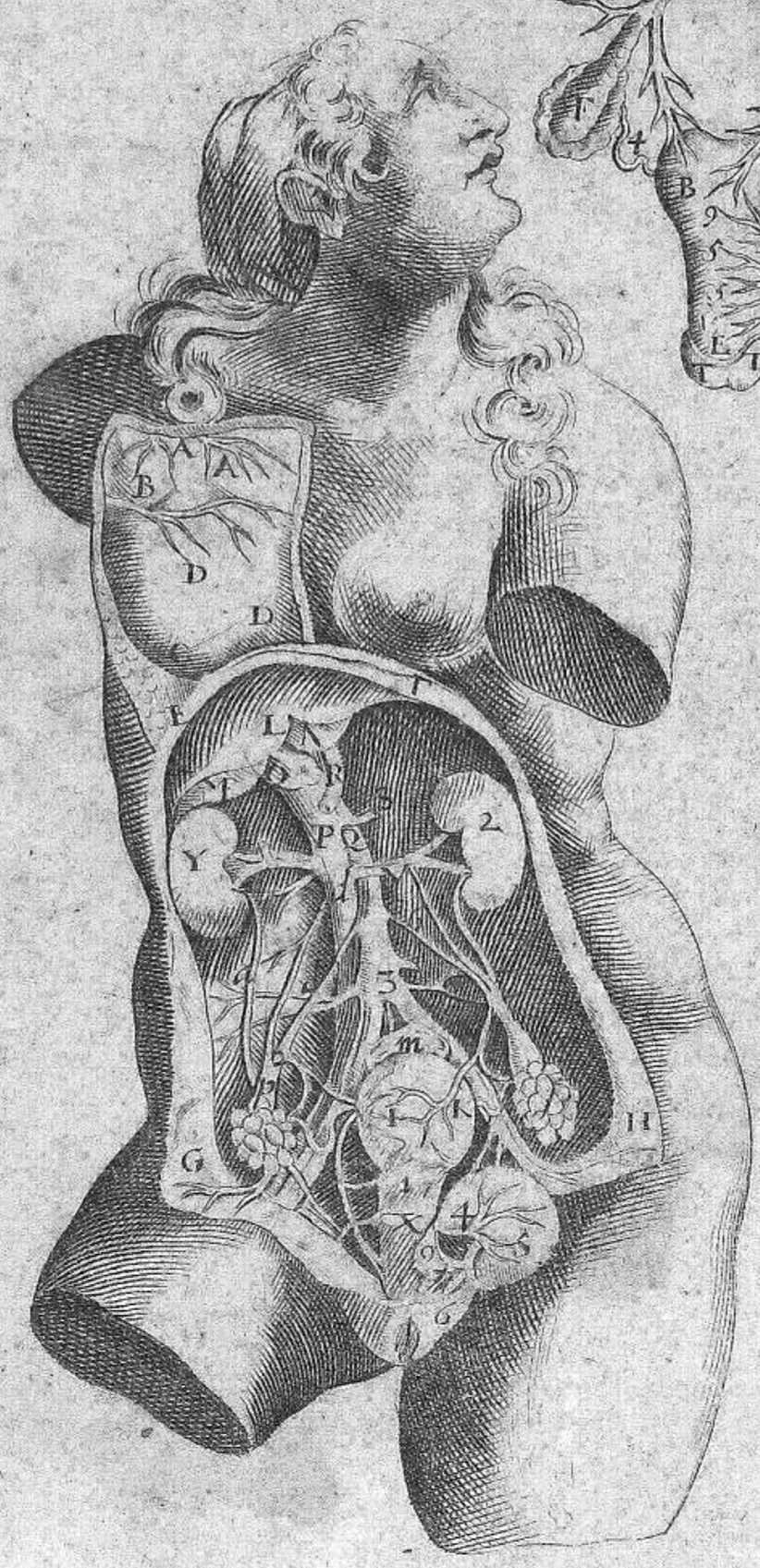

De l'enfançon en son ventre

Figure I.

A B C Le peritoine coupé en quatre parties.
E E Vne portion du foye aparente.
F F Le ventricule.
G H La reflexion du boyau colon.
I K les membranes ou liens par les quels la matrice est attachée
L La partie de devant la matrice grosse en laquelle est contenu l'enfant laquelle monte iusques au nombril.
O O Membranes naissantes du peritoine qui enuelope toute la matrice.
Q Commencement du fond de la matrice.
R Le siege et place de la vessie.
T T Les arteres ombicales qui viennent des iliaques.
S V L'vrachos, et le nombril.
X La veine ombilicale.

Figure II.

A B C D le corps de la matrice, et sa partie posterieure de coupée en quatre parties.
E E L'inferieure partie de la matrice en laquelle paroissent les orifices des veines, & le col de la matrice
H La veine honteuse.

Figure III.

III L'arriere faix hors de la matrice
K K la membrane dite chorion qui enuelope l'enfant de toutes parts dans laquelle paroissent des miliaces de veines et arteres.

Figure IIII.

L M N O. la membrane dite amnios qui enuelope le fetus laquelle est le receptacle de l'vrine et de la sueur car quand a l'allantoïde de cite par les Anatomistes nous ne la receuons point au fœtus humain
★ Les vaisseaux qui font le nombril.

Figure V.

P Q La premiere membrane qui enuelope le fœtus.
R vne portion du foye uterin ou chair de gasteau.
S S S les veines internes et externes.
T Comment tous les vaisseaux s'vnissent au nombril.
V Y La partie externe de la membrane amnios.
X X La partie interne de la mesme membrane.

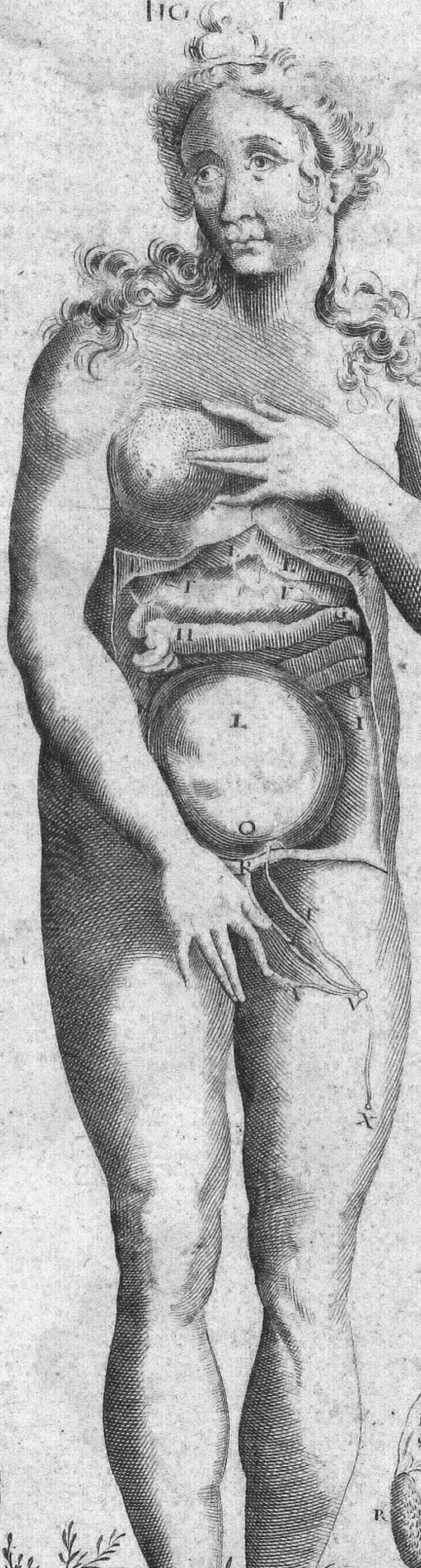
II
A
F
B
C
D
G
H
III
K
I
L
O
R
X
IIII
O
N
L
V
P
S
Q

LES VAISSEAVX SPERMATIQVES DES FEMMES.

Figure I.

AAAA. La chair de gasteau ou foye vterin dit les ariere fais -

Figure II.

BBB La membrane nomée chorion qui apuye tous les vaisseaux du fœtus -

CCC Les rameaux des veines et ateres ombilicales respandus partout le chorion -

DD Les vaisseaux du nombril qui s'assemblent en vn -

EEE La membrane dite amnios qui est le receptacle de l'vrine et de la sueur - Figure III.

FF Le fœtus de quatorze iours, auquel tous les membres paroissent formée

GG Les quatre vaisseaux du nombril s'assemblans en vn -

HH Comment les vaisseaux du nombril se grossissent peu à peu et c'est ce qui a fait que quelques vns ont douté s'ils naissoient de la matrice ou non -

III Comment les veines et arteres ombilicales se ramifient par vne infinité de scions dans le chorion

kkkk La membrane amnios dans la quelle se recueillent les vrines et les sueur dans lesquelles le fœtus nage et est assis comme dans vn bain sens en receuoir aucun domage -

Figure IIII.

Les vaisseaux eiaculatoires de la matrice -

LL le corps de la matrice -

M Le col de la matrice -

N Le col de la vessie finissant dans le col de la matrice -

OO Les testicules des femmes -

P P Les vaises spermatiques preparans

QQ Les vaisseaux éiaculatoires -

RR comment ces vaisseaux se divisent en deux rameaux, desquels l'vn va aux costez de la matrice -

SS conduit qui est porté au col de la matrice et n'entrepoint dans son fonds par lequel les femmes enceintes éiaculent leur semence -

Fig. I.

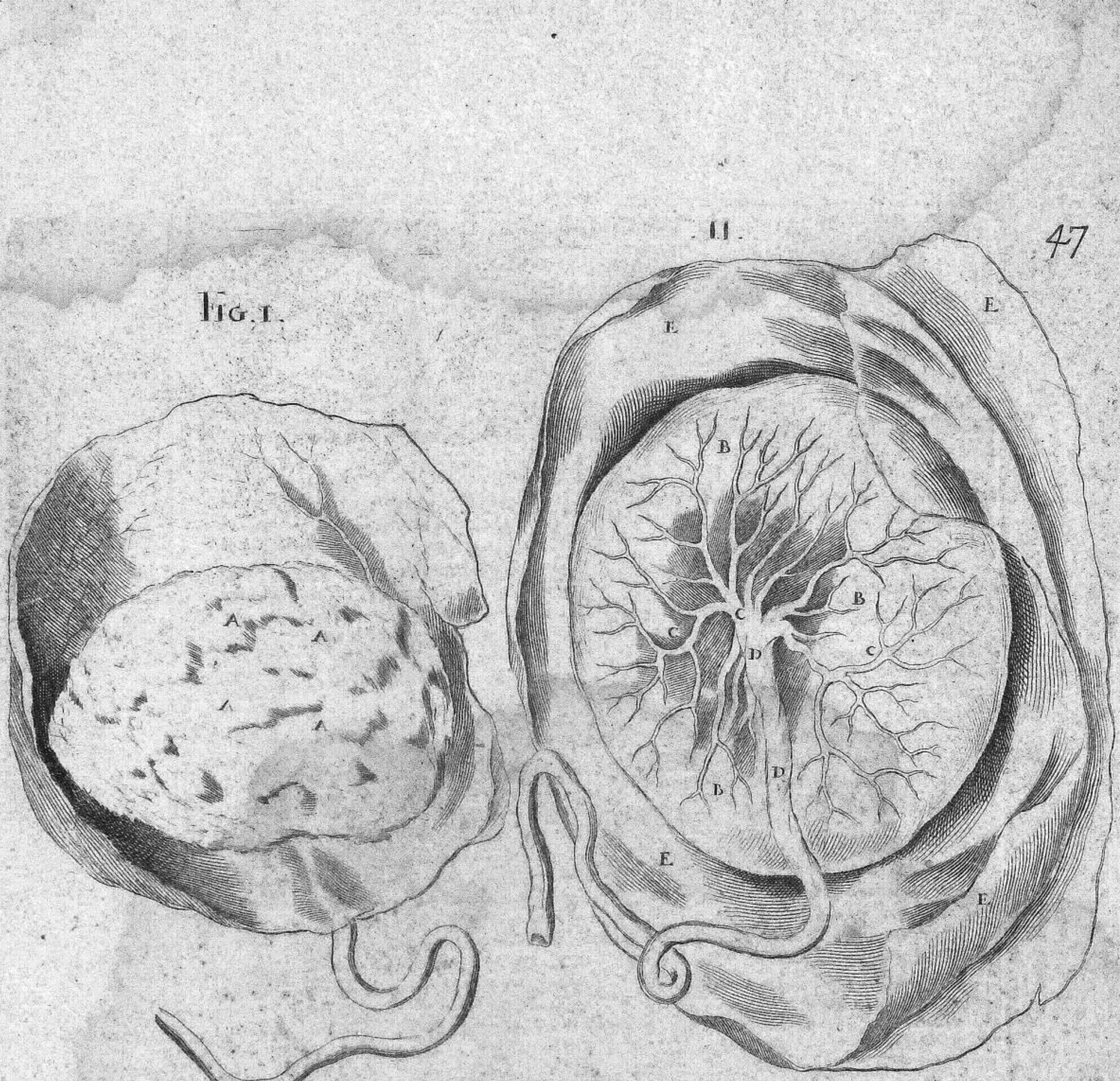

II

III

IIII

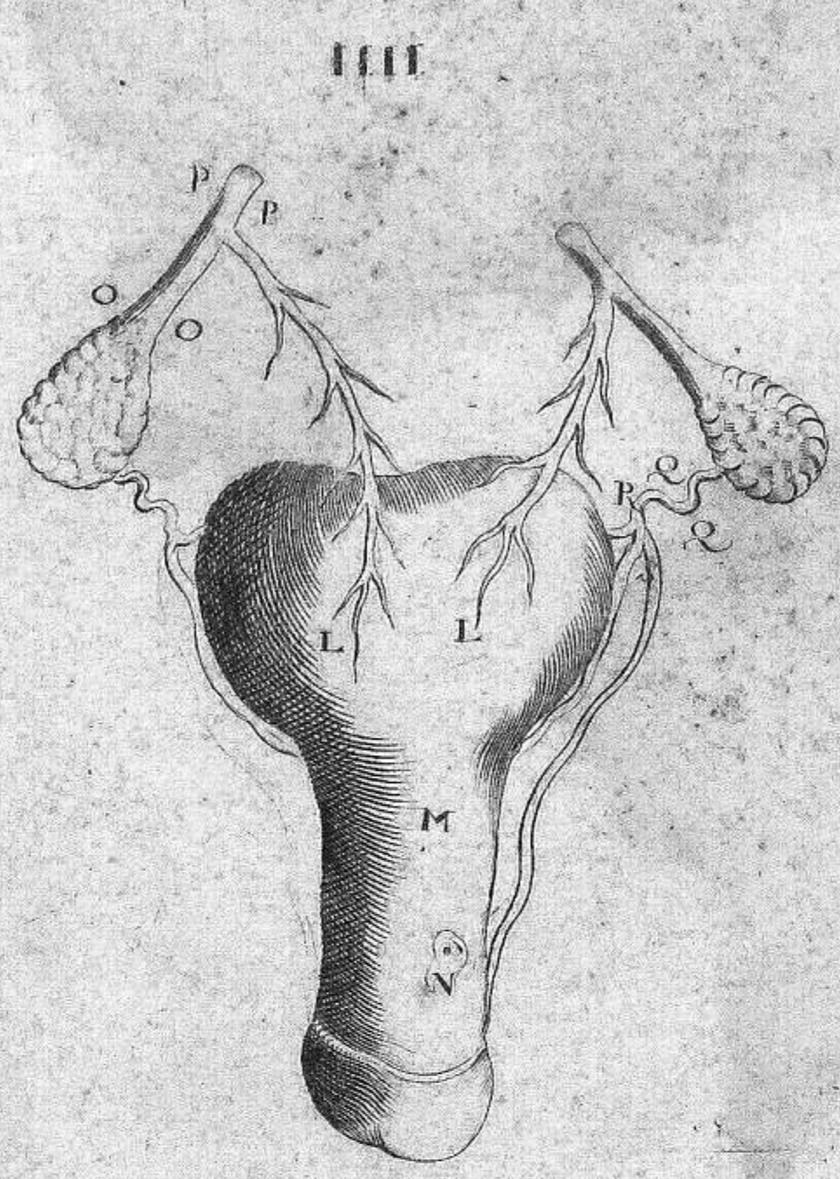

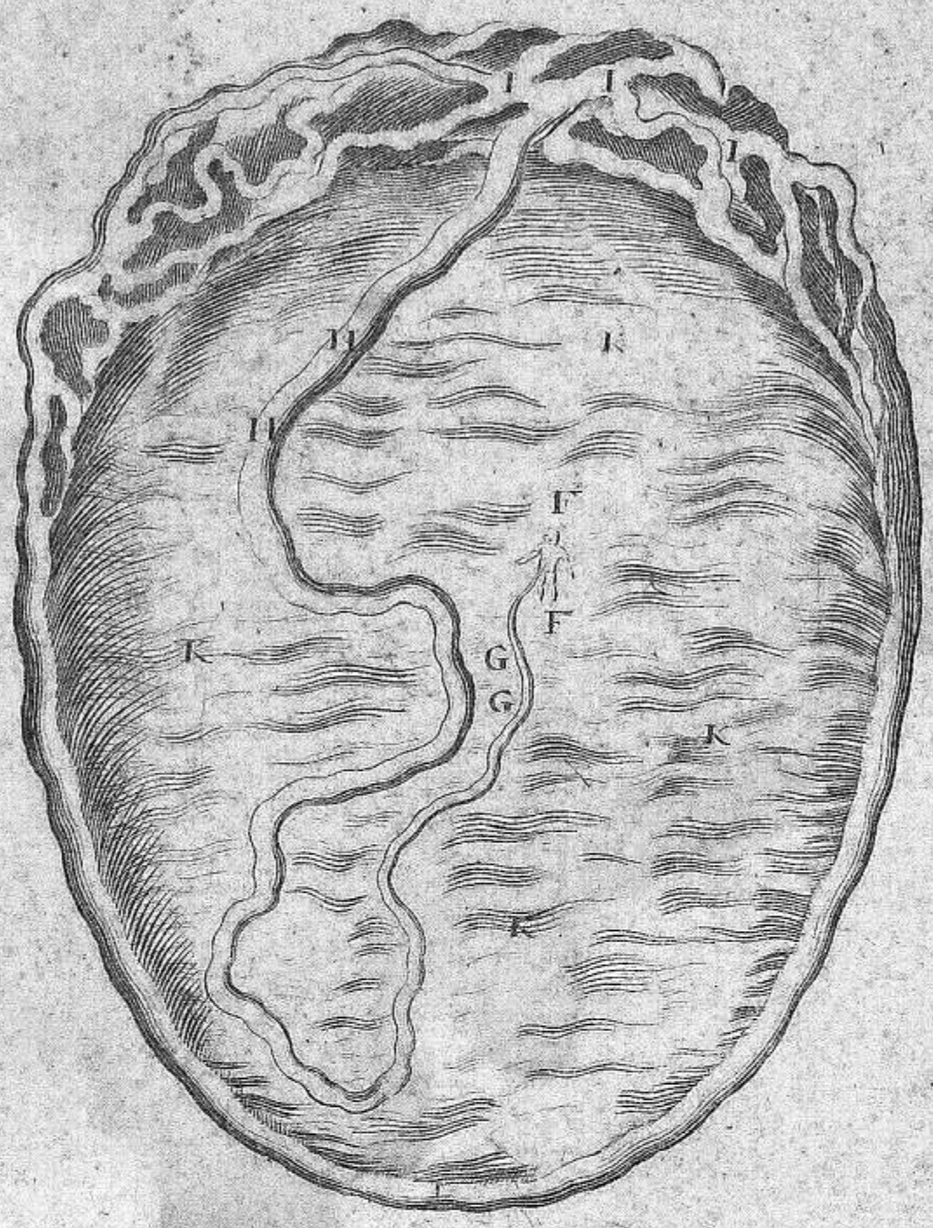

LES ORGANES VITAVX CONTENVS AV VENTRE MOYEN OV POICTRINE.

Figure I.

AA La fin des cartilages des costes -
BB Les muscles intercartilagineux -
CC Les costes separées des cartilages -
DE Les clavicules découvertes -
F Les vaisseaux axillaires -
G La iugulaire externe -
HH Le mediastin -
II La superficie du diaphragme -
K Comment le mediastin est atachéau diaphragme -
L La pointe du cœur -
MNOPQ La veine qui se respand au costé gauche -
RSTV La partie du poulmon qui emplit le costé gauche du thorax.

Figure II.

AAA La partie interne du sternon -
BB Les veines mammaires -
DE Les arteres mammaires -
F Le thymus ou phagouë -
G portion du mediastin qui decline vers le costé gauche -
HI Celle qui decline vers le droit -
KLL la cavité qui est entre les deux tuniques du mediastin -
MM La situation de la base du cœur -
NOPQ le poulmon gauche et droit -
RTV La peau de la poictrine -
* SS Vne portion du diaphragme separé du xyphoide -

Figure III.

A La veine cave et grosse artere -
B L'origine du pericarde -
CDE La base du cœur -
F La pointe du cœur -
G par cet endroit le pericarde est adherent au diaphragme -
H Vne portion du diaphragme -
II Les nerfs du diaphragme -
MNO Les lobes des poulmons -

La **Figure IIII.** represente le pericarde et le cœur tout decouvert et tous ses vaisseaux -

la **Figure V.** represente les poulmons et la partie droite du cœur.

A La partie dextre du cœur -
B L'oreillette dextre -
C Comment la veine cave s'ouure dans le cœur -
DE la veine caue perçant le diaphragme -
F La veine caue ascendante -
H Le tronc de la grosse artere -
K Le nerf de la sixieme couple -
LMNO Les lobes des poulmons -
P Les vaiseaux des poulmons -

Figure VI.

ABC La partie gauche du cœur -
DEE Les vaiseaux qui nourisent le cœur -
F L'oreillette senestre -
GH L'artere veineuse et ses ramaux
I Le commencement de la veine arterieuse -
LL Le poulmon gauche -
M L'oreillette dextre -
NN La veine cave -
O La grosse artere -

Les autres caracteres ont desia esté expliqués -

Les **Figures VII. VIII. IX. X. XI.** Representent les vaisseaux du cœur et les valuules tant demi circulaires que triangulaires -

Les **Figures XII. XIII.** repre sentent les poulmons -

A Vne portion de l'œsophage -
B Vne portion de l'artere trachée -
C La veine arterieuse -
D L'artere veineuse -
EFGH. Les quatre lobes du poulmon

III.

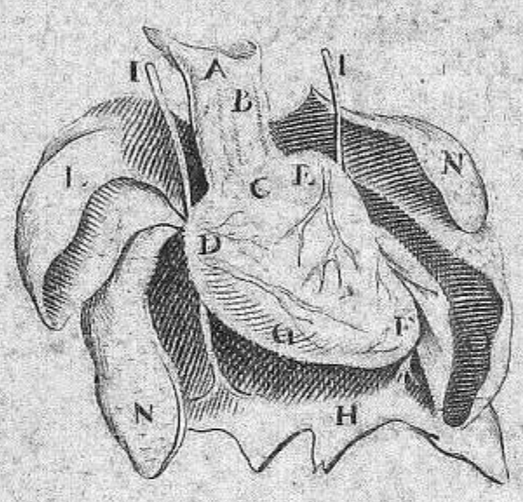

II

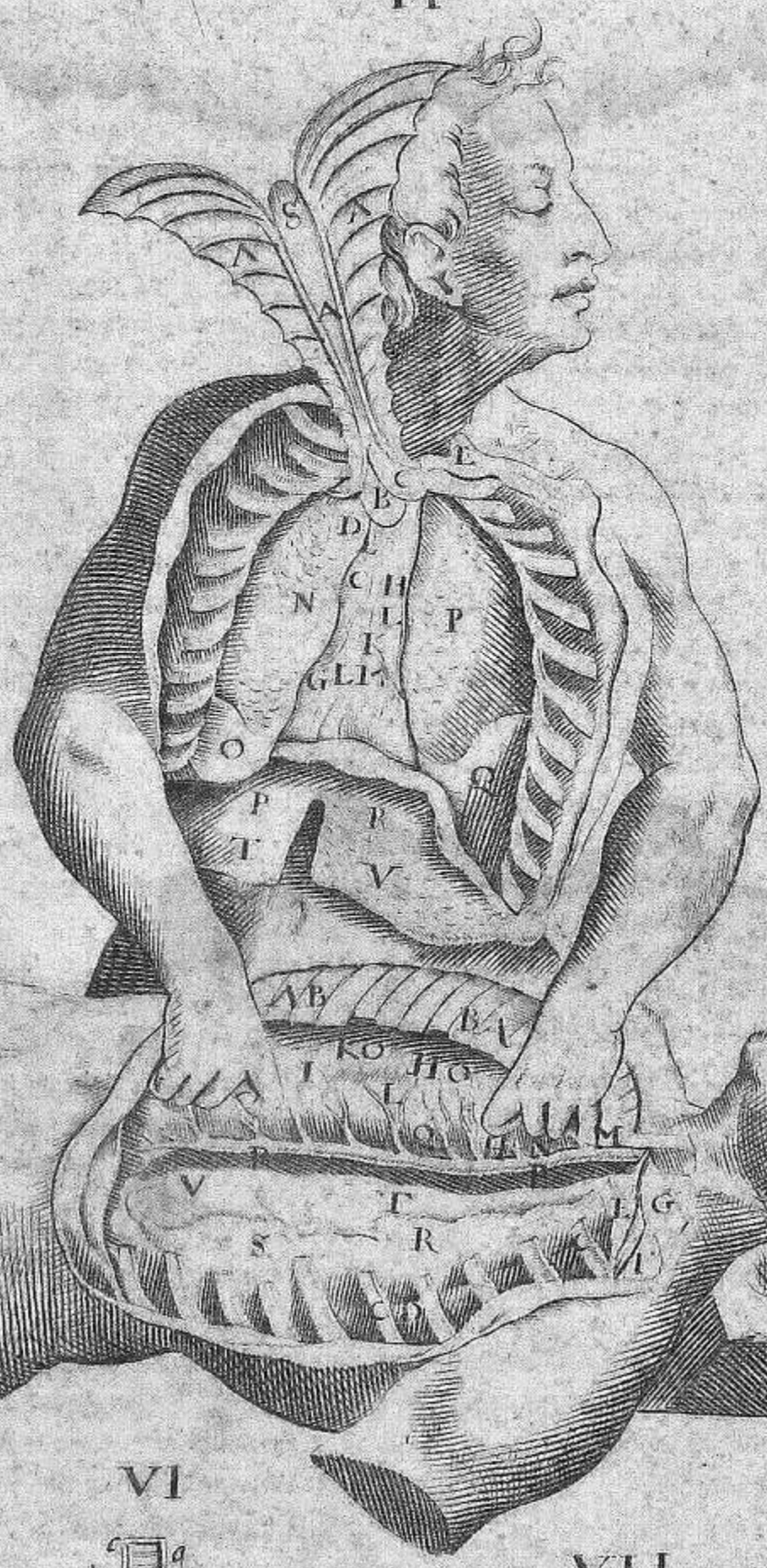

IIII.

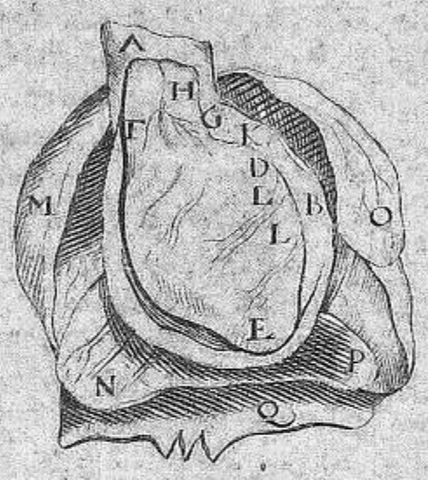

FIG. I.

VI

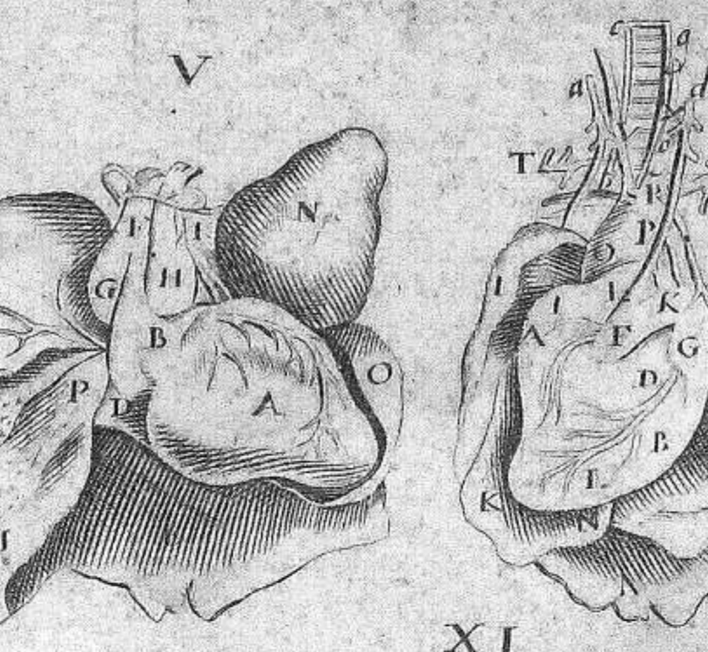

V

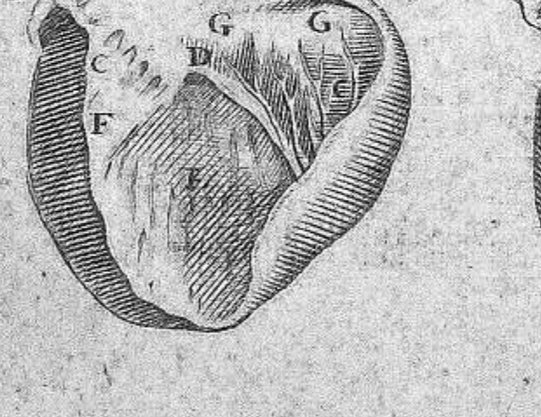

XI

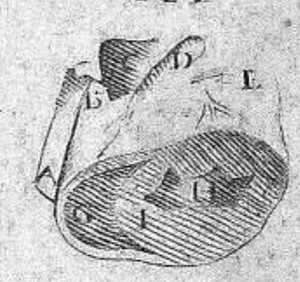

VII

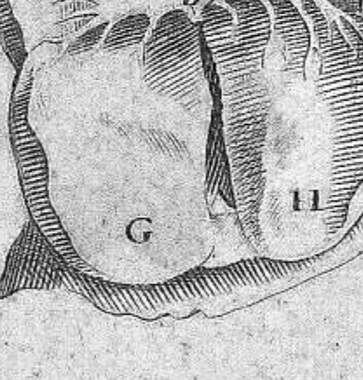

VIII

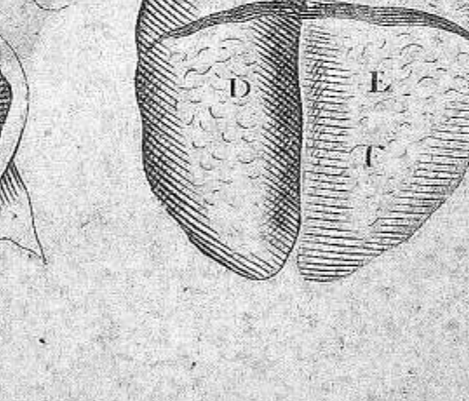

XII

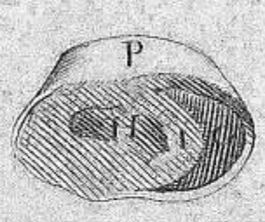

XIII

IX

X

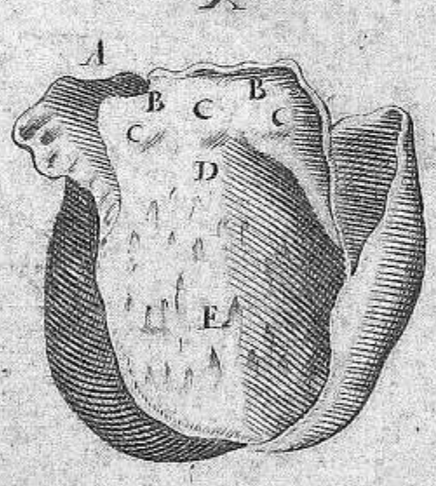

LES ANASTOMOSES QVI SE TROVVENT AV COEVR du Fœtus et de l'enfant nouueau nay.

50. Figure. I.

represente au naturel les figures du cœur: des poulmons, de la grande artere, de la veine cave, de la veine arterieuse et de la trachée artere, comme aussi liunion qui se fait de la grande artere dans la veine arterieuse par le moyen d'vn canal arterieux, laquelle sert pour la transpiration et vie du poulmon du fœtus, le pintre a manqué en ce qu'il a placé les parties dextres au senêtres.

- AAA tout le corps du coeur.
- B la grande artere sortant du ventricule gauche du cœur.
- C Le tronc ascendant de la grande artere.
- D Le tronc descendant.
- E La veine arterieuse.
- F Canal arterieux qui va de la grande artere dans la veine arterieuse et tirend ces deux vaisseaux continus.
- G G les lobes ou aisles du poulmon.

Figure. II.

- a Le tronc de la grande artere.
- b Le tronc de la veine arterieuse.
- c canal arterieux vnissant les deux vaisseaux.
- d La veine cav ascendante.
- e e e branches de la veine coronaire semées dans la substance du cœur.

Figure III.

- 1 Le tronc de la veine cave ascendant
- 2 Le tronc descendant.
- 3 L'orifice de la veine coronaire.
- 4 Le trou fort ample faisant l'anastomose.
- 5 La valuule ou portelette qui est aposée à cet trou.
- 6 La membranes triangulaires. situées en l'orifice de la veine cave.
- 7 La trachée artere.
- 8 Le larinx.

Figure IIII.

Represente la veine arterieuse et tous ses rameaux.

- A L'orifice de la veine arterieuse.
- B Division di celle veine en deux troncs.
- C Distribution d'icelle par toute la substance des poulmons.

51.

FIG. I.

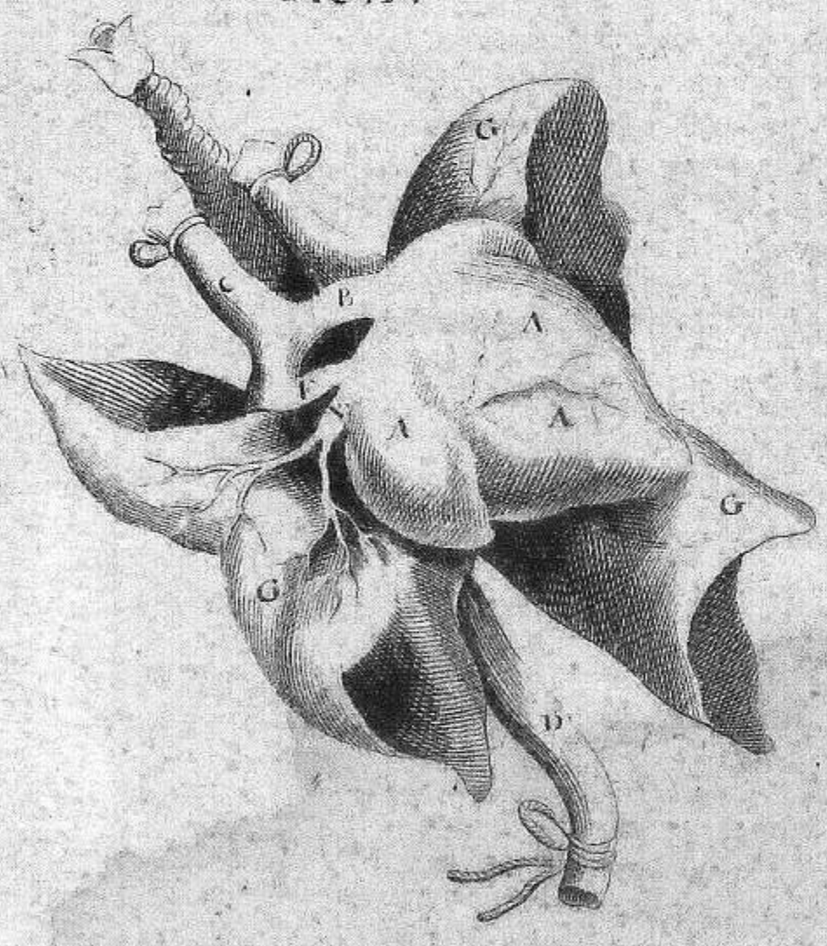

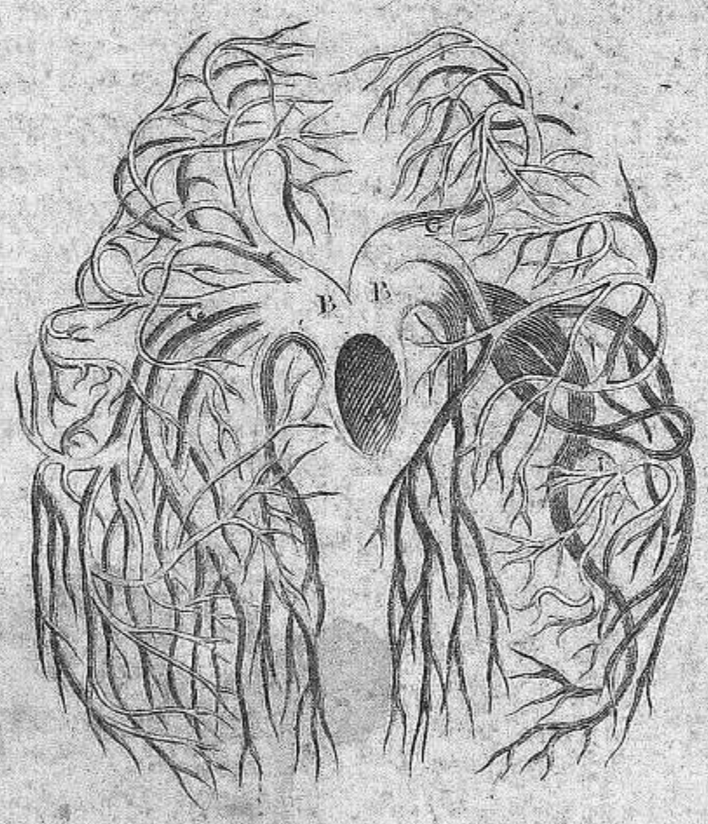

II

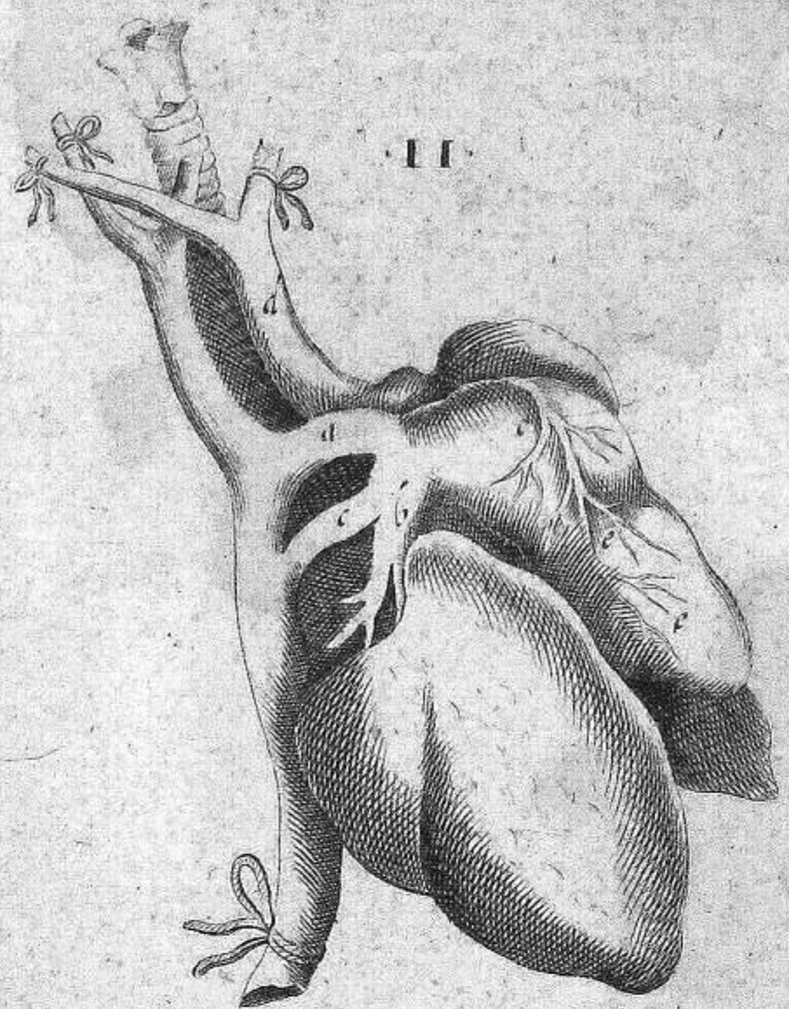

III

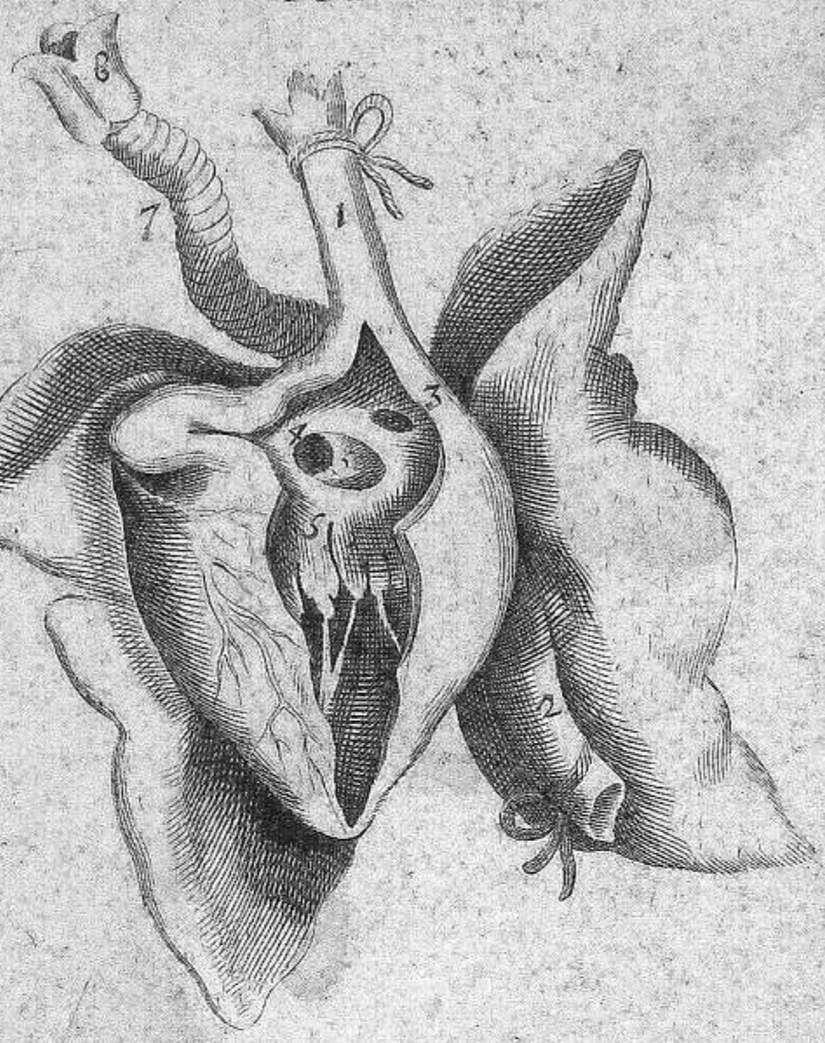

LES PARTIES DU CERVEAV

AAA Le costé dextre dela dure mere -
BB Le costé senestre -
CC La troisieme senuosité dela dure mere savançant selon la longueur dela teste
DD les vaisaux espars dans la dure mere -
E Les pelites arteres qui se trainent dans la dure mere -
FFF Siens sortans par les trous du crane et se distribuans dans le pericrane et la peau musculeuse, GGG. Fibres fort delicz afermisans et attachans la dure mere a une - HH - Fibres sortans par la suture sagittale pour l'origine du pericrane
II Fibres sortans par la lamdoïde pour le mesme vsage L la cavité de l'os du front
MN. Los du crane - L pericrane -

Figure II. AA troisiéme sinuosité dela dure mere -
BC La cavité et senuosité de couverte
DDD Vaisaux sortans dela sinuosité et se respandans dans la pie mere -
EEE La pie mere FF. Vaisaux espars dans la pie mere - GGG - Vaisaux dela dure mere - HHH la dure mere coupée en quatre parties -

Figure III AAA et BBB - parties senestre et dextre du cerveau -
CCC Lé ronds et anfractuosités du cerveau
DDD portion de la dure mere qui separe le cerveäu en partie dextre et senestre -
EE Les vaisaux du cerveau -
F vn conduit comme vne veine separan le cerveau en deux parties -
GGG branches de ce conduit -
H vaisaux sortans de la troisiéme senuosité - II. Vaisaux qui de la quatriéme sinuosité finissent dans les membranes. K commencement de la quatriéme sinuosité LL le corps calleux
MM Sinuositez aparentes aux corps calleux, N. L'endroit ou finit la portion de la dure mere qui separe le cerveau en deux et qui fait la fauille -
OO portion de la pie mere, et dure mere -

Figure IIII. AAA et BBB. La partie gauche et dextre du cerveau -
DD Les anfractuositez du cerveau -
EEE la partie grise ou cendrée du cerveau
GH la partie plus blanche du cerveau -
III. le corps calleux separé d'avec le cerveau -
LLMM les ventres superieurs du cerveau
OOPP les choroïde et les vaisaux plis choroïde
Q vaisaux qui vont à la membrane deliée

Figure V. ABCDEFGHILMNO PQR monstrent les ventricules, les vaisaux du cerveau, le plis choroïde qui ont deja esté desclavée - STV. le corps voûté porté sur trois piliers -
X La cloison transparente -
YY La partie superieure de la cloison -

Fig. I.

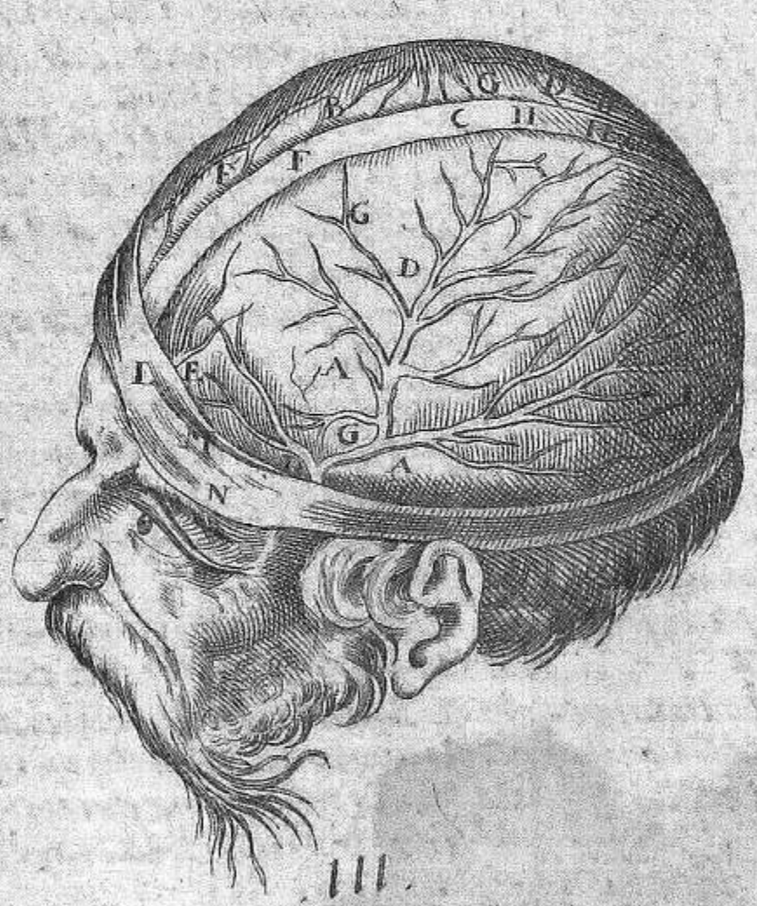

II.

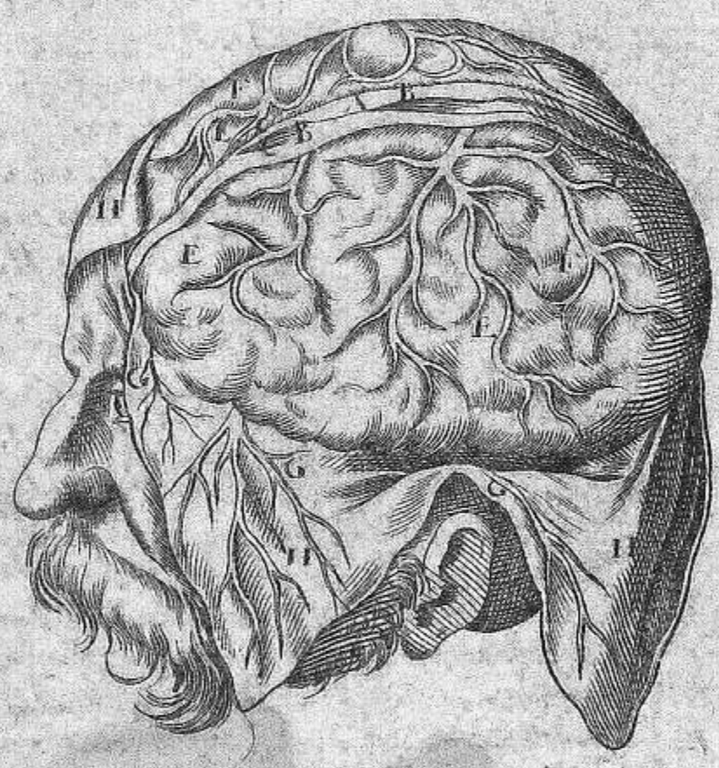

III.

IIII.

IIII.

V

VI

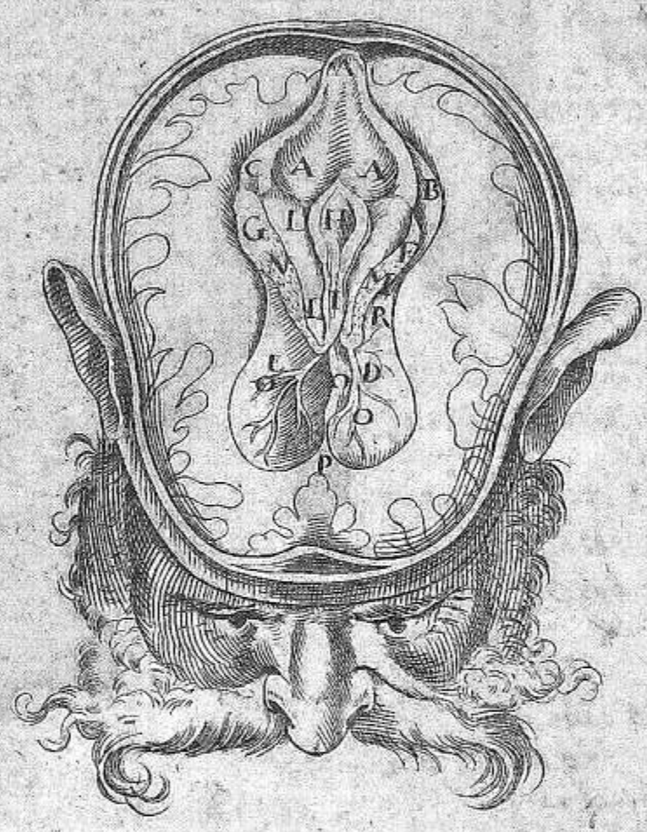

DEVXIESME TABLE DV CERVEAV.

Figure VI.

AAA La partie du corps voute qui couvre le troisiéme ventricule -
BC deux iambes ou piliers du corps Voûte -
DE Les ventricules senestre et dextre
FG Les deux arteres qui font le plis choroïde
H Vaisseaux de la quatriéme sinuosité
I Division dudit vaisseau -
kL Partie dextre et senestre de la division
MN Le plis choroïde -
OO Vaisseaux sortans de la quatriéme sinuosité de la dure mere -
P Autres vaisseaux épars en la pieme
Q Conduit allant de la troisieme sinuosité à la quatriéme -
R Canaux placez dans la substance des ventricules du cerveau -

Figure VII.

AA Partie senestre du cerveau -
BB Sa partie dextre -
CCC Les anfractuositez du cerveau -
DD La substance exterieure du cerveau qui est cendrée ou grisatre -
EE La substance qui est blanche -
FG Portion des arteres carotides -
H Partie inferieure du troisieme ventricule, K. La vulue -
L Le conarion ou glande pineiforme
NN Les fesses ou testicules -
OOO Production de la dure mere qui couvre le cervelet -
PP La sinuosité senestre et seconde faite de la duplicature de la dure mere -
QQ La sinuosité premiere et dextre qui s'avance par les costez de la suture lambdoide -
RR Le concours et rencontre des trois sinuositez que l'on nomme torcular ou pressoir -
ST La troisiéme sinuosité de la membrane, et la quatrieme -
V Le vaisseau sortant de cette quatriéme sinuosité -
XX Le cerebellum ou cevelet couvert seulement de la piemere -
Y Petits scions qui se distribuent dans la quatriéme sinuosité dans la piemere qui coure le cevelet -
ZZ Portion de la dure mere qui est attachée à l'os petreux -

Figure VIII.

AB La partie dextre et Senestre -
CDE Les anfractuositez et la partie grisatre, ensemble la partie blanche
FF Vne portion des arteres carotides
H La partie inferieure du troisiéme ventricule -
I Vn conduit allant à l'entonnoir -
★ La partie moyenne et posterieure du troisieme ventricule -
M Le conarion -
NO Les testicules -
RR Le cervelet L la vulve -
TVXYZ Les vaisseaux du cervelet et de ses membranes -

Figure IX.

AA Le cerveau coupé plus bas -
BCD Trois portions du cervelet renversées sur le deuant -
E L'apophyse vermiforme -
FGH Commencement de la medulle spinale, qui est au dedans du crane
I Le quatriéme ventricule -
K Les venules du cervelet -
L Les vaisseaux qui vont de la dure mere dans la pieme re -
PQR Les cavitez de l'os occipital ausquelles sont contenuës les trois partie du cervelet marquez par ces lettres BCD -
SSS La sinuosité senestre faite de la duplicature de la dure mere -
TTT La dextre -

Figure X.

AA La partie du cerveau de la quelle la moëlle de l'épine prend son commencement -
B Le conduit menant du trosiéme ventricule au quatriesme -
C Le quatriéme ventricule -
D Le conarion -
EFGH Les testicules et les fesses -
IK Les parties aus quelles la moëlle de l'espine est attachée -
LMNO La cavité au commencement de la medulle spinale qui ressemble à vne plume à écrire -

Figure XI.

AB La partie dextre et senestre du cervelet -
CC La partie du milieu du cervelet
D La partie anterieure du proceze vermiforme -
E Le conduit du quatriésme ventricule -
GG La portion du cervelet qui produit la moëlle dorsale -
I La partie posterieure de l'apophyse vermiforme -

Figure XII.

AABB les parties dextre et senestre
CD Les deux apophyses mamillaires . . organes principaux du flaire -
E La cavité dediée à recevoir l'apophyse mammillaires -
G La cloison qui separe les deux cavitez -
H La portion de la dure mere qui separe le cerveau en partie dextre et senestre -
IK Vaisseaux entrans dans le cerve
LMN Trois cavitez situées en l'os occipital -
OPQ Les sinuositez de la dure mere -

Figure XIII.

AABB Les parties dextre et senestre du cerveau -
CC Les apophyses mammillaires -
DD Les cavitez dediées pour recevoir lèdites apophyses -
EF Les veines du cerveau -
I Vaisseau sortant de la sinuosité de la dure mere et se respandant dans la pieme re -
k autres vaisseaux -
M L'vnion et entrecroisement des nerfs optiques -
NO Les nerfs optiques -
PQR rameau de l'artere carotid qui

receit et qui va au ventricule dextre du cerveau et dans la pieme re -
S Vne portion de l'entonnoir qui re coit la pituite qui distille peu a peu du cerveau -

Figure IIII.

AA Vne portion du cerveau avec le commencement de la medule spinale -
BB Vne portion des nerfs optiques -
CC L'entonnoir -
D Conduit allant du troisiéme ventricule du cerveau à l'entonnoir
EF Les rameaux de l'artere carotide
G La seconde coniugaison qui meut les yeux -
H Vn petit nerf seruant au goust -
I Le nerf du troisieme paire -
k La quatriéme coniugaison -
L Vn petit ramau du cinquiéme pai
M La cinquiéme coniugaison -
N Rameaux de la sixiéme coniugaison -
O Rameaux de la septieme -

Figure XV.

AB Les nerfs optiques -
CD Les arteres carotides -
E L'entonnoir -
F Le trou de l'entonnoir qui touche a la glande pituitaire
GG Vne portion de la seconde coniugaison des nerfs

Figure XVI.

A La glande pituitaire -
B L'entonnoir -
CC Vne portion de arteres qui montent au cerveau -
DEFG Les rameaux des dites arteres s'unissans ensemble -

Figure XVII.

AB Les arteres ascendantes qui font la rets admirable
CD Petits rameaux de la rets admirable, diversement enlacez -
E La glande pituitaire -

Figure XVIII.

A La glande pituitaire -
AC La situation des arteres entrées dans le crane -

Figure XIX.

A La glande pituitaire dédié ée pour recevoir les excremens de tout le cerveau -
B L'entonnoir -
CDEF Les conduits qui purgent la pituite et les serosité du cerveau -
Ce qui reste apartenant a la demonstration du cerveau et de la medulle spinale et et des nerfs naissans ils ont déia esté representé aux tables des nerfs au quel les on poura donc reprendre de la pour s'instruire plainemen

Fig. VII.

IX.

X

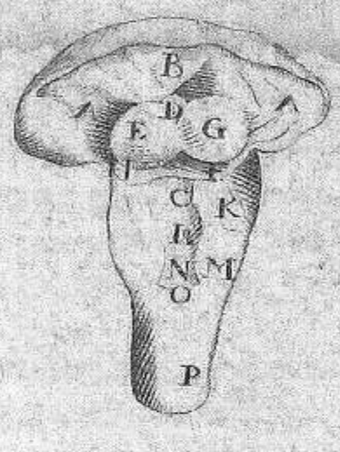

XI.

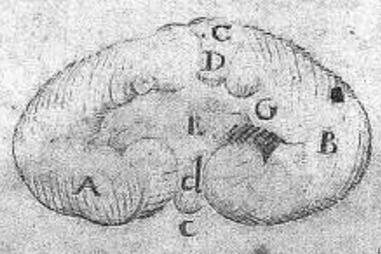

VIII

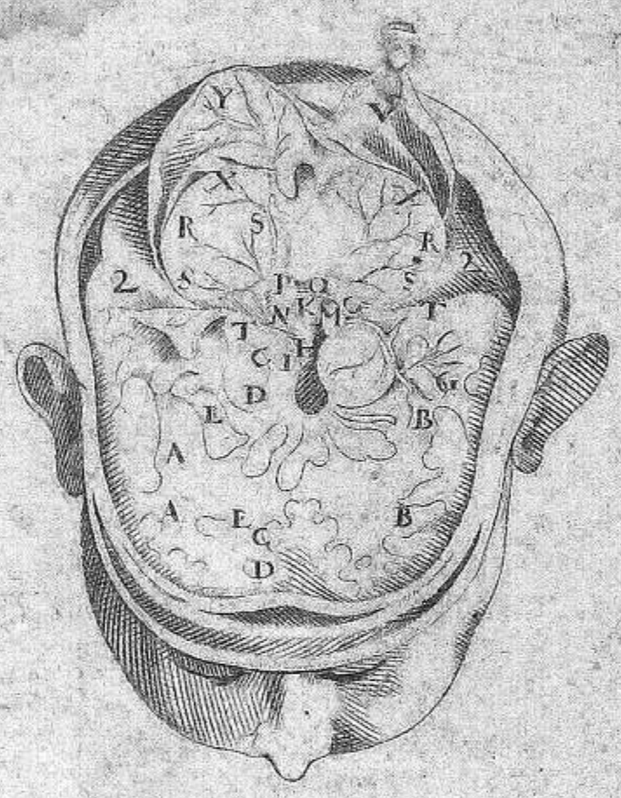

XII.

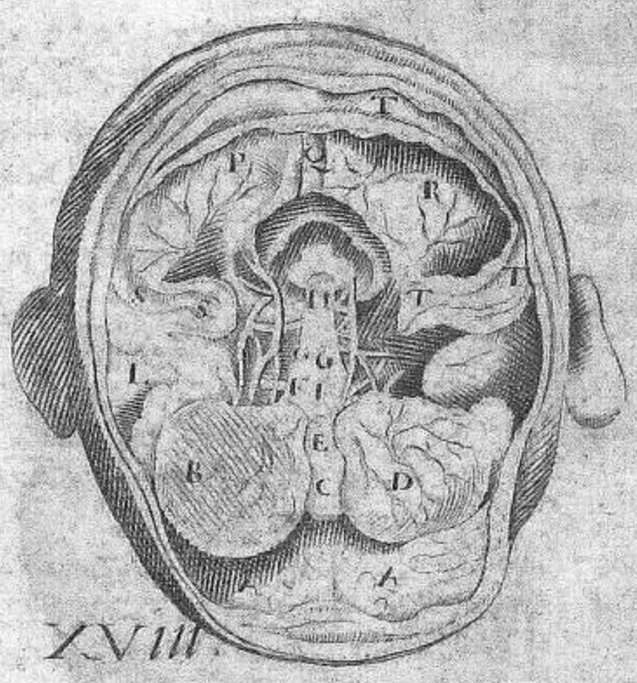

XVIII.

XV

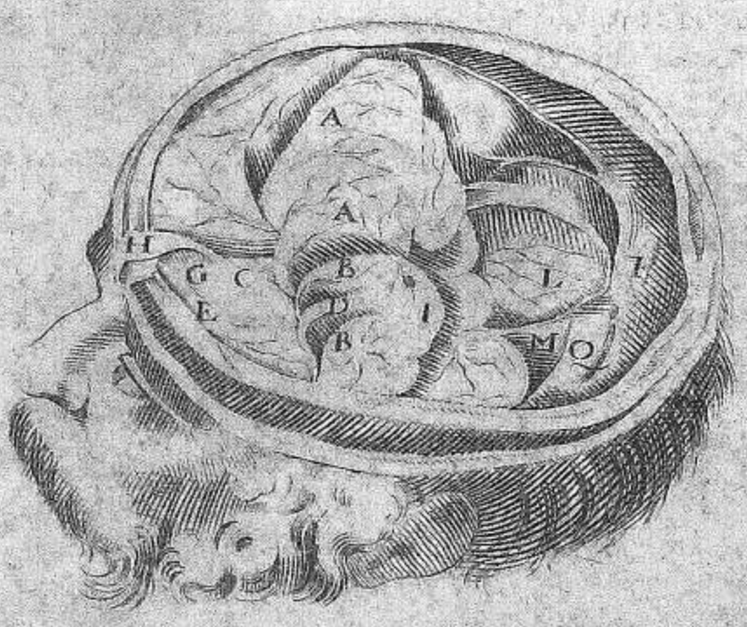

XVI.

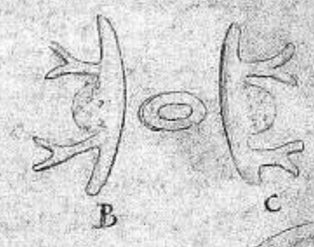

XIII.

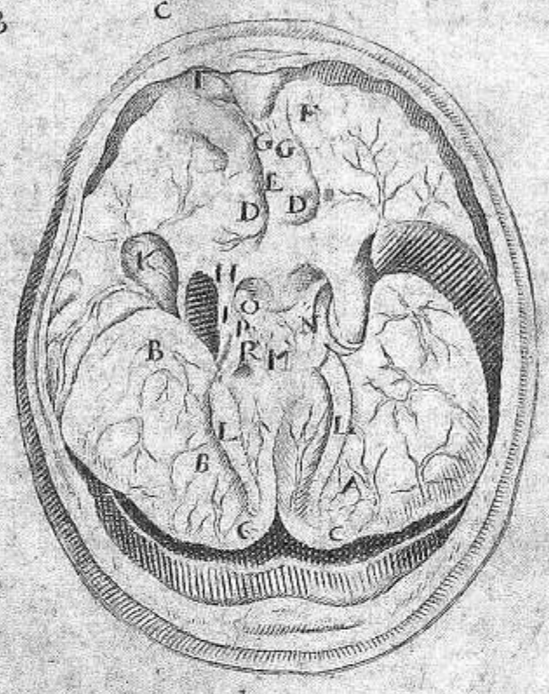

XIX

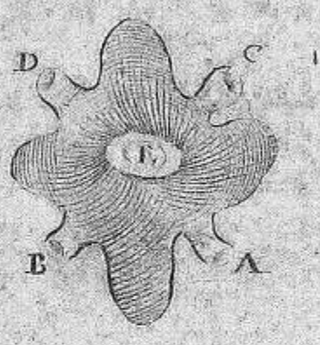

XVII.

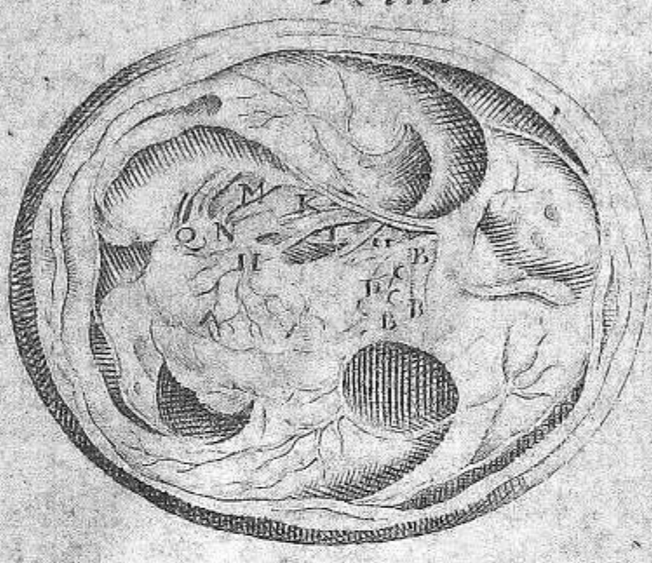

XIIII.

Humblot Ex.

Per le avventurate Nozze

Del Signor

Domenico Bottino

Ufficiale nel R.° Esercito, e Tesor.re della Città e Mandam.° di Vercelli

Colla gentilissima Damigella

Carolina Gagliano

Anacreontica

Fra 'l variopinto, e innumero
Stuolo di fiorellini
Che 'l praticello adornano
E vaghi, e graziosini;

In sul mattino lucido
Del rinascente Aprile
Tal ricerca cupido
Il Pastorel gentile

Soave viola, o mammola,
Vicino a cui l' auretta
Lieve spirando, e tremola,
Il cor gli allegra, e alletta.

Tal fra le Ninfe candide
Che alle vaganti sponde
Dell' aberrante Sesia
Eco vi fanno, e all' onde:

Sceglier sapesti, o Menico,
Leggiadra Verginella,
Che all' alma tua sensibile
Sia pura, fida, e bella.

Ebben mille distinguonsi
In CAROLINA i pregi,
Ed a ragione ammiransi
In Essa rari fregi.

Mira come rifulgono
In Lei nere pupille,
Che 'l core, e l' alma accendono
Di fervide faville.

In Lei virtude annidasi,
Shiettezza, ed Onestade,
Che vieppiù la rendono
Accetta ad ogni Etade.

Festivo dunque, ed ilare
Va in braccio alla tua Sposa,
Non pochi tu fest' invidi
Di tua sorte giojosa.

Al savio tuo giudizio,
Ed a' tuoi giusti lumi
Giorni daran propizii
Gli onnipossenti Numi.

La Casta, e Diva Pronuba
Fausta saratti ognora,
Chiari rampolli, ed incliti
Da te verranno ancora.

La tarda tua Canizie
Dolce a te fia, ed amena;
Fra i loro amplessi teneri
Risplenderà serena.

Sincera congratulazione dell' amico
D.re ■. L.

VERCELLI, DALLA STAMPERIA CERETTI.)(*Con permiss.*

Estampa XVIII.

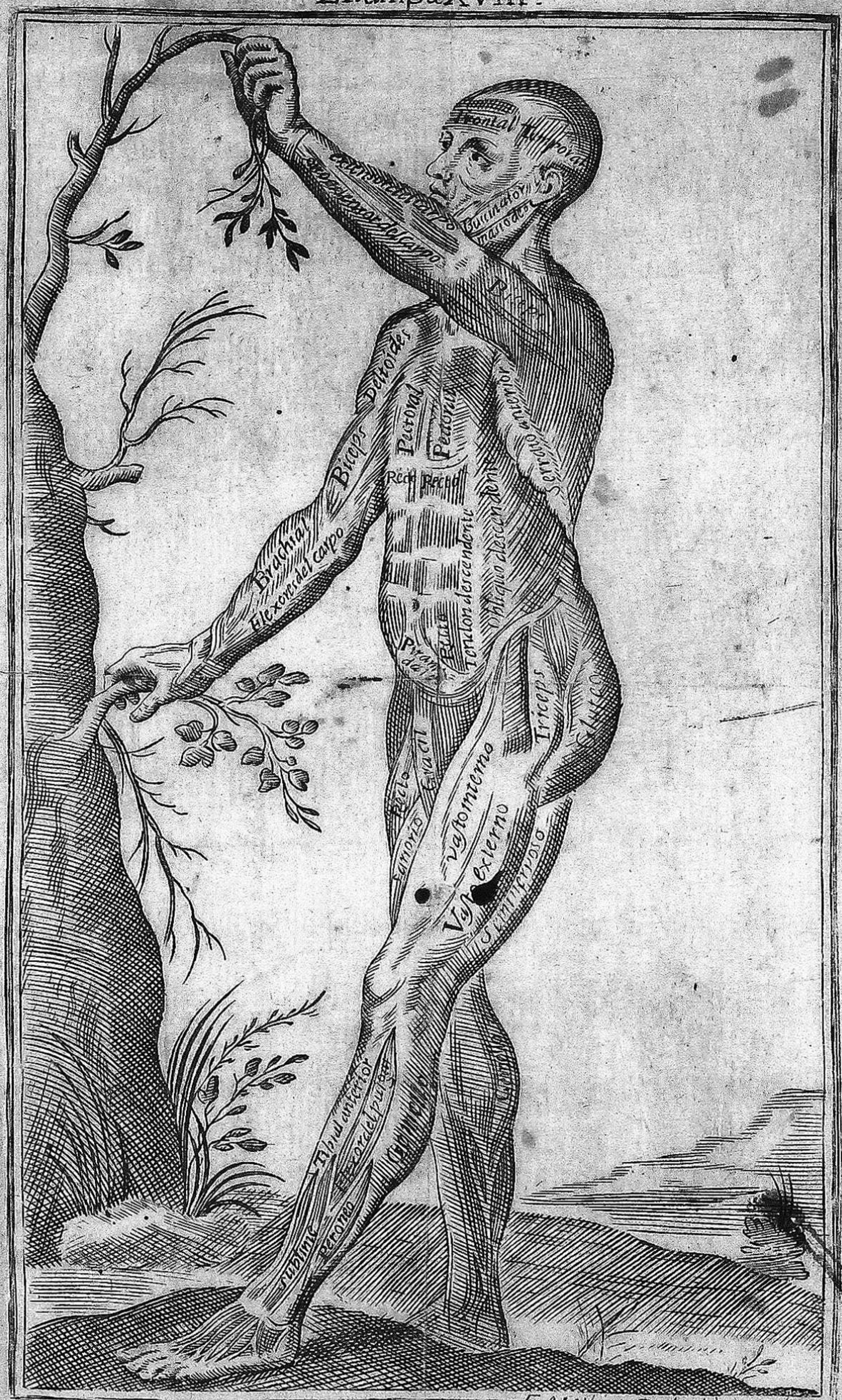

Dos fieles amigos del Señor Egmont
han venido para ver

aceau, = serupte = aceau = après d'arche de, dont la prieure cause le fole

ou cœur de Laurier, en honneur, en contempt de mort se sauve par la main qui vient de triompher d'un rival, ou s'égorge au cœur, et l'on frémit en voyant cette qui aime cruauté dans ses traits d'un feu sanguinaire et les moyens de ses forfaits. Les mœurs des gouvernements sont, avec profusion versés sur des établissements qui ne doivent que multiplier les crimes de la guerre, et tout en économie dans ceux qui doivent la réparer.

et l'homme à qui l'antiquité eut peut être élevé des autels, est inconnu dans le sein de pays qui l'honore.

Si dites que les arts d'agrément, favorisés les arts utiles: avant d'être embellie la humanité veut être consolée?

pour nous, amis fidèles de l'humanité, ne paraissant au milieu des combats que le front ceint d'olives, et les mains armées d'un fer bienfaisant, nous ne fréquentons point de champs, où notre devoir nous attache.

Définition de la douleur

La douleur est cet état de l'ame, qui compare sa position présente à son état passé, juge que le corps éprouve, dans quelques unes de ses parties sensibles ou dans son ensemble, des déchirements ou des altérations qui en dérangent la harmonie.

La douleur est, dit-on, gravative dans le cerveau, aigüe et pénétrative dans la méninge, lancinante et profonde dans les anfractuosités des os, pulsative dans les vaisseaux, aigüe, convulsive dans les nerfs et répondent à quelques uns des leurs externes.

= Plautina impudens nihil iniustius =

= Euclion mane, quam mendacem =

= Cur astutiores, quam meliores =

plerique.

Bucellati -

Contrade di Gerrau Vic. 1863.

Adultes

Cotonnade et pagnes
Indemnité.

Grains { 6. jaunes et Mion = Jaunes à peu près les 3/4 de la Longueur totale des Epis d'après.
5 = Blancs.

gros Coton et Cotonnade